小3 二等辺三角形と正三角形 そうごうテスト（その1）

なまえ ＿＿＿＿＿＿＿＿

つまずきを6つ、2問ずつ（100点）

学習日 ＿＿＿＿＿＿＿＿

・答えは □ に書く。○か×の 問は ○か×、えらぶ 問は 記号を 書く
・図の しるしの ついた 辺は 同じ 長さ。図の 数の たんいは cm。文章題は たんいも 書く

1 8点
この 三角形は
二等辺三角形
ですか。

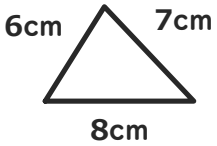

□

2 8点
二等辺三角形ABC。
角Bと 等しい 角は
どれですか。

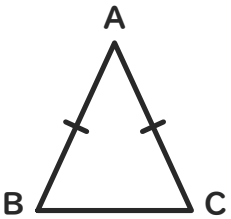

角 □

3 8点
コンパスを 6cmに
開いて かいた 図。
まわりは 何cmですか。

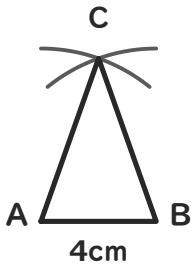

□ cm

4 8点
この 二等辺三角形の
まわりは
何cmですか。

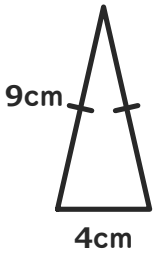

□ cm

5 8点
この 三角形は
正三角形ですか。

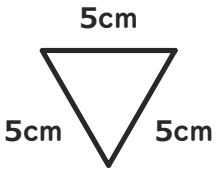

□

6 8点
正方形を 点線で
切った 三角形は
二等辺三角形ですか。

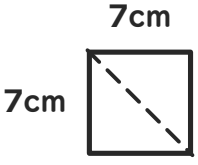

□

7 8点
長方形を 点線で
切った 三角形は
二等辺三角形ですか。

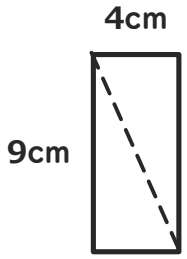

□

8 8点
辺の 長さが 下の 三角形で、
二等辺三角形は どれですか。

ア 7cm・8cm・6cm
イ 5cm・9cm・5cm
ウ 4cm・6cm・8cm

□

9 9点
三角形ABCは、辺ACと 辺BCが
同じ 長さの 二等辺三角形です。
角Aと 等しい 角は どれですか。

角 □

10 9点
まわりが 26cmの 二等辺三角形。
等しい 辺は 8cmずつです。
のこりの 辺は 何cmですか。

（たんいも 書こう）

□

11 9点
コンパスを 5cmに
開いて かいた 図。
ACと BCの 合計は？

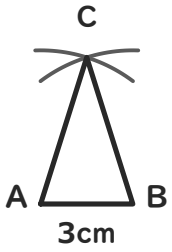

□ cm

12 9点
アと イの うち、正三角形は
どちらですか。



□

小3 二等辺三角形と正三角形 とっくんドリル①-1

なまえ ＿＿＿＿＿＿＿＿

二等辺三角形と 正三角形の 見分け（12問）

学習日 ＿＿＿＿＿＿＿＿

・辺の 長さを 1本ずつ 見くらべる
・○か×の 問は ○か×、えらぶ 問は 記号を 書く。図の 数の たんいは cm

1 この 三角形は 二等辺三角形 ですか。

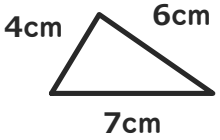

□

2 この 三角形は 正三角形ですか。

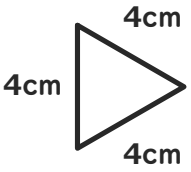

□

3 この 三角形は 二等辺三角形 ですか。

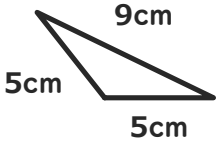

□

4 この 三角形は 正三角形ですか。

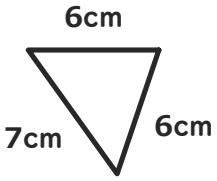

□

5 この 三角形は 二等辺三角形 ですか。

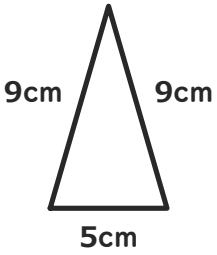

□

6 この 三角形は 正三角形ですか。

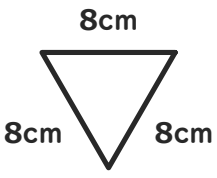

□

7 この 三角形は 二等辺三角形 ですか。

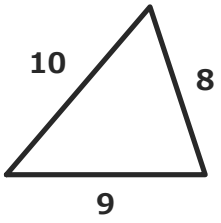

□

8 この 三角形は 正三角形ですか。

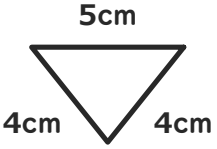

□

9 この 三角形は 二等辺三角形 ですか。

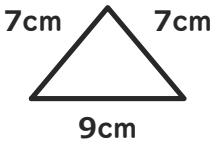

□

10 この 三角形は 正三角形ですか。

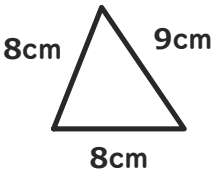

□

11 この 三角形は 二等辺三角形 ですか。



□

12 この 三角形は 正三角形ですか。

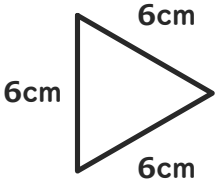

□

小3 二等辺三角形と正三角形 とっくんドリル①-2

なまえ ＿＿＿＿＿＿＿＿

二等辺三角形と 正三角形の 見分け（12問）

学習日 ＿＿＿＿＿＿＿＿

・辺の 長さを 1本ずつ 見くらべる
・○か×の 問は ○か×、えらぶ 問は 記号を 書く。図の 数の たんいは cm

1 辺の 長さが 下の 三角形で、二等辺三角形は どれですか。

ア 6cm・5cm・8cm
イ 7cm・8cm・6cm
ウ 9cm・7cm・7cm

□

2 アと イの うち、正三角形は どちらですか。

ア 

イ 

□

3 辺の 長さが 下の 三角形で、二等辺三角形は どれですか。

ア 8cm・9cm・4cm
イ 5cm・6cm・4cm
ウ 3cm・4cm・4cm

□

4 アと イの うち、正三角形は どちらですか。

ア 

イ 

□

5 辺の 長さが 下の 三角形で、二等辺三角形は どれですか。

ア 7cm・8cm・3cm
イ 5cm・7cm・3cm
ウ 5cm・8cm・8cm

□

6 アと イの うち、正三角形は どちらですか。

ア 

イ 

□

7 辺の 長さが 下の 三角形で、二等辺三角形は どれですか。

ア 3cm・8cm・8cm
イ 6cm・5cm・7cm
ウ 3cm・4cm・6cm

□

8 アと イの うち、正三角形は どちらですか。

ア 

イ 

□

9 辺の 長さが 下の 三角形で、二等辺三角形は どれですか。

ア 6cm・3cm・4cm
イ 7cm・4cm・4cm
ウ 5cm・6cm・3cm

□

10 アと イの うち、正三角形は どちらですか。

ア 

イ 

□

11 辺の 長さが 下の 三角形で、二等辺三角形は どれですか。

ア 7cm・9cm・3cm
イ 6cm・7cm・5cm
ウ 8cm・9cm・9cm

□

12 アと イの うち、正三角形は どちらですか。

ア 

イ 

□

小3 二等辺三角形と正三角形 とっくんドリル①-3

なまえ ＿＿＿＿＿＿＿＿

二等辺三角形と 正三角形の 見分け（12問）

学習日 ＿＿＿＿＿＿＿＿

・辺の 長さを 1本ずつ 見くらべる
・○か×の 問は ○か×、えらぶ 問は 記号を 書く。図の 数の たんいは cm

1 この 三角形は 二等辺三角形 ですか。

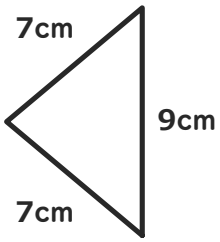

2 この 三角形は 正三角形ですか。

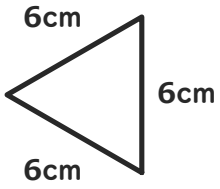

3 この 三角形は 二等辺三角形 ですか。

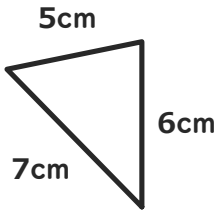

4 この 三角形は 正三角形ですか。

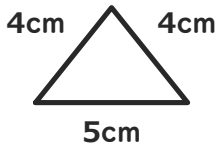

5 この 三角形は 二等辺三角形 ですか。

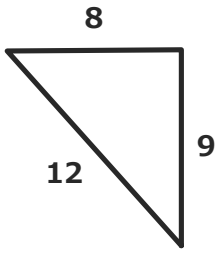

6 この 三角形は 正三角形ですか。

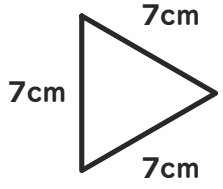

7 この 三角形は 二等辺三角形 ですか。

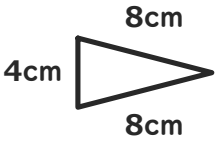

8 この 三角形は 正三角形ですか。

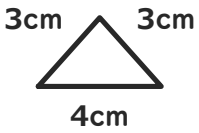

9 この 三角形は 二等辺三角形 ですか。

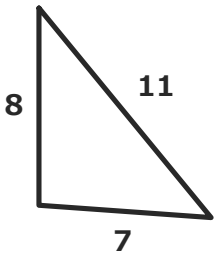

10 この 三角形は 正三角形ですか。

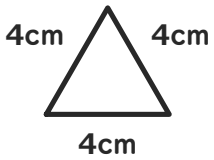

11 この 三角形は 二等辺三角形 ですか。

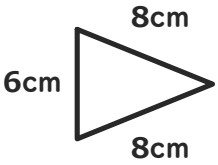

12 この 三角形は 正三角形ですか。

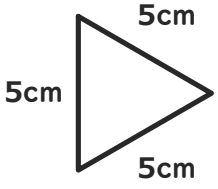

いちごドリル プリント

解きおわったら よんでね
答えと次の1枚がひらきます

小3 二等辺三角形と正三角形 とっくんドリル①-4

なまえ ＿＿＿＿＿＿＿＿

二等辺三角形と 正三角形の 見分け（12問）

学習日 ＿＿＿＿＿＿＿＿

・辺の 長さを 1本ずつ 見くらべる
・○か×の 問は ○か×、えらぶ 問は 記号を 書く。図の 数の たんいは cm

1 この 三角形は 二等辺三角形 ですか。

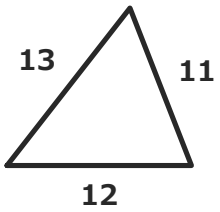

□

2 この 三角形は 正三角形ですか。

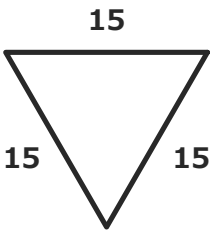

□

3 この 三角形は 二等辺三角形 ですか。

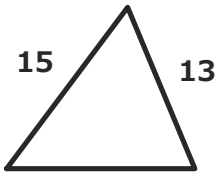

□

4 この 三角形は 正三角形ですか。

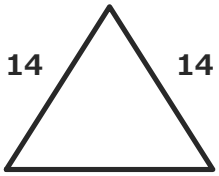

□

5 辺の 長さが 下の 三角形で、二等辺三角形は どれですか。

ア 15cm・13cm・10cm
イ 10cm・11cm・14cm
ウ 12cm・10cm・10cm

□

6 この 三角形は 正三角形ですか。

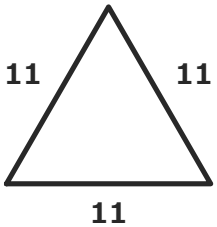

□

7 この 三角形は 二等辺三角形 ですか。

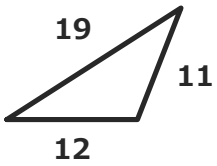

□

8 この 三角形は 正三角形ですか。

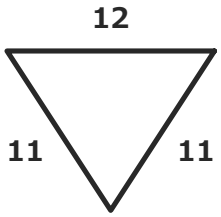

□

9 辺の 長さが 下の 三角形で、二等辺三角形は どれですか。

ア 15cm・11cm・11cm
イ 13cm・12cm・10cm
ウ 10cm・11cm・15cm

□

10 この 三角形は 正三角形ですか。

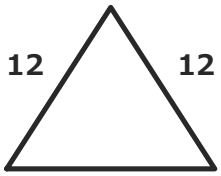

□

11 この 三角形は 二等辺三角形 ですか。

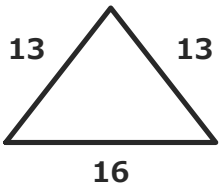

□

12 この 三角形は 正三角形ですか。

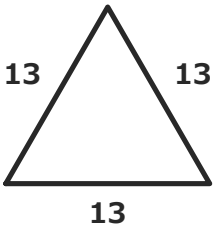

□

小3 二等辺三角形と正三角形 とっくんドリル①-5

なまえ ＿＿＿＿＿＿＿＿

二等辺三角形と 正三角形の 見分け（12問）

学習日 ＿＿＿＿＿＿＿＿

・辺の 長さを 1本ずつ 見くらべる
・○か×の 問は ○か×、えらぶ 問は 記号を 書く。図の 数の たんいは cm

1 8cm、7cm、9cmの
ストローで 三角形を 作りました。
二等辺三角形ですか。

2 14cm、15cm、14cmの
ストローで 三角形を 作りました。
正三角形ですか。

3 4cm、7cm、7cmの
ストローで 三角形を 作りました。
二等辺三角形ですか。

4 19cm、19cm、19cmの
ストローで 三角形を 作りました。
正三角形ですか。

5 7cm、7cm、9cmの
ストローで 三角形を 作りました。
二等辺三角形ですか。

6 8cm、8cm、9cmの
ストローで 三角形を 作りました。
正三角形ですか。

7 8cm、7cm、4cmの
ストローで 三角形を 作りました。
二等辺三角形ですか。

8 12cm、12cm、13cmの
ストローで 三角形を 作りました。
正三角形ですか。

9 7cm、7cm、12cmの
ストローで 三角形を 作りました。
二等辺三角形ですか。

10 10cm、10cm、10cmの
ストローで 三角形を 作りました。
正三角形ですか。

11 7cm、6cm、11cmの
ストローで 三角形を 作りました。
二等辺三角形ですか。

12 15cm、15cm、16cmの
ストローで 三角形を 作りました。
正三角形ですか。

小3 二等辺三角形と正三角形 とっくんドリル②-1

なまえ ＿＿＿＿＿＿＿＿

等しい 角・切って できる 三角形（12問）

学習日 ＿＿＿＿＿＿＿＿

・図の しるしの ついた 辺は 同じ 長さ。点線は 切る 線。図の 数の たんいは cm
・角は 記号（A・B・C）を 書く。○か×の 問は ○か×を 書く

1 二等辺三角形ABC。
角Bと 等しい 角は
どれですか。

角 ［　　］

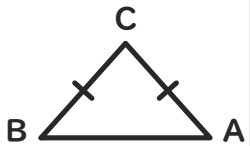

2 正方形を 点線で
切った 三角形は
二等辺三角形ですか。

［　　］

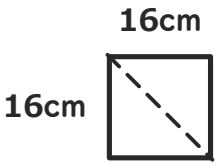

3 二等辺三角形ABC。
角Aと 等しい 角は
どれですか。

角 ［　　］

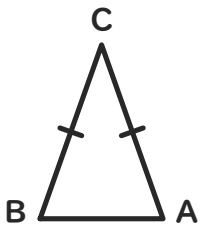

4 長方形を 点線で
切った 三角形は
二等辺三角形ですか。

［　　］

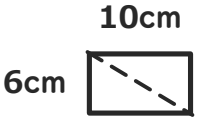

5 二等辺三角形ABC。
角Bと 等しい 角は
どれですか。

角 ［　　］

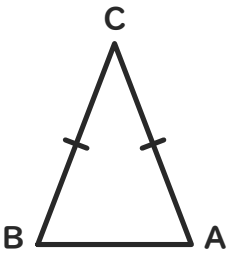

6 長方形を 点線で
切った 三角形は
二等辺三角形ですか。

［　　］

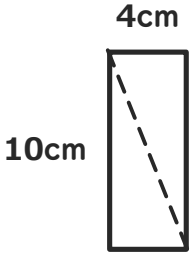

7 二等辺三角形ABC。
角Cと 等しい 角は
どれですか。

角 ［　　］

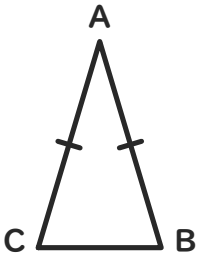

8 正方形を 点線で
切った 三角形は
二等辺三角形ですか。

［　　］

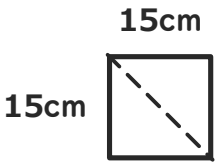

9 二等辺三角形ABC。
角Bと 等しい 角は
どれですか。

角 ［　　］

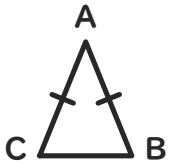

10 長方形を 点線で
切った 三角形は
二等辺三角形ですか。

［　　］

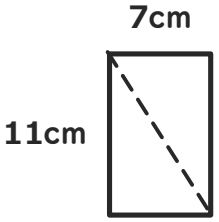

11 二等辺三角形ABC。
角Aと 等しい 角は
どれですか。

角 ［　　］

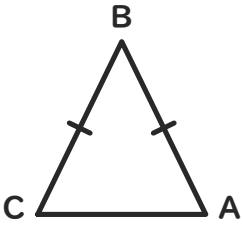

12 正方形を 点線で
切った 三角形は
二等辺三角形ですか。

［　　］

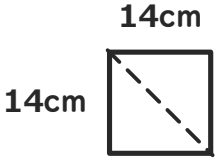

小3 二等辺三角形と正三角形 とっくんドリル②-2

なまえ ＿＿＿＿＿＿＿＿

等しい 角・切って できる 三角形（12問）

学習日 ＿＿＿＿＿＿＿＿

・図の しるしの ついた 辺は 同じ 長さ。点線は 切る 線。図の 数の たんいは cm
・角は 記号（A・B・C）を 書く。○か×の 問は ○か×を 書く

1 二等辺三角形ABC。角Cと 等しい 角は どれですか。

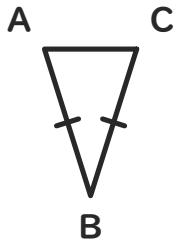

角 ［　　］

2 正方形を 点線で 切った 三角形は 二等辺三角形ですか。

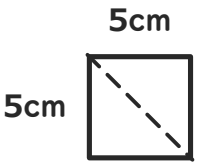

［　　］

3 二等辺三角形ABC。角Aと 等しい 角は どれですか。

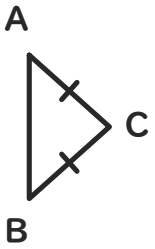

角 ［　　］

4 長方形を 点線で 切った 三角形は 二等辺三角形ですか。

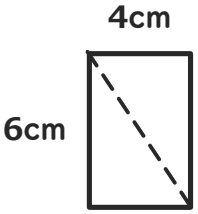

［　　］

5 二等辺三角形ABC。角Bと 等しい 角は どれですか。

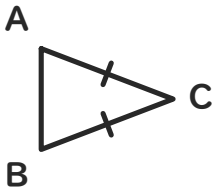

角 ［　　］

6 長方形を 点線で 切った 三角形は 二等辺三角形ですか。

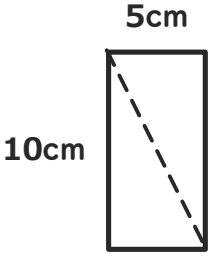

［　　］

7 二等辺三角形ABC。角Bと 等しい 角は どれですか。

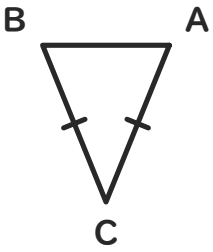

角 ［　　］

8 長方形を 点線で 切った 三角形は 二等辺三角形ですか。

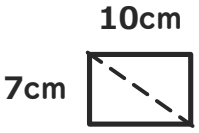

［　　］

9 二等辺三角形ABC。角Bと 等しい 角は どれですか。

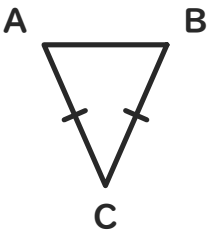

角 ［　　］

10 正方形を 点線で 切った 三角形は 二等辺三角形ですか。

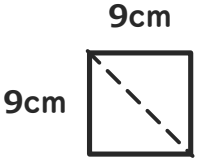

［　　］

11 二等辺三角形ABC。角Aと 等しい 角は どれですか。

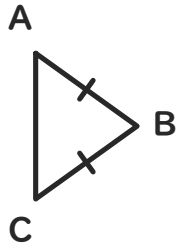

角 ［　　］

12 長方形を 点線で 切った 三角形は 二等辺三角形ですか。

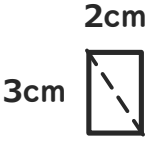

［　　］

小3 二等辺三角形と正三角形 とっくんドリル②-3

なまえ ＿＿＿＿＿＿＿＿

等しい 角・切って できる 三角形（12問）

学習日 ＿＿＿＿＿＿＿＿

・図の しるしの ついた 辺は 同じ 長さ。点線は 切る 線。図の 数の たんいは cm
・角は 記号（A・B・C）を 書く。○か×の 問は ○か×を 書く

1 三角形ABCは、辺BCと 辺ABが 9cmずつの 二等辺三角形です。角Cと 等しい 角は どれですか。

角 ［　　］

2 正方形を 点線で 切った 三角形は 正三角形ですか。

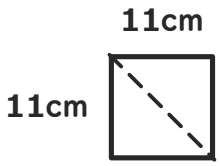

［　　］

3 三角形ABCは、辺ACと 辺ABが 4cmずつの 二等辺三角形です。角Bと 等しい 角は どれですか。

角 ［　　］

4 正方形を 点線で 切った 三角形は 正三角形ですか。

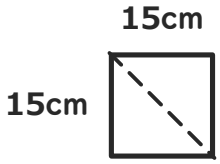

［　　］

5 三角形ABCは、辺BCと 辺ACが 同じ 長さの 二等辺三角形です。角Aと 等しい 角は どれですか。

角 ［　　］

6 正方形を 点線で 切った 三角形は 二等辺三角形ですか。

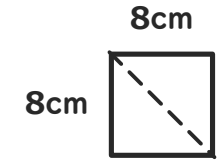

［　　］

7 三角形ABCは、辺ABと 辺BCが 8cmずつの 二等辺三角形です。角Cと 等しい 角は どれですか。

角 ［　　］

8 正方形を 点線で 切った 三角形は 二等辺三角形ですか。

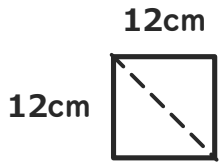

［　　］

9 三角形ABCは、辺ABと 辺ACが 4cmずつの 二等辺三角形です。角Cと 等しい 角は どれですか。

角 ［　　］

10 正方形を 点線で 切った 三角形は 正三角形ですか。

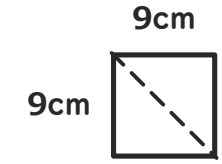

［　　］

11 三角形ABCは、辺BCと 辺ACが 6cmずつの 二等辺三角形です。角Aと 等しい 角は どれですか。

角 ［　　］

12 正方形を 点線で 切った 三角形は 二等辺三角形ですか。

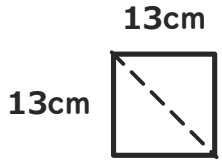

［　　］

いちごドリル プリント

解きおわったら よんでね
答えと次の1枚がひらきます

小3 二等辺三角形と正三角形 とっくんドリル②-4

なまえ ＿＿＿＿＿＿＿＿

等しい 角・切って できる 三角形（12問）

学習日 ＿＿＿＿＿＿＿＿

・図の しるしの ついた 辺は 同じ 長さ。点線は 切る 線。図の 数の たんいは cm
・角は 記号（A・B・C）を 書く。○か×の 問は ○か×を 書く

1 図の 三角形ABCで、角Cと 等しい 角は どれですか。

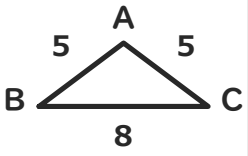

角 ［　　］

2 正方形を 切った 三角形の 8cmの 辺は 何本 ありますか。

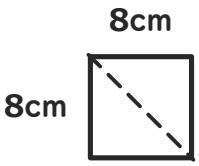

［　　］本

3 図の 三角形ABCで、角Aと 等しい 角は どれですか。

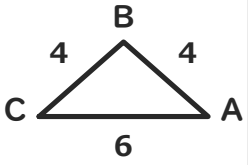

角 ［　　］

4 長方形を 切った 三角形の 6cmの 辺は 何本 ありますか。

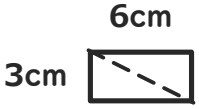

［　　］本

5 図の 三角形ABCで、角Aと 等しい 角は どれですか。

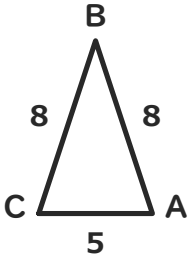

角 ［　　］

6 長方形を 切った 三角形の 7cmの 辺は 何本 ありますか。

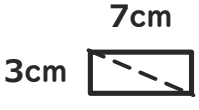

［　　］本

7 図の 三角形ABCで、角Aと 等しい 角は どれですか。

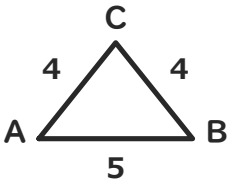

角 ［　　］

8 正方形を 切った 三角形の 5cmの 辺は 何本 ありますか。

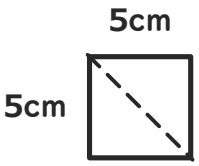

［　　］本

9 図の 三角形ABCで、角Cと 等しい 角は どれですか。



角 ［　　］

10 正方形を 切った 三角形の 7cmの 辺は 何本 ありますか。

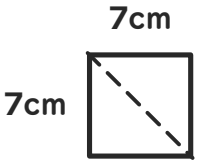

［　　］本

11 図の 三角形ABCで、角Cと 等しい 角は どれですか。

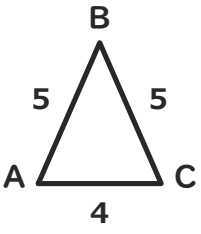

角 ［　　］

12 長方形を 切った 三角形の 2cmの 辺は 何本 ありますか。

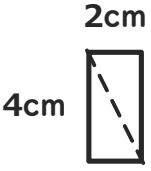

［　　］本

小3 二等辺三角形と正三角形 とっくんドリル②-5

なまえ ＿＿＿＿＿＿＿＿

等しい 角・切って できる 三角形（12問）

学習日 ＿＿＿＿＿＿＿＿

・図の しるしの ついた 辺は 同じ 長さ。点線は 切る 線。図の 数の たんいは cm
・角は 記号（A・B・C）を 書く。○か×の 問は ○か×を 書く

1 三角形ABCは、辺ACと 辺BCが 4cmずつの 二等辺三角形です。角Aと 等しい 角は どれですか。

角 ［　　］

2 正方形を かどから かどへ 切った 三角形の 5cmの 辺は 2本。正方形の まわりは 何cmですか。

（たんいも 書こう）［　　］

3 二等辺三角形ABC。角Cと 等しい 角は どれですか。

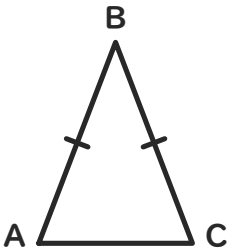

角 ［　　］

4 正方形を かどから かどへ 切った 三角形の 14cmの 辺は 2本。正方形の まわりは 何cmですか。

（たんいも 書こう）［　　］

5 図の 三角形ABCで、角Bと 等しい 角は どれですか。

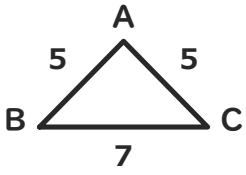

角 ［　　］

6 正方形を かどから かどへ 切った 三角形の 8cmの 辺は 2本。正方形の まわりは 何cmですか。

（たんいも 書こう）［　　］

7 二等辺三角形ABC。角Aと 等しい 角は どれですか。

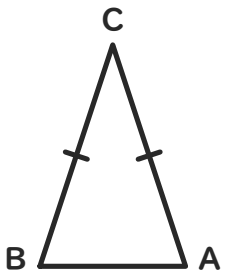

角 ［　　］

8 正方形を かどから かどへ 切った 三角形の 13cmの 辺は 2本。正方形の まわりは 何cmですか。

（たんいも 書こう）［　　］

9 図の 三角形ABCで、角Aと 等しい 角は どれですか。

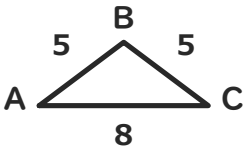

角 ［　　］

10 正方形を かどから かどへ 切った 三角形の 24cmの 辺は 2本。正方形の まわりは 何cmですか。

（たんいも 書こう）［　　］

11 三角形ABCは、辺ABと 辺BCが 5cmずつの 二等辺三角形です。角Cと 等しい 角は どれですか。

角 ［　　］

12 正方形を かどから かどへ 切った 三角形の 17cmの 辺は 2本。正方形の まわりは 何cmですか。

（たんいも 書こう）［　　］

小3 二等辺三角形と正三角形 とっくんドリル③-1

なまえ ＿＿＿＿＿＿＿＿

コンパスの 長さ・まわりの 長さ（12問）

学習日 ＿＿＿＿＿＿＿＿

・コンパスで かいた 2本は 同じ 長さ。しるしの ついた 辺も 同じ 長さ
・答えは □ に書く。文章題は たんいも 書く

1 コンパスを 7cmに 開いて かいた 図。まわりは 何cmですか。

□ cm

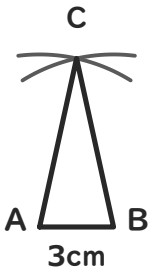

2 この 二等辺三角形の まわりは 何cmですか。

□ cm

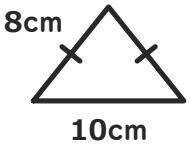

3 コンパスを 9cmに 開いて かいた 図。まわりは 何cmですか。

□ cm

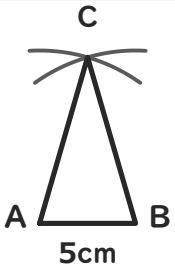

4 この 二等辺三角形の まわりは 何cmですか。

□ cm

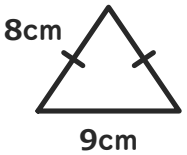

5 コンパスを 6cmに 開いて かいた 図。まわりは 何cmですか。

□ cm

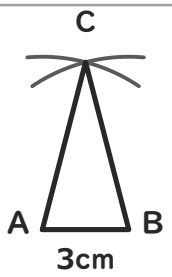

6 この 二等辺三角形の まわりは 何cmですか。

□ cm

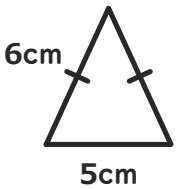

7 コンパスを 9cmに 開いて かいた 図。まわりは 何cmですか。

□ cm

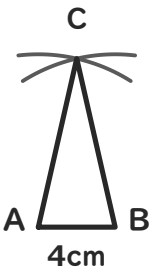

8 この 二等辺三角形の まわりは 何cmですか。

□ cm

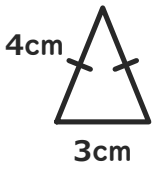

9 コンパスを 8cmに 開いて かいた 図。まわりは 何cmですか。

□ cm

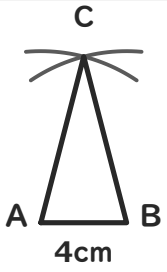

10 この 二等辺三角形の まわりは 何cmですか。

□ cm

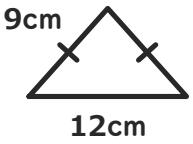

11 コンパスを 5cmに 開いて かいた 図。まわりは 何cmですか。

□ cm

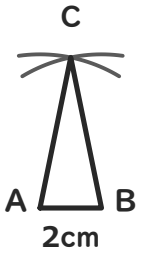

12 この 二等辺三角形の まわりは 何cmですか。

□ cm

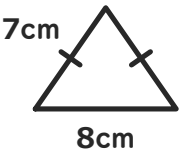

小3 二等辺三角形と正三角形 とっくんドリル③-2

なまえ ＿＿＿＿＿＿＿＿

コンパスの 長さ・まわりの 長さ（12問）

学習日 ＿＿＿＿＿＿＿＿

・コンパスで かいた 2本は 同じ 長さ。しるしの ついた 辺も 同じ 長さ
・答えは □ に書く。文章題は たんいも 書く

1 コンパスを 9cmに 開いて かいた 図。ACと BCの 合計は？

□ cm

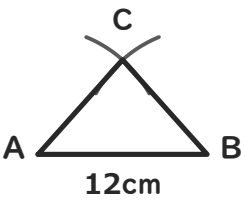

2 この 正三角形の まわりは 何cmですか。

□ cm



3 コンパスを 4cmに 開いて かいた 図。ACと BCの 合計は？

□ cm

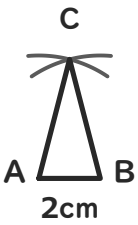

4 この 正三角形の まわりは 何cmですか。

□ cm

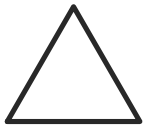

5 コンパスを 8cmに 開いて かいた 図。ACと BCの 合計は？

□ cm

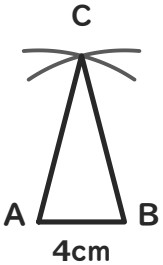

6 この 正三角形の まわりは 何cmですか。

□ cm



7 コンパスを 3cmに 開いて かいた 図。ACと BCの 合計は？

□ cm

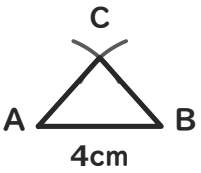

8 この 正三角形の まわりは 何cmですか。

□ cm

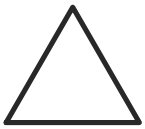

9 コンパスを 5cmに 開いて かいた 図。ACと BCの 合計は？

□ cm



10 この 正三角形の まわりは 何cmですか。

□ cm



11 コンパスを 6cmに 開いて かいた 図。ACと BCの 合計は？

□ cm

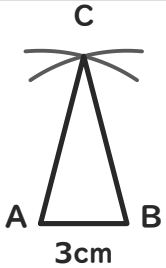

12 この 正三角形の まわりは 何cmですか。

□ cm



いちごドリル プリント

解きおわったら よんでね
答えと次の1枚がひらきます

小3 二等辺三角形と正三角形 とっくんドリル③-3

なまえ ＿＿＿＿＿＿＿＿

コンパスの 長さ・まわりの 長さ（12問）

学習日 ＿＿＿＿＿＿＿＿

・コンパスで かいた 2本は 同じ 長さ。しるしの ついた 辺も 同じ 長さ
・答えは □ に書く。文章題は たんいも 書く

1 コンパスで かいた
図の まわりは 27cm。
開きは 何cmですか。

□ cm

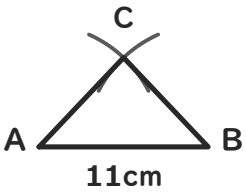

2 まわりが 36cmの 正三角形。
1つの 辺は 何cmですか。

（たんいも 書こう）

□

3 コンパスで かいた
図の まわりは 10cm。
開きは 何cmですか。

□ cm

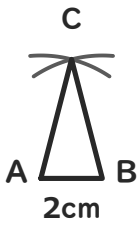

4 まわりが 12cmの 正三角形。
1つの 辺は 何cmですか。

（たんいも 書こう）

□

5 コンパスで かいた
図の まわりは 20cm。
開きは 何cmですか。

□ cm

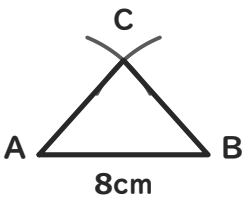

6 まわりが 60cmの 正三角形。
1つの 辺は 何cmですか。

（たんいも 書こう）

□

7 コンパスで かいた
図の まわりは 12cm。
開きは 何cmですか。

□ cm

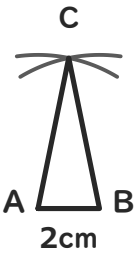

8 まわりが 66cmの 正三角形。
1つの 辺は 何cmですか。

（たんいも 書こう）

□

9 コンパスで かいた
図の まわりは 23cm。
開きは 何cmですか。

□ cm

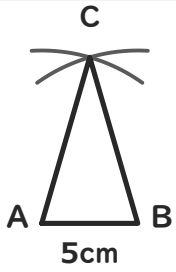

10 まわりが 18cmの 正三角形。
1つの 辺は 何cmですか。

（たんいも 書こう）

□

11 コンパスで かいた
図の まわりは 17cm。
開きは 何cmですか。

□ cm

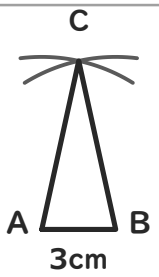

12 まわりが 6cmの 正三角形。
1つの 辺は 何cmですか。

（たんいも 書こう）

□

小3 二等辺三角形と正三角形 とっくんドリル③-4

なまえ ＿＿＿＿＿＿＿＿

コンパスの 長さ・まわりの 長さ（12問）

学習日 ＿＿＿＿＿＿＿＿

・コンパスで かいた 2本は 同じ 長さ。しるしの ついた 辺も 同じ 長さ
・答えは □ に書く。文章題は たんいも 書く

1 コンパスの 開き 8cm、まわり 27cmの 図。ABは 何cmですか。

□ cm

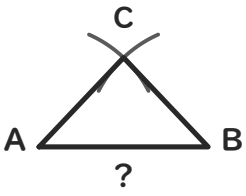

2 この 二等辺三角形の まわりは 16cm。?は 何cmですか。

□ cm

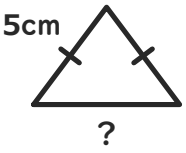

3 コンパスの 開き 5cm、まわり 12cmの 図。ABは 何cmですか。

□ cm

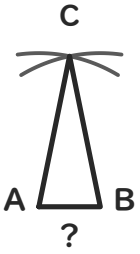

4 この 二等辺三角形の まわりは 16cm。?は 何cmですか。

□ cm

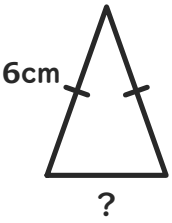

5 コンパスの 開き 9cm、まわり 23cmの 図。ABは 何cmですか。

□ cm

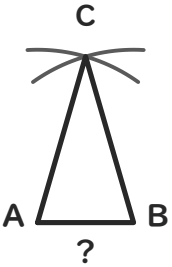

6 この 二等辺三角形の まわりは 10cm。?は 何cmですか。

□ cm

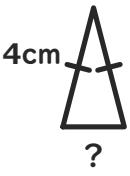

7 コンパスの 開き 5cm、まわり 17cmの 図。ABは 何cmですか。

□ cm

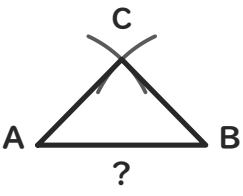

8 この 二等辺三角形の まわりは 17cm。?は 何cmですか。

□ cm

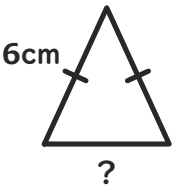

9 コンパスの 開き 9cm、まわり 30cmの 図。ABは 何cmですか。

□ cm

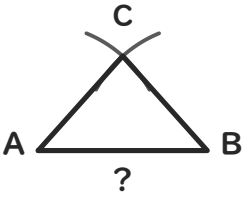

10 この 二等辺三角形の まわりは 25cm。?は 何cmですか。

□ cm

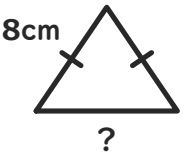

11 コンパスの 開き 6cm、まわり 15cmの 図。ABは 何cmですか。

□ cm

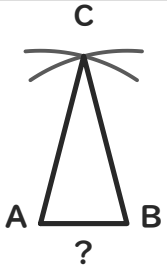

12 この 二等辺三角形の まわりは 13cm。?は 何cmですか。

□ cm

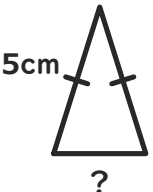

小3 二等辺三角形と正三角形 とっくんドリル③-5

なまえ ＿＿＿＿＿＿＿＿

コンパスの 長さ・まわりの 長さ（12問）

学習日 ＿＿＿＿＿＿＿＿

・コンパスで かいた 2本は 同じ 長さ。しるしの ついた 辺も 同じ 長さ
・答えは □ に書く。文章題は たんいも 書く

1 コンパスを 5cmに 開いて かいた 図。ACと BCの 合計は？

□ cm

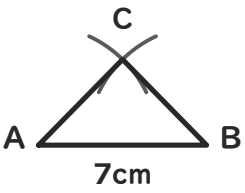

2 27cmの ひもで 二等辺三角形を 作ります。等しい 辺は 11cmずつ。のこりの 辺は 何cmですか。

（たんいも 書こう）

□

3 コンパスを 9cmに 開いて かいた 図。まわりは 何cmですか。

□ cm

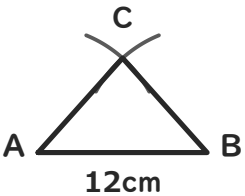

4 6cmの ストロー2本と 3cmの ストロー1本で 三角形を 作りました。まわりは 何cmですか。

（たんいも 書こう）

□

5 コンパスを 8cmに 開いて かいた 図。まわりは 何cmですか。

□ cm

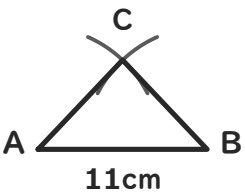

6 8cmの ストロー2本と 9cmの ストロー1本で 三角形を 作りました。まわりは 何cmですか。

（たんいも 書こう）

□

7 コンパスを 7cmに 開いて かいた 図。ACと BCの 合計は？

□ cm

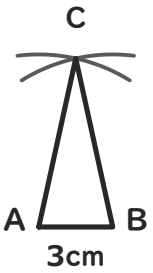

8 10cmの ひもで 二等辺三角形を 作ります。等しい 辺は 4cmずつ。のこりの 辺は 何cmですか。

（たんいも 書こう）

□

9 コンパスを 6cmに 開いて かいた 図。ACと BCの 合計は？

□ cm

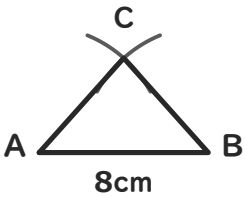

10 18cmの ひもで 二等辺三角形を 作ります。等しい 辺は 7cmずつ。のこりの 辺は 何cmですか。

（たんいも 書こう）

□

11 コンパスを 7cmに 開いて かいた 図。まわりは 何cmですか。

□ cm

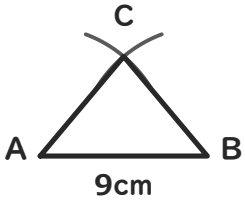

12 10cmの ストロー2本と 8cmの ストロー1本で 三角形を 作りました。まわりは 何cmですか。

（たんいも 書こう）

□

小3 二等辺三角形と正三角形 そうごうテスト（その2）

なまえ ＿＿＿＿＿＿＿＿

つまずきを6つ、2問ずつ（100点）

学習日 ＿＿＿＿＿＿＿＿

・答えは □ に書く。○か×の 問は ○か×、えらぶ 問は 記号を 書く
・図の しるしの ついた 辺は 同じ 長さ。図の 数の たんいは cm。文章題は たんいも 書く

1 8点
辺の 長さが 下の 三角形で、
二等辺三角形は どれですか。
ア 4cm・6cm・9cm
イ 7cm・5cm・5cm
ウ 8cm・9cm・3cm
□

2 8点
三角形ABCは、辺ABと 辺ACが
9cmずつの 二等辺三角形です。
角Cと 等しい 角は どれですか。
角 □

3 8点
コンパスを 7cmに
開いて かいた 図。
ACと BCの 合計は？
□ cm

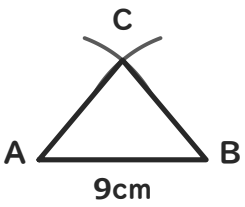

4 8点
この 三角形は
正三角形ですか。
□

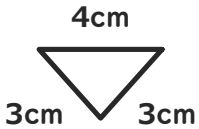

5 8点
長方形を 点線で
切った 三角形は
二等辺三角形ですか。
□

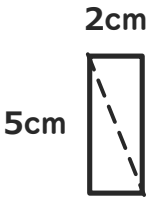

6 8点
この 正三角形の
まわりは
何cmですか。
□ cm

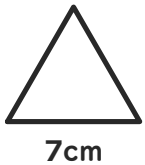

7 8点
二等辺三角形ABC。
角Aと 等しい 角は
どれですか。
角 □

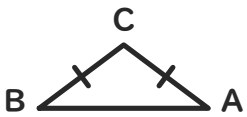

8 8点
この 三角形は
二等辺三角形
ですか。
□

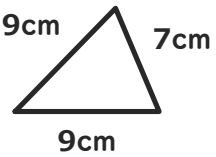

9 9点
この 二等辺三角形の
まわりは 26cm。
？は 何cmですか。
□ cm

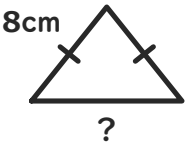

10 9点
正方形を 点線で
切った 三角形は
二等辺三角形ですか。
□

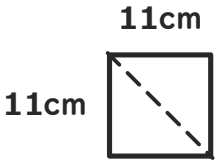

11 9点
コンパスを 5cmに
開いて かいた 図。
まわりは 何cmですか。
□ cm

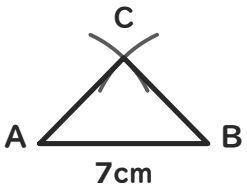

12 9点
この 三角形は
正三角形ですか。
□

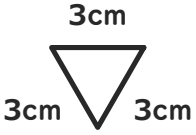

小3 二等辺三角形と正三角形 そうごうテスト（その3）

なまえ ＿＿＿＿＿＿＿＿

つまずきを6つ、2問ずつ（100点）

学習日 ＿＿＿＿＿＿＿＿

・答えは □ に書く。○か×の 問は ○か×、えらぶ 問は 記号を 書く
・図の しるしの ついた 辺は 同じ 長さ。図の 数の たんいは cm。文章題は たんいも 書く

1 8点
アと イの うち、正三角形は
どちらですか。

ア 

イ 

□

2 8点
この 二等辺三角形の
まわりは
何cmですか。

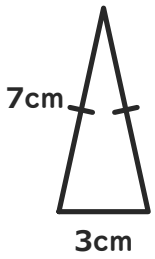

□ cm

3 8点
正方形を 点線で
切った 三角形は
正三角形ですか。

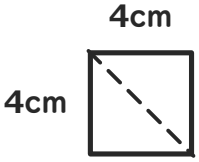

□

4 8点
この 三角形は
二等辺三角形
ですか。

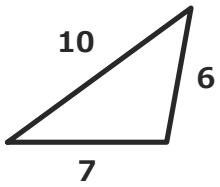

□

5 8点
コンパスで かいた
図の まわりは 17cm。
開きは 何cmですか。

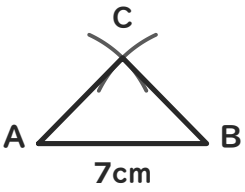

□ cm

6 8点
図の 三角形ABCで、
角Aと 等しい 角は
どれですか。

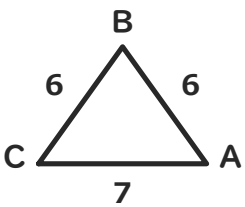

角 □

7 8点
まわりが 26cmの 二等辺三角形。
等しい 辺は 10cmずつです。
のこりの 辺は 何cmですか。

（たんいも 書こう）

□

8 8点
この 三角形は
正三角形ですか。

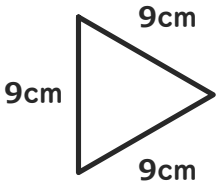

□

9 9点
辺の 長さが 下の 三角形で、
二等辺三角形は どれですか。

ア 7cm・3cm・8cm
イ 7cm・8cm・4cm
ウ 6cm・9cm・9cm

□

10 9点
コンパスを 6cmに
開いて かいた 図。
まわりは 何cmですか。

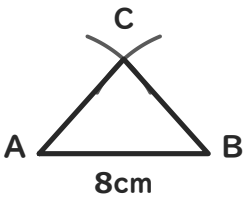

□ cm

11 9点
正方形を 点線で
切った 三角形は
二等辺三角形ですか。

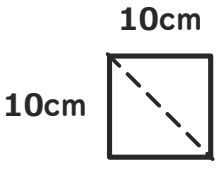

□

12 9点
二等辺三角形ABC。
角Bと 等しい 角は
どれですか。

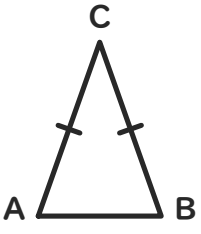

角 □

小3 二等辺三角形と正三角形 そうごうテスト（その4）

なまえ ＿＿＿＿＿＿＿＿

つまずきを6つ、2問ずつ（100点）

学習日 ＿＿＿＿＿＿＿＿

・答えは □ に書く。○か×の 問は ○か×、えらぶ 問は 記号を 書く
・図の しるしの ついた 辺は 同じ 長さ。図の 数の たんいは cm。文章題は たんいも 書く

1 8点
二等辺三角形ABC。
角Cと 等しい 角は
どれですか。

角 □

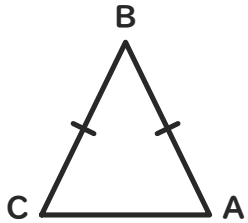

2 8点
コンパスを 4cmに
開いて かいた 図。
まわりは 何cmですか。

□ cm

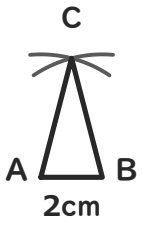

3 8点
この 三角形は
二等辺三角形
ですか。

□

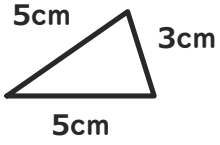

4 8点
長方形を 切った
三角形の 8cmの 辺は
何本 ありますか。

□ 本

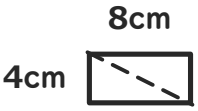

5 8点
この 三角形は
正三角形ですか。

□

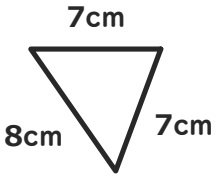

6 8点
まわりが 17cmの 二等辺三角形。
等しい 辺は 6cmずつです。
のこりの 辺は 何cmですか。

（たんいも 書こう）

□

7 8点
8cm、5cm、5cmの
ストローで 三角形を 作りました。
二等辺三角形ですか。

□

8 8点
三角形ABCは、辺BCと 辺ABが
4cmずつの 二等辺三角形です。
角Aと 等しい 角は どれですか。

角 □

9 9点
正方形を 点線で
切った 三角形は
二等辺三角形ですか。

□

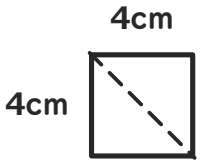

10 9点
この 二等辺三角形の
まわりは
何cmですか。

□ cm

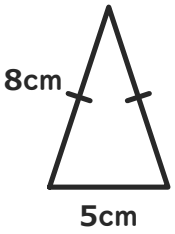

11 9点
アと イの うち、正三角形は
どちらですか。

ア 

イ 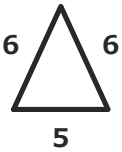

□

12 9点
コンパスを 9cmに
開いて かいた 図。
ACと BCの 合計は？

□ cm

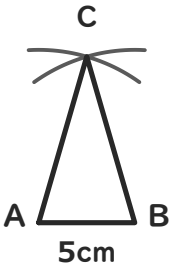

小3 二等辺三角形と正三角形 そうごうテスト（その5）

なまえ ＿＿＿＿＿＿＿＿

つまずきを6つ、2問ずつ（100点）

学習日 ＿＿＿＿＿＿＿＿

・答えは □ に書く。○か×の 問は ○か×、えらぶ 問は 記号を 書く
・図の しるしの ついた 辺は 同じ 長さ。図の 数の たんいは cm。文章題は たんいも 書く

1 8点
まわりが 21cmの 二等辺三角形。
等しい 辺は 8cmずつです。
のこりの 辺は 何cmですか。

（たんいも 書こう）

□

2 8点
アと イの うち、正三角形は
どちらですか。

ア 

イ 

□

3 8点
図の 三角形ABCで、
角Aと 等しい 角は
どれですか。

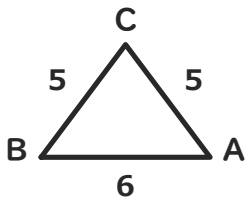

角 □

4 8点
コンパスの 開き 7cm、
まわり 23cmの 図。
ABは 何cmですか。

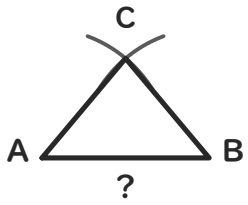

□ cm

5 8点
この 三角形は
二等辺三角形
ですか。

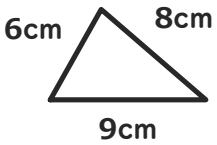

□

6 8点
長方形を 点線で
切った 三角形は
二等辺三角形ですか。

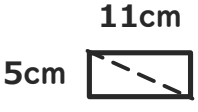

□

7 8点
正方形を 切った
三角形の 9cmの 辺は
何本 ありますか。

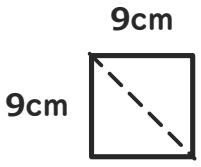

□ 本

8 8点
コンパスを 3cmに
開いて かいた 図。
まわりは 何cmですか。

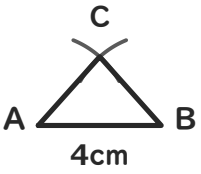

□ cm

9 9点
この 三角形は
正三角形ですか。

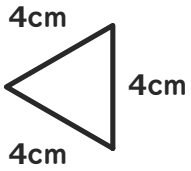

□

10 9点
辺の 長さが 下の 三角形で、
二等辺三角形は どれですか。

ア 6cm・7cm・5cm
イ 5cm・8cm・7cm
ウ 3cm・9cm・9cm

□

11 9点
この 二等辺三角形の
まわりは
何cmですか。

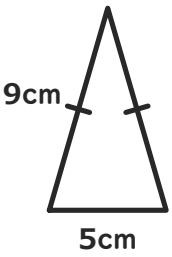

□ cm

12 9点
三角形ABCは、辺BCと 辺ABが
6cmずつの 二等辺三角形です。
角Aと 等しい 角は どれですか。

角 □