小3 二等辺三角形と正三角形 そうごうテスト（その4）

なまえ ＿＿＿＿＿＿＿＿

つまずきを6つ、2問ずつ（100点）

学習日 ＿＿＿＿＿＿＿＿

・答えは □ に書く。○か×の 問は ○か×、えらぶ 問は 記号を 書く
・図の しるしの ついた 辺は 同じ 長さ。図の 数の たんいは cm。文章題は たんいも 書く

1 8点
二等辺三角形ABC。
角Cと 等しい 角は
どれですか。

角 □

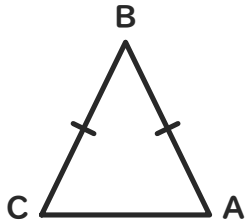

2 8点
コンパスを 4cmに
開いて かいた 図。
まわりは 何cmですか。

□ cm

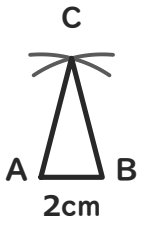

3 8点
この 三角形は
二等辺三角形
ですか。

□

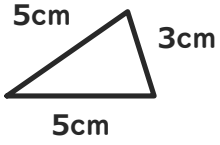

4 8点
長方形を 切った
三角形の 8cmの 辺は
何本 ありますか。

□ 本

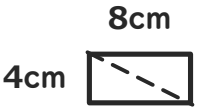

5 8点
この 三角形は
正三角形ですか。

□

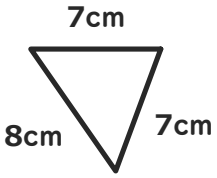

6 8点
まわりが 17cmの 二等辺三角形。
等しい 辺は 6cmずつです。
のこりの 辺は 何cmですか。

（たんいも 書こう）

□

7 8点
8cm、5cm、5cmの
ストローで 三角形を 作りました。
二等辺三角形ですか。

□

8 8点
三角形ABCは、辺BCと 辺ABが
4cmずつの 二等辺三角形です。
角Aと 等しい 角は どれですか。

角 □

9 9点
正方形を 点線で
切った 三角形は
二等辺三角形ですか。

□

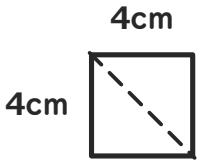

10 9点
この 二等辺三角形の
まわりは
何cmですか。

□ cm

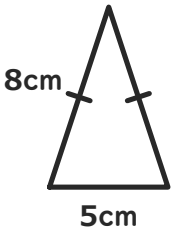

11 9点
アと イの うち、正三角形は
どちらですか。

ア 

イ 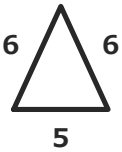

□

12 9点
コンパスを 9cmに
開いて かいた 図。
ACと BCの 合計は？

□ cm

