小3 二等辺三角形と正三角形 そうごうテスト（その3）

なまえ ＿＿＿＿＿＿＿＿

つまずきを6つ、2問ずつ（100点）

学習日 ＿＿＿＿＿＿＿＿

・答えは □ に書く。○か×の 問は ○か×、えらぶ 問は 記号を 書く
・図の しるしの ついた 辺は 同じ 長さ。図の 数の たんいは cm。文章題は たんいも 書く

1 8点
アと イの うち、正三角形は
どちらですか。

ア 

イ 

□

2 8点
この 二等辺三角形の
まわりは
何cmですか。

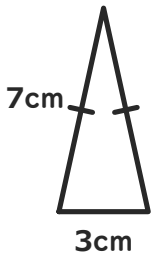

□ cm

3 8点
正方形を 点線で
切った 三角形は
正三角形ですか。

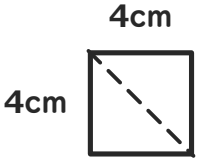

□

4 8点
この 三角形は
二等辺三角形
ですか。

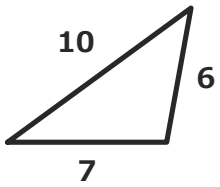

□

5 8点
コンパスで かいた
図の まわりは 17cm。
開きは 何cmですか。

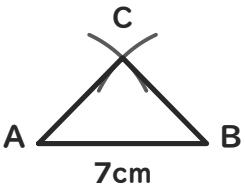

□ cm

6 8点
図の 三角形ABCで、
角Aと 等しい 角は
どれですか。

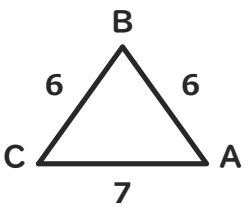

角 □

7 8点
まわりが 26cmの 二等辺三角形。
等しい 辺は 10cmずつです。
のこりの 辺は 何cmですか。

（たんいも 書こう）

□

8 8点
この 三角形は
正三角形ですか。

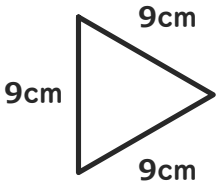

□

9 9点
辺の 長さが 下の 三角形で、
二等辺三角形は どれですか。

ア 7cm・3cm・8cm
イ 7cm・8cm・4cm
ウ 6cm・9cm・9cm

□

10 9点
コンパスを 6cmに
開いて かいた 図。
まわりは 何cmですか。

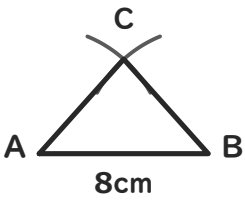

□ cm

11 9点
正方形を 点線で
切った 三角形は
二等辺三角形ですか。

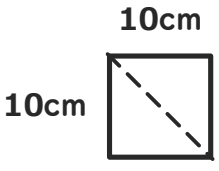

□

12 9点
二等辺三角形ABC。
角Bと 等しい 角は
どれですか。

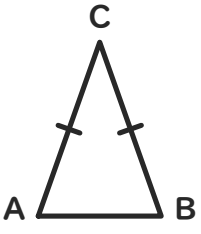

角 □