小3 二等辺三角形と正三角形 そうごうテスト（その2）

なまえ ＿＿＿＿＿＿＿＿

つまずきを6つ、2問ずつ（100点）

学習日 ＿＿＿＿＿＿＿＿

・答えは □ に書く。○か×の 問は ○か×、えらぶ 問は 記号を 書く
・図の しるしの ついた 辺は 同じ 長さ。図の 数の たんいは cm。文章題は たんいも 書く

1 8点
辺の 長さが 下の 三角形で、
二等辺三角形は どれですか。
ア 4cm・6cm・9cm
イ 7cm・5cm・5cm
ウ 8cm・9cm・3cm
□

2 8点
三角形ABCは、辺ABと 辺ACが
9cmずつの 二等辺三角形です。
角Cと 等しい 角は どれですか。
角 □

3 8点
コンパスを 7cmに
開いて かいた 図。
ACと BCの 合計は？
□ cm

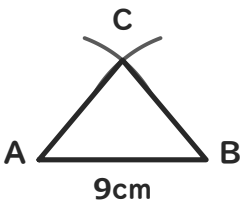

4 8点
この 三角形は
正三角形ですか。
□

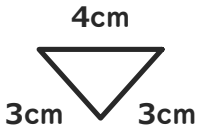

5 8点
長方形を 点線で
切った 三角形は
二等辺三角形ですか。
□

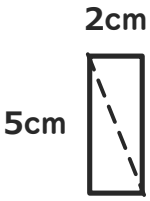

6 8点
この 正三角形の
まわりは
何cmですか。
□ cm

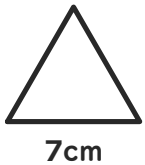

7 8点
二等辺三角形ABC。
角Aと 等しい 角は
どれですか。
角 □

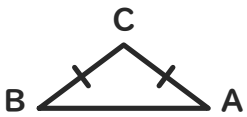

8 8点
この 三角形は
二等辺三角形
ですか。
□

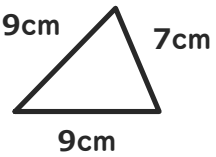

9 9点
この 二等辺三角形の
まわりは 26cm。
？は 何cmですか。
□ cm

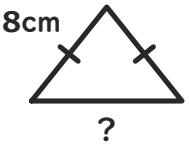

10 9点
正方形を 点線で
切った 三角形は
二等辺三角形ですか。
□

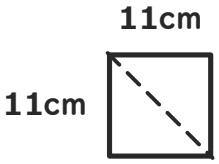

11 9点
コンパスを 5cmに
開いて かいた 図。
まわりは 何cmですか。
□ cm

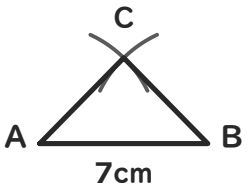

12 9点
この 三角形は
正三角形ですか。
□

