小3 二等辺三角形と正三角形 とっくんドリル③-5

なまえ ＿＿＿＿＿＿＿＿

コンパスの 長さ・まわりの 長さ（12問）

学習日 ＿＿＿＿＿＿＿＿

・コンパスで かいた 2本は 同じ 長さ。しるしの ついた 辺も 同じ 長さ
・答えは □ に書く。文章題は たんいも 書く

1 コンパスを 5cmに 開いて かいた 図。ACと BCの 合計は？

□ cm

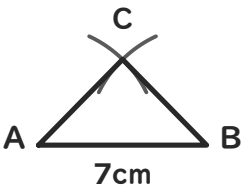

2 27cmの ひもで 二等辺三角形を 作ります。等しい 辺は 11cmずつ。のこりの 辺は 何cmですか。

（たんいも 書こう）

□

3 コンパスを 9cmに 開いて かいた 図。まわりは 何cmですか。

□ cm

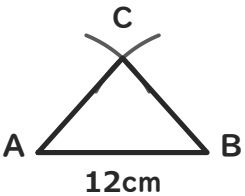

4 6cmの ストロー2本と 3cmの ストロー1本で 三角形を 作りました。まわりは 何cmですか。

（たんいも 書こう）

□

5 コンパスを 8cmに 開いて かいた 図。まわりは 何cmですか。

□ cm

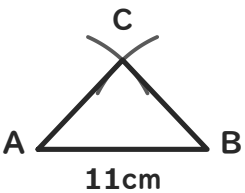

6 8cmの ストロー2本と 9cmの ストロー1本で 三角形を 作りました。まわりは 何cmですか。

（たんいも 書こう）

□

7 コンパスを 7cmに 開いて かいた 図。ACと BCの 合計は？

□ cm

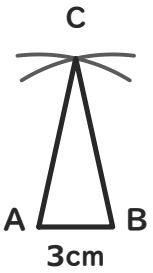

8 10cmの ひもで 二等辺三角形を 作ります。等しい 辺は 4cmずつ。のこりの 辺は 何cmですか。

（たんいも 書こう）

□

9 コンパスを 6cmに 開いて かいた 図。ACと BCの 合計は？

□ cm

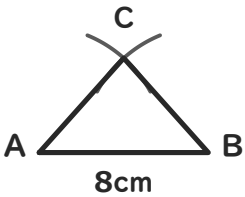

10 18cmの ひもで 二等辺三角形を 作ります。等しい 辺は 7cmずつ。のこりの 辺は 何cmですか。

（たんいも 書こう）

□

11 コンパスを 7cmに 開いて かいた 図。まわりは 何cmですか。

□ cm

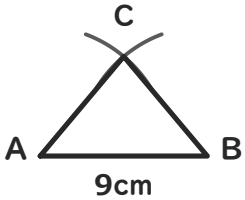

12 10cmの ストロー2本と 8cmの ストロー1本で 三角形を 作りました。まわりは 何cmですか。

（たんいも 書こう）

□