小3 二等辺三角形と正三角形 とっくんドリル③-4

なまえ ＿＿＿＿＿＿＿＿

コンパスの 長さ・まわりの 長さ（12問）

学習日 ＿＿＿＿＿＿＿＿

・コンパスで かいた 2本は 同じ 長さ。しるしの ついた 辺も 同じ 長さ
・答えは □ に書く。文章題は たんいも 書く

1 コンパスの 開き 8cm、まわり 27cmの 図。ABは 何cmですか。

□ cm

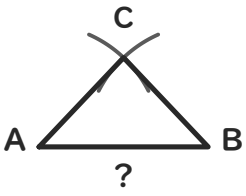

2 この 二等辺三角形の まわりは 16cm。?は 何cmですか。

□ cm

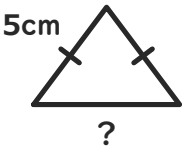

3 コンパスの 開き 5cm、まわり 12cmの 図。ABは 何cmですか。

□ cm

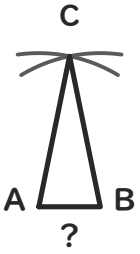

4 この 二等辺三角形の まわりは 16cm。?は 何cmですか。

□ cm

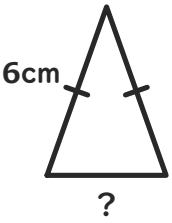

5 コンパスの 開き 9cm、まわり 23cmの 図。ABは 何cmですか。

□ cm

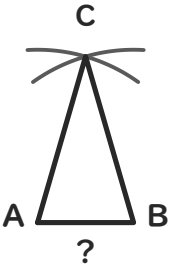

6 この 二等辺三角形の まわりは 10cm。?は 何cmですか。

□ cm

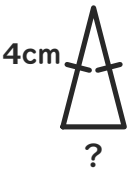

7 コンパスの 開き 5cm、まわり 17cmの 図。ABは 何cmですか。

□ cm

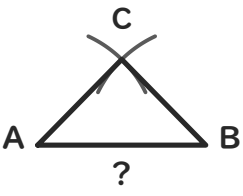

8 この 二等辺三角形の まわりは 17cm。?は 何cmですか。

□ cm

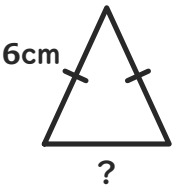

9 コンパスの 開き 9cm、まわり 30cmの 図。ABは 何cmですか。

□ cm

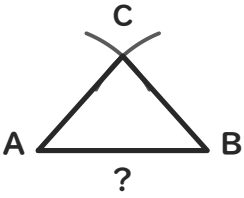

10 この 二等辺三角形の まわりは 25cm。?は 何cmですか。

□ cm

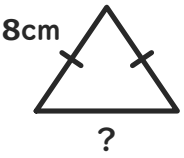

11 コンパスの 開き 6cm、まわり 15cmの 図。ABは 何cmですか。

□ cm

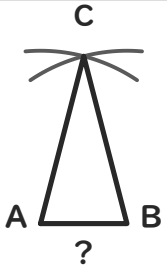

12 この 二等辺三角形の まわりは 13cm。?は 何cmですか。

□ cm

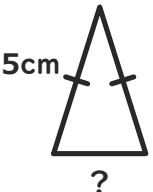

小3 二等辺三角形と正三角形 とっくんドリル③-4【こたえ】

なまえ ＿＿＿＿＿＿＿＿

×があったら「③-5」へ。ぜんぶ〇なら つぎの そうごうテストへ

学習日 ＿＿＿＿＿＿＿＿

① コンパス 8cm・まわり 27cm の AB

答え 11cm

よくある×：19cm（同じ 開きの 2本を 1本しか ひかない）

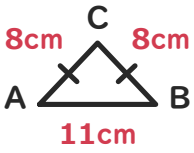

② まわり 16cm・等しい 辺 5cm の ？の 辺

答え 6cm

よくある×：11cm（等しい 辺を 1回しか ひかない）

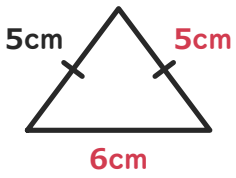

③ コンパス 5cm・まわり 12cm の AB

答え 2cm

よくある×：7cm（同じ 開きの 2本を 1本しか ひかない）

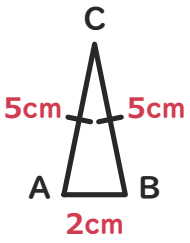

④ まわり 16cm・等しい 辺 6cm の ？の 辺

答え 4cm

よくある×：10cm（等しい 辺を 1回しか ひかない）

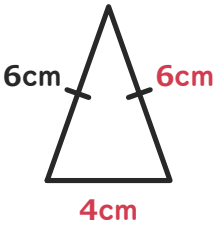

⑤ コンパス 9cm・まわり 23cm の AB

答え 5cm

よくある×：14cm（同じ 開きの 2本を 1本しか ひかない）

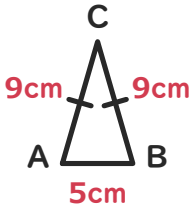

⑥ まわり 10cm・等しい 辺 4cm の ？の 辺

答え 2cm

よくある×：6cm（等しい 辺を 1回しか ひかない）

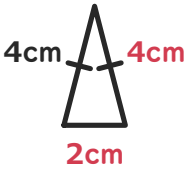

⑦ コンパス 5cm・まわり 17cm の AB

答え 7cm

よくある×：12cm（同じ 開きの 2本を 1本しか ひかない）

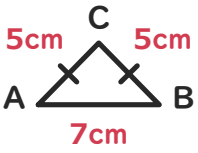

⑧ まわり 17cm・等しい 辺 6cm の ？の 辺

答え 5cm

よくある×：11cm（等しい 辺を 1回しか ひかない）

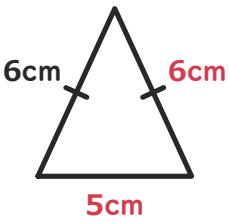

⑨ コンパス 9cm・まわり 30cm の AB

答え 12cm

よくある×：21cm（同じ 開きの 2本を 1本しか ひかない）

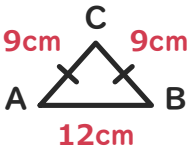

⑩ まわり 25cm・等しい 辺 8cm の ？の 辺

答え 9cm

よくある×：17cm（等しい 辺を 1回しか ひかない）

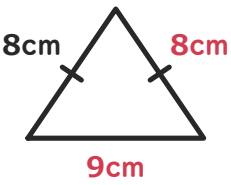

⑪ コンパス 6cm・まわり 15cm の AB

答え 3cm

よくある×：9cm（同じ 開きの 2本を 1本しか ひかない）

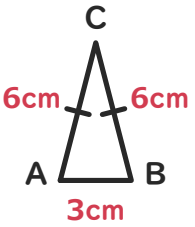

⑫ まわり 13cm・等しい 辺 5cm の ？の 辺

答え 3cm

よくある×：8cm（等しい 辺を 1回しか ひかない）

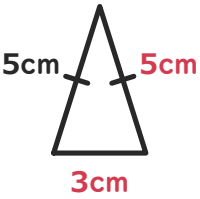

×が多い型は、練習プリント⑤⑥（ときかたつき）で ときかたを 見直す。