小3 二等辺三角形と正三角形 とっくんドリル③-4

なまえ ＿＿＿＿＿＿＿＿

コンパスの 長さ・まわりの 長さ（12問）

学習日 ＿＿＿＿＿＿＿＿

・コンパスで かいた 2本は 同じ 長さ。しるしの ついた 辺も 同じ 長さ
・答えは □ に書く。文章題は たんいも 書く

1 コンパスの 開き 8cm、まわり 27cmの 図。ABは 何cmですか。

□ cm

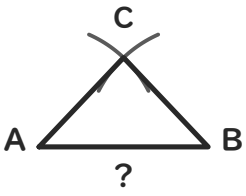

2 この 二等辺三角形の まわりは 16cm。?は 何cmですか。

□ cm

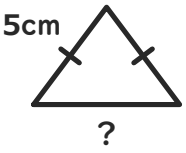

3 コンパスの 開き 5cm、まわり 12cmの 図。ABは 何cmですか。

□ cm

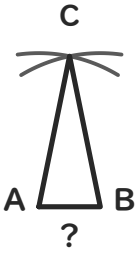

4 この 二等辺三角形の まわりは 16cm。?は 何cmですか。

□ cm

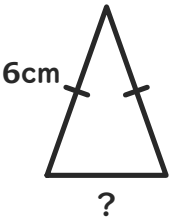

5 コンパスの 開き 9cm、まわり 23cmの 図。ABは 何cmですか。

□ cm

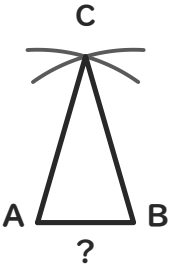

6 この 二等辺三角形の まわりは 10cm。?は 何cmですか。

□ cm

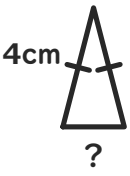

7 コンパスの 開き 5cm、まわり 17cmの 図。ABは 何cmですか。

□ cm

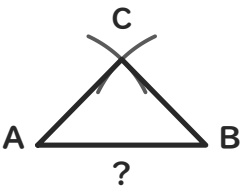

8 この 二等辺三角形の まわりは 17cm。?は 何cmですか。

□ cm

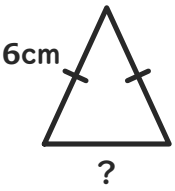

9 コンパスの 開き 9cm、まわり 30cmの 図。ABは 何cmですか。

□ cm

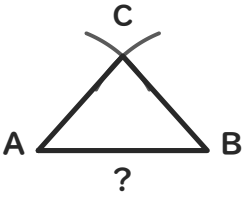

10 この 二等辺三角形の まわりは 25cm。?は 何cmですか。

□ cm

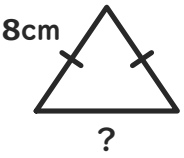

11 コンパスの 開き 6cm、まわり 15cmの 図。ABは 何cmですか。

□ cm

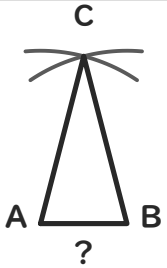

12 この 二等辺三角形の まわりは 13cm。?は 何cmですか。

□ cm

