# 小3 二等辺三角形と正三角形 とっくんドリル③-3

なまえ ＿＿＿＿＿＿＿＿

コンパスの 長さ・まわりの 長さ（12問）

学習日 ＿＿＿＿＿＿＿＿

・コンパスで かいた 2本は 同じ 長さ。しるしの ついた 辺も 同じ 長さ
・答えは □ に書く。文章題は たんいも 書く

**1** コンパスで かいた
図の まわりは 27cm。
開きは 何cmですか。

□ cm

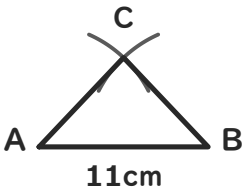


**2** まわりが 36cmの 正三角形。
1つの 辺は 何cmですか。

（たんいも 書こう）

□

**3** コンパスで かいた
図の まわりは 10cm。
開きは 何cmですか。

□ cm

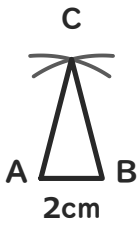


**4** まわりが 12cmの 正三角形。
1つの 辺は 何cmですか。

（たんいも 書こう）

□

**5** コンパスで かいた
図の まわりは 20cm。
開きは 何cmですか。

□ cm

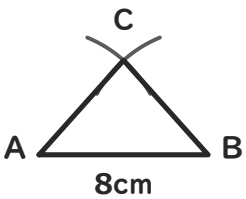


**6** まわりが 60cmの 正三角形。
1つの 辺は 何cmですか。

（たんいも 書こう）

□

**7** コンパスで かいた
図の まわりは 12cm。
開きは 何cmですか。

□ cm

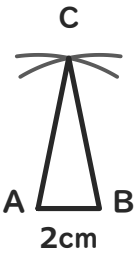


**8** まわりが 66cmの 正三角形。
1つの 辺は 何cmですか。

（たんいも 書こう）

□

**9** コンパスで かいた
図の まわりは 23cm。
開きは 何cmですか。

□ cm

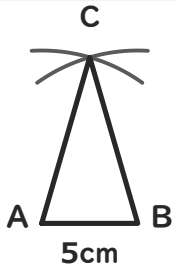


**10** まわりが 18cmの 正三角形。
1つの 辺は 何cmですか。

（たんいも 書こう）

□

**11** コンパスで かいた
図の まわりは 17cm。
開きは 何cmですか。

□ cm

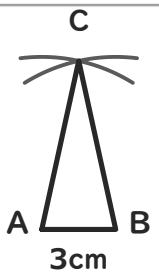


**12** まわりが 6cmの 正三角形。
1つの 辺は 何cmですか。

（たんいも 書こう）

□

# 小3 二等辺三角形と正三角形 とっくんドリル③-3【こたえ】

なまえ ＿＿＿＿＿＿＿＿

×があったら「③-4」へ。ぜんぶ○なら つぎの そうごうテストへ

学習日 ＿＿＿＿＿＿＿＿

**1** まわり 27cm・ABが 11cm の コンパスの 開き

答え 8cm

よくある×：16cm
（2本分を 1本の 長さと みて、2で わらない）

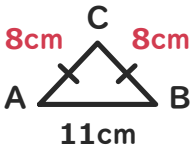


**2** まわり 36cm の 正三角形の 1つの 辺

答え 12cm

よくある×：18cm
（3で なく 2で わる）

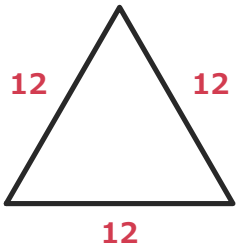


**3** まわり 10cm・ABが 2cm の コンパスの 開き

答え 4cm

よくある×：8cm
（2本分を 1本の 長さと みて、2で わらない）

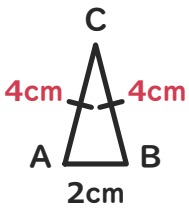


**4** まわり 12cm の 正三角形の 1つの 辺

答え 4cm

よくある×：6cm
（3で なく 2で わる）

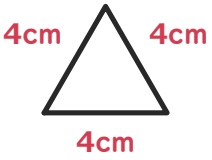


**5** まわり 20cm・ABが 8cm の コンパスの 開き

答え 6cm

よくある×：12cm
（2本分を 1本の 長さと みて、2で わらない）

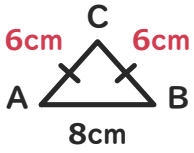


**6** まわり 60cm の 正三角形の 1つの 辺

答え 20cm

よくある×：30cm
（3で なく 2で わる）

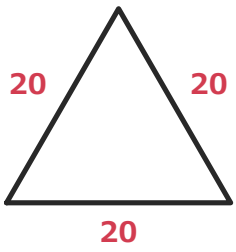


**7** まわり 12cm・ABが 2cm の コンパスの 開き

答え 5cm

よくある×：10cm
（2本分を 1本の 長さと みて、2で わらない）

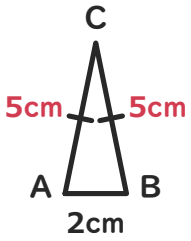


**8** まわり 66cm の 正三角形の 1つの 辺

答え 22cm

よくある×：33cm
（3で なく 2で わる）

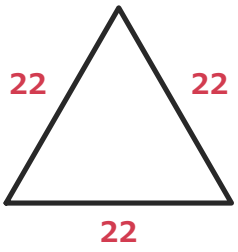


**9** まわり 23cm・ABが 5cm の コンパスの 開き

答え 9cm

よくある×：18cm
（2本分を 1本の 長さと みて、2で わらない）

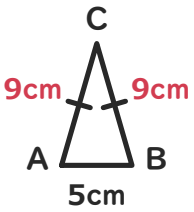


**10** まわり 18cm の 正三角形の 1つの 辺

答え 6cm

よくある×：9cm
（3で なく 2で わる）

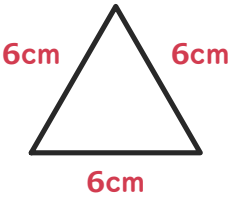


**11** まわり 17cm・ABが 3cm の コンパスの 開き

答え 7cm

よくある×：14cm
（2本分を 1本の 長さと みて、2で わらない）

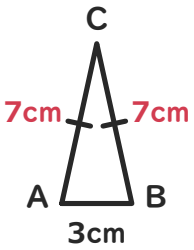


**12** まわり 6cm の 正三角形の 1つの 辺

答え 2cm

よくある×：3cm
（3で なく 2で わる）




丸つけ：文章題は、数と たんいの 両方が 合って いれば○。
×が多い型は、練習プリント⑤⑥（ときかたつき）で ときかたを 見直す。

いちごドリル プリント