小3 二等辺三角形と正三角形 とっくんドリル③-3

なまえ ＿＿＿＿＿＿＿＿

コンパスの 長さ・まわりの 長さ（12問）

学習日 ＿＿＿＿＿＿＿＿

・コンパスで かいた 2本は 同じ 長さ。しるしの ついた 辺も 同じ 長さ
・答えは □ に書く。文章題は たんいも 書く

1 コンパスで かいた
図の まわりは 27cm。
開きは 何cmですか。

□ cm

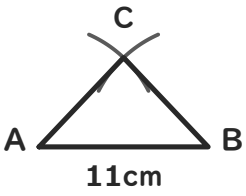

2 まわりが 36cmの 正三角形。
1つの 辺は 何cmですか。

（たんいも 書こう）

□

3 コンパスで かいた
図の まわりは 10cm。
開きは 何cmですか。

□ cm

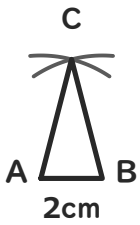

4 まわりが 12cmの 正三角形。
1つの 辺は 何cmですか。

（たんいも 書こう）

□

5 コンパスで かいた
図の まわりは 20cm。
開きは 何cmですか。

□ cm

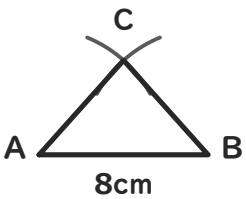

6 まわりが 60cmの 正三角形。
1つの 辺は 何cmですか。

（たんいも 書こう）

□

7 コンパスで かいた
図の まわりは 12cm。
開きは 何cmですか。

□ cm

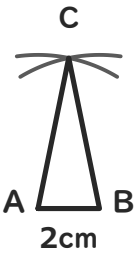

8 まわりが 66cmの 正三角形。
1つの 辺は 何cmですか。

（たんいも 書こう）

□

9 コンパスで かいた
図の まわりは 23cm。
開きは 何cmですか。

□ cm

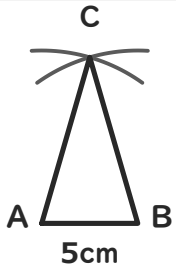

10 まわりが 18cmの 正三角形。
1つの 辺は 何cmですか。

（たんいも 書こう）

□

11 コンパスで かいた
図の まわりは 17cm。
開きは 何cmですか。

□ cm

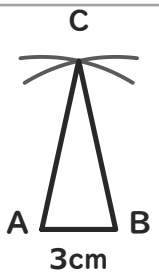

12 まわりが 6cmの 正三角形。
1つの 辺は 何cmですか。

（たんいも 書こう）

□