小3 二等辺三角形と正三角形 とっくんドリル③-2

なまえ ＿＿＿＿＿＿＿＿

コンパスの 長さ・まわりの 長さ（12問）

学習日 ＿＿＿＿＿＿＿＿

・コンパスで かいた 2本は 同じ 長さ。しるしの ついた 辺も 同じ 長さ
・答えは □ に書く。文章題は たんいも 書く

1 コンパスを 9cmに 開いて かいた 図。ACと BCの 合計は？

□ cm

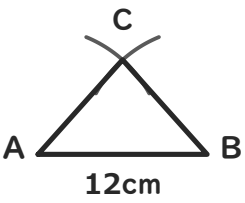

2 この 正三角形の まわりは 何cmですか。

□ cm



3 コンパスを 4cmに 開いて かいた 図。ACと BCの 合計は？

□ cm

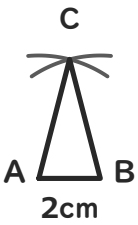

4 この 正三角形の まわりは 何cmですか。

□ cm

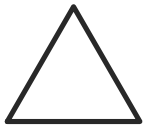

5 コンパスを 8cmに 開いて かいた 図。ACと BCの 合計は？

□ cm

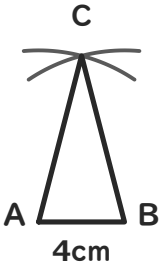

6 この 正三角形の まわりは 何cmですか。

□ cm



7 コンパスを 3cmに 開いて かいた 図。ACと BCの 合計は？

□ cm

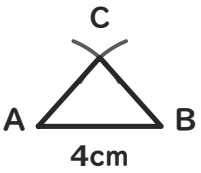

8 この 正三角形の まわりは 何cmですか。

□ cm

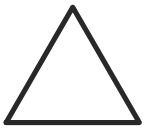

9 コンパスを 5cmに 開いて かいた 図。ACと BCの 合計は？

□ cm



10 この 正三角形の まわりは 何cmですか。

□ cm



11 コンパスを 6cmに 開いて かいた 図。ACと BCの 合計は？

□ cm

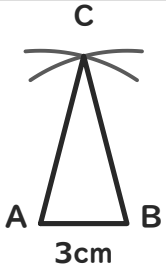

12 この 正三角形の まわりは 何cmですか。

□ cm



いちごドリル プリント

解きおわったら よんでね
答えと次の1枚がひらきます

小3 二等辺三角形と正三角形 とっくんドリル③-2【こたえ】

なまえ ＿＿＿＿＿＿＿＿

×があったら「③-3」へ。ぜんぶ〇なら つぎの そうごうテストへ

学習日 ＿＿＿＿＿＿＿＿

① コンパス 9cm・ABが 12cm の ACと BCの 合計

答え 18cm

よくある×：9cm
（同じ 開きの 2本（ACと BC）を 1本しか 数えない）

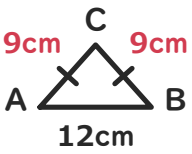

② 1つの 辺が 9cm の 正三角形

答え 27cm

よくある×：18cm
（辺を 2本しか たさない）

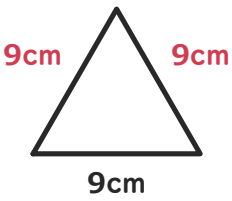

③ コンパス 4cm・ABが 2cm の ACと BCの 合計

答え 8cm

よくある×：4cm
（同じ 開きの 2本（ACと BC）を 1本しか 数えない）

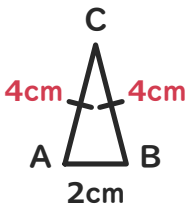

④ 1つの 辺が 6cm の 正三角形

答え 18cm

よくある×：12cm
（辺を 2本しか たさない）

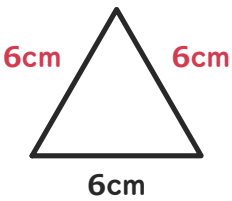

⑤ コンパス 8cm・ABが 4cm の ACと BCの 合計

答え 16cm

よくある×：8cm
（同じ 開きの 2本（ACと BC）を 1本しか 数えない）

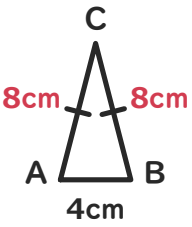

⑥ 1つの 辺が 4cm の 正三角形

答え 12cm

よくある×：8cm
（辺を 2本しか たさない）



⑦ コンパス 3cm・ABが 4cm の ACと BCの 合計

答え 6cm

よくある×：3cm
（同じ 開きの 2本（ACと BC）を 1本しか 数えない）

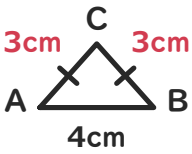

⑧ 1つの 辺が 8cm の 正三角形

答え 24cm

よくある×：16cm
（辺を 2本しか たさない）

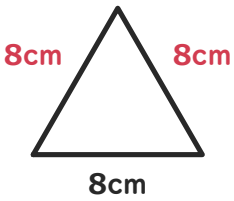

⑨ コンパス 5cm・ABが 2cm の ACと BCの 合計

答え 10cm

よくある×：5cm
（同じ 開きの 2本（ACと BC）を 1本しか 数えない）

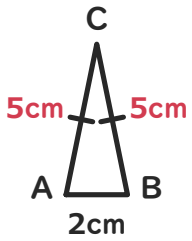

⑩ 1つの 辺が 3cm の 正三角形

答え 9cm

よくある×：6cm
（辺を 2本しか たさない）



⑪ コンパス 6cm・ABが 3cm の ACと BCの 合計

答え 12cm

よくある×：6cm
（同じ 開きの 2本（ACと BC）を 1本しか 数えない）

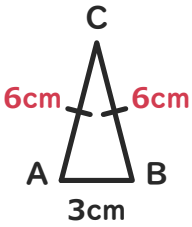

⑫ 1つの 辺が 5cm の 正三角形

答え 15cm

よくある×：10cm
（辺を 2本しか たさない）

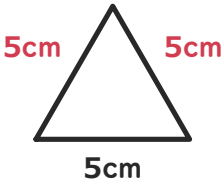

×が多い型は、練習プリント⑤⑥（ときかたつき）で ときかたを 見直す。