小3 二等辺三角形と正三角形 とっくんドリル③-1

なまえ ＿＿＿＿＿＿＿＿

コンパスの 長さ・まわりの 長さ（12問）

学習日 ＿＿＿＿＿＿＿＿

・コンパスで かいた 2本は 同じ 長さ。しるしの ついた 辺も 同じ 長さ
・答えは □ に書く。文章題は たんいも 書く

1 コンパスを 7cmに 開いて かいた 図。まわりは 何cmですか。

□ cm

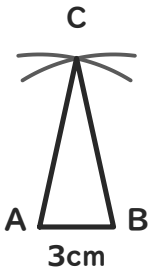

2 この 二等辺三角形の まわりは 何cmですか。

□ cm

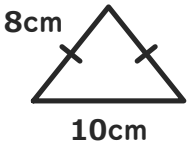

3 コンパスを 9cmに 開いて かいた 図。まわりは 何cmですか。

□ cm

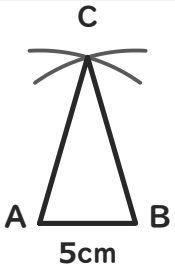

4 この 二等辺三角形の まわりは 何cmですか。

□ cm

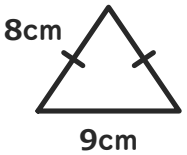

5 コンパスを 6cmに 開いて かいた 図。まわりは 何cmですか。

□ cm

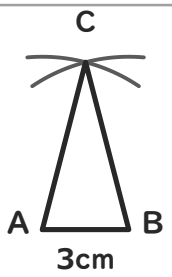

6 この 二等辺三角形の まわりは 何cmですか。

□ cm

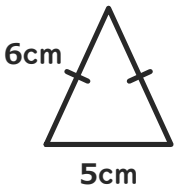

7 コンパスを 9cmに 開いて かいた 図。まわりは 何cmですか。

□ cm

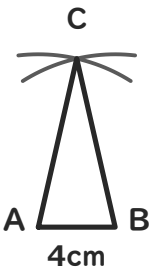

8 この 二等辺三角形の まわりは 何cmですか。

□ cm

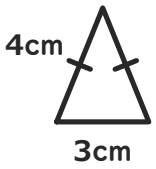

9 コンパスを 8cmに 開いて かいた 図。まわりは 何cmですか。

□ cm

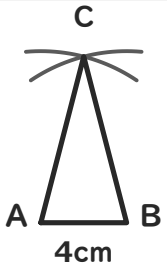

10 この 二等辺三角形の まわりは 何cmですか。

□ cm

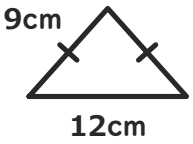

11 コンパスを 5cmに 開いて かいた 図。まわりは 何cmですか。

□ cm

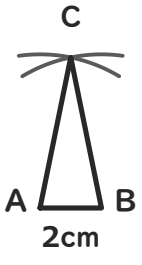

12 この 二等辺三角形の まわりは 何cmですか。

□ cm

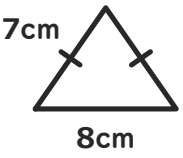

小3 二等辺三角形と正三角形 とっくんドリル③-1【こたえ】

なまえ ＿＿＿＿＿＿＿＿

×があったら「③-2」へ。ぜんぶ〇なら つぎの そうごうテストへ

学習日 ＿＿＿＿＿＿＿＿

① コンパス 7cm・ABが 3cm の まわり

答え 17cm

よくある×：10cm
（同じ 開きの 2本（ACと BC）を 1本しか 数えない）

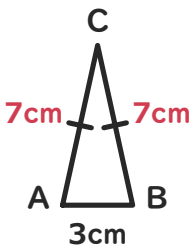

② 等しい 辺 8cm・のこり 10cm の 二等辺三角形

答え 26cm

よくある×：18cm
（しるしを 見ず、等しい 辺を 1回しか たさない）

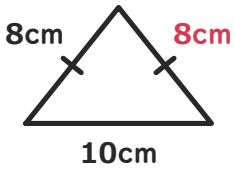

③ コンパス 9cm・ABが 5cm の まわり

答え 23cm

よくある×：14cm
（同じ 開きの 2本（ACと BC）を 1本しか 数えない）

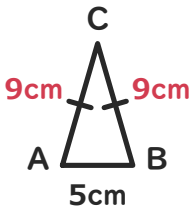

④ 等しい 辺 8cm・のこり 9cm の 二等辺三角形

答え 25cm

よくある×：17cm
（しるしを 見ず、等しい 辺を 1回しか たさない）

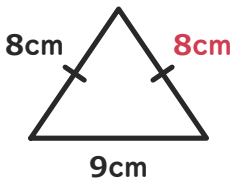

⑤ コンパス 6cm・ABが 3cm の まわり

答え 15cm

よくある×：9cm
（同じ 開きの 2本（ACと BC）を 1本しか 数えない）

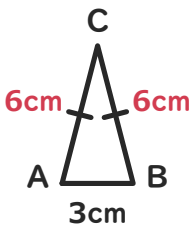

⑥ 等しい 辺 6cm・のこり 5cm の 二等辺三角形

答え 17cm

よくある×：11cm
（しるしを 見ず、等しい 辺を 1回しか たさない）

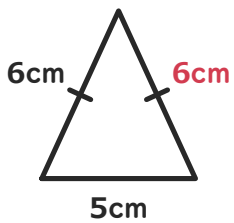

⑦ コンパス 9cm・ABが 4cm の まわり

答え 22cm

よくある×：13cm
（同じ 開きの 2本（ACと BC）を 1本しか 数えない）

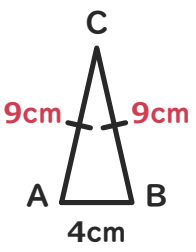

⑧ 等しい 辺 4cm・のこり 3cm の 二等辺三角形

答え 11cm

よくある×：7cm
（しるしを 見ず、等しい 辺を 1回しか たさない）

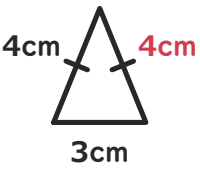

⑨ コンパス 8cm・ABが 4cm の まわり

答え 20cm

よくある×：12cm
（同じ 開きの 2本（ACと BC）を 1本しか 数えない）

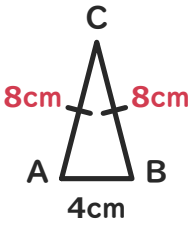

⑩ 等しい 辺 9cm・のこり 12cm の 二等辺三角形

答え 30cm

よくある×：21cm
（しるしを 見ず、等しい 辺を 1回しか たさない）

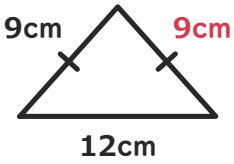

⑪ コンパス 5cm・ABが 2cm の まわり

答え 12cm

よくある×：7cm
（同じ 開きの 2本（ACと BC）を 1本しか 数えない）

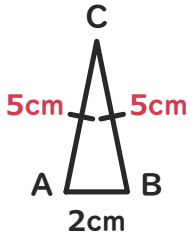

⑫ 等しい 辺 7cm・のこり 8cm の 二等辺三角形

答え 22cm

よくある×：15cm
（しるしを 見ず、等しい 辺を 1回しか たさない）

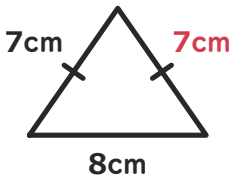

×が多い型は、練習プリント⑤⑥（ときかたつき）で ときかたを 見直す。