小3 二等辺三角形と正三角形 とっくんドリル③-1

なまえ ＿＿＿＿＿＿＿＿

コンパスの 長さ・まわりの 長さ（12問）

学習日 ＿＿＿＿＿＿＿＿

・コンパスで かいた 2本は 同じ 長さ。しるしの ついた 辺も 同じ 長さ
・答えは □ に書く。文章題は たんいも 書く

1 コンパスを 7cmに 開いて かいた 図。まわりは 何cmですか。

□ cm

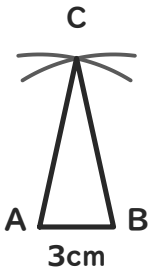

2 この 二等辺三角形の まわりは 何cmですか。

□ cm

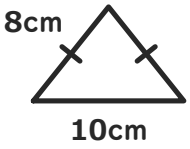

3 コンパスを 9cmに 開いて かいた 図。まわりは 何cmですか。

□ cm

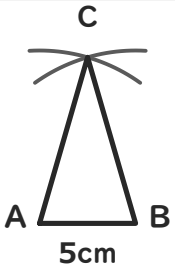

4 この 二等辺三角形の まわりは 何cmですか。

□ cm

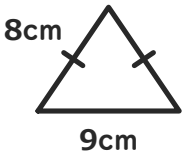

5 コンパスを 6cmに 開いて かいた 図。まわりは 何cmですか。

□ cm

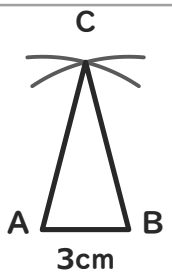

6 この 二等辺三角形の まわりは 何cmですか。

□ cm

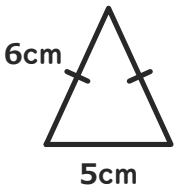

7 コンパスを 9cmに 開いて かいた 図。まわりは 何cmですか。

□ cm

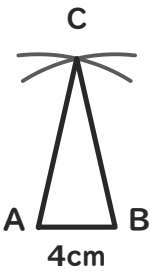

8 この 二等辺三角形の まわりは 何cmですか。

□ cm

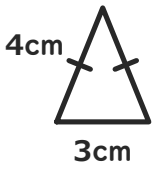

9 コンパスを 8cmに 開いて かいた 図。まわりは 何cmですか。

□ cm

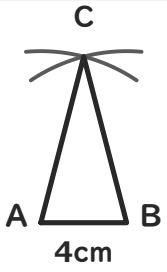

10 この 二等辺三角形の まわりは 何cmですか。

□ cm

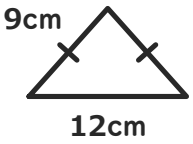

11 コンパスを 5cmに 開いて かいた 図。まわりは 何cmですか。

□ cm

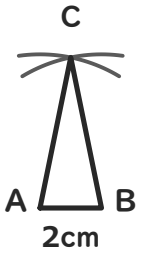

12 この 二等辺三角形の まわりは 何cmですか。

□ cm

