小3 二等辺三角形と正三角形 とっくんドリル②-5

なまえ ＿＿＿＿＿＿＿＿

等しい 角・切って できる 三角形（12問）

学習日 ＿＿＿＿＿＿＿＿

・図の しるしの ついた 辺は 同じ 長さ。点線は 切る 線。図の 数の たんいは cm
・角は 記号（A・B・C）を 書く。○か×の 問は ○か×を 書く

1 三角形ABCは、辺ACと 辺BCが 4cmずつの 二等辺三角形です。角Aと 等しい 角は どれですか。

角 ［　　］

2 正方形を かどから かどへ 切った 三角形の 5cmの 辺は 2本。正方形の まわりは 何cmですか。

（たんいも 書こう）［　　］

3 二等辺三角形ABC。角Cと 等しい 角は どれですか。

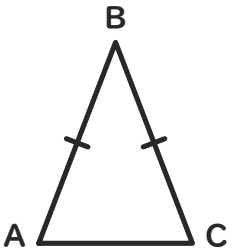

角 ［　　］

4 正方形を かどから かどへ 切った 三角形の 14cmの 辺は 2本。正方形の まわりは 何cmですか。

（たんいも 書こう）［　　］

5 図の 三角形ABCで、角Bと 等しい 角は どれですか。

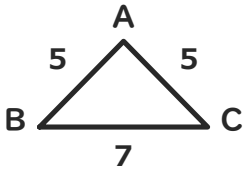

角 ［　　］

6 正方形を かどから かどへ 切った 三角形の 8cmの 辺は 2本。正方形の まわりは 何cmですか。

（たんいも 書こう）［　　］

7 二等辺三角形ABC。角Aと 等しい 角は どれですか。

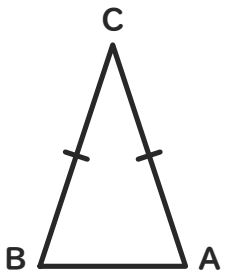

角 ［　　］

8 正方形を かどから かどへ 切った 三角形の 13cmの 辺は 2本。正方形の まわりは 何cmですか。

（たんいも 書こう）［　　］

9 図の 三角形ABCで、角Aと 等しい 角は どれですか。

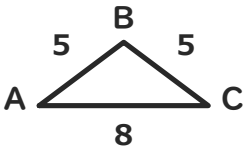

角 ［　　］

10 正方形を かどから かどへ 切った 三角形の 24cmの 辺は 2本。正方形の まわりは 何cmですか。

（たんいも 書こう）［　　］

11 三角形ABCは、辺ABと 辺BCが 5cmずつの 二等辺三角形です。角Cと 等しい 角は どれですか。

角 ［　　］

12 正方形を かどから かどへ 切った 三角形の 17cmの 辺は 2本。正方形の まわりは 何cmですか。

（たんいも 書こう）［　　］