小3 二等辺三角形と正三角形 とっくんドリル②-4

なまえ ＿＿＿＿＿＿＿＿

等しい 角・切って できる 三角形（12問）

学習日 ＿＿＿＿＿＿＿＿

・図の しるしの ついた 辺は 同じ 長さ。点線は 切る 線。図の 数の たんいは cm
・角は 記号（A・B・C）を 書く。○か×の 問は ○か×を 書く

1 図の 三角形ABCで、角Cと 等しい 角は どれですか。

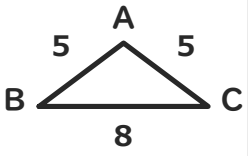

角 ［　　］

2 正方形を 切った 三角形の 8cmの 辺は 何本 ありますか。

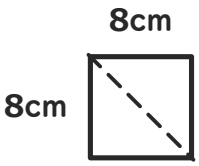

［　　］本

3 図の 三角形ABCで、角Aと 等しい 角は どれですか。

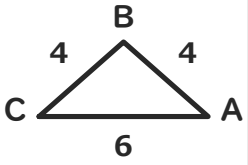

角 ［　　］

4 長方形を 切った 三角形の 6cmの 辺は 何本 ありますか。

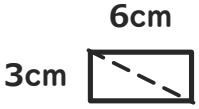

［　　］本

5 図の 三角形ABCで、角Aと 等しい 角は どれですか。

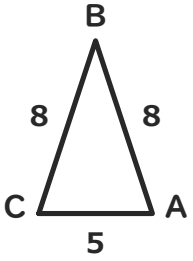

角 ［　　］

6 長方形を 切った 三角形の 7cmの 辺は 何本 ありますか。

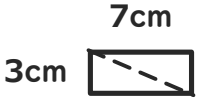

［　　］本

7 図の 三角形ABCで、角Aと 等しい 角は どれですか。

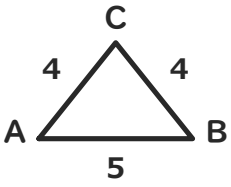

角 ［　　］

8 正方形を 切った 三角形の 5cmの 辺は 何本 ありますか。

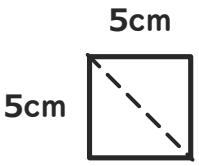

［　　］本

9 図の 三角形ABCで、角Cと 等しい 角は どれですか。



角 ［　　］

10 正方形を 切った 三角形の 7cmの 辺は 何本 ありますか。

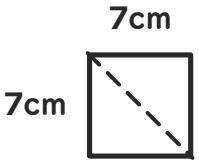

［　　］本

11 図の 三角形ABCで、角Cと 等しい 角は どれですか。

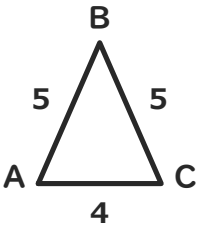

角 ［　　］

12 長方形を 切った 三角形の 2cmの 辺は 何本 ありますか。

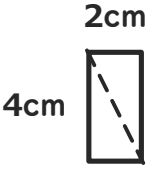

［　　］本

小3 二等辺三角形と正三角形 とっくんドリル②-4【こたえ】

なまえ ＿＿＿＿＿＿＿＿

×があったら「②-5」へ。ぜんぶ○なら つぎの そうごうテストへ

学習日 ＿＿＿＿＿＿＿＿

① 辺ABと 辺ACが 同じ 三角形ABCの 角C

答え 角B

よくある×：角A
（等しい 辺に はさまれた 角Aを えらぶ）

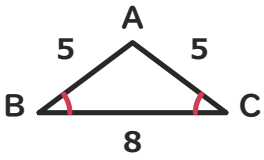

② 8cmの 正方形の 三角形の 8cmの 辺

答え 2本

よくある×：1本
（切り口の 辺を 見て、同じ 長さは 1本と みる）

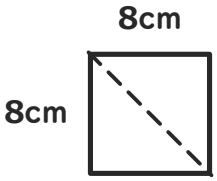

③ 辺BCと 辺ABが 同じ 三角形ABCの 角A

答え 角C

よくある×：角B
（等しい 辺に はさまれた 角Bを えらぶ）

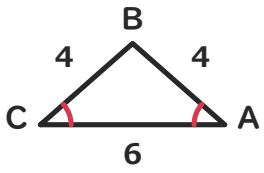

④ たて3・よこ6cmの 長方形の 三角形の 6cmの 辺

答え 1本

よくある×：2本
（長方形でも 正方形と 同じに 2本 あると みる）

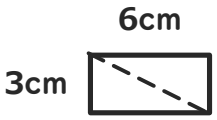

⑤ 辺BCと 辺ABが 同じ 三角形ABCの 角A

答え 角C

よくある×：角B
（等しい 辺に はさまれた 角Bを えらぶ）

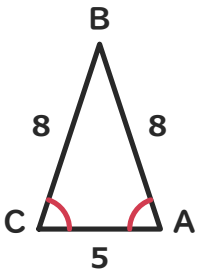

⑥ たて3・よこ7cmの 長方形の 三角形の 7cmの 辺

答え 1本

よくある×：2本
（長方形でも 正方形と 同じに 2本 あると みる）

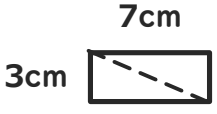

⑦ 辺ACと 辺BCが 同じ 三角形ABCの 角A

答え 角B

よくある×：角C
（等しい 辺に はさまれた 角Cを えらぶ）

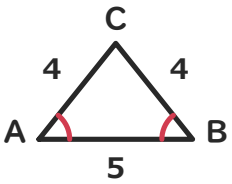

⑧ 5cmの 正方形の 三角形の 5cmの 辺

答え 2本

よくある×：1本
（切り口の 辺を 見て、同じ 長さは 1本と みる）

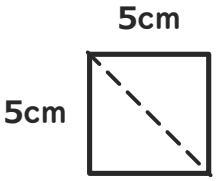

⑨ 辺ABと 辺BCが 同じ 三角形ABCの 角C

答え 角A

よくある×：角B
（等しい 辺に はさまれた 角Bを えらぶ）



⑩ 7cmの 正方形の 三角形の 7cmの 辺

答え 2本

よくある×：1本
（切り口の 辺を 見て、同じ 長さは 1本と みる）

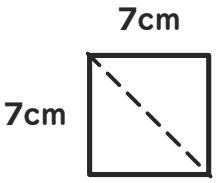

⑪ 辺ABと 辺BCが 同じ 三角形ABCの 角C

答え 角A

よくある×：角B
（等しい 辺に はさまれた 角Bを えらぶ）

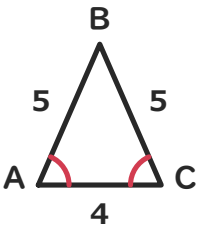

⑫ たて4・よこ2cmの 長方形の 三角形の 2cmの 辺

答え 1本

よくある×：2本
（長方形でも 正方形と 同じに 2本 あると みる）

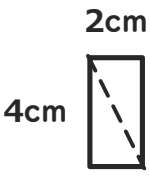

×が多い型は、練習プリント③④（ときかたつき）で ときかたを 見直す。

いちごドリル プリント