小3 二等辺三角形と正三角形 とっくんドリル②-4

なまえ ＿＿＿＿＿＿＿＿

等しい 角・切って できる 三角形（12問）

学習日 ＿＿＿＿＿＿＿＿

・図の しるしの ついた 辺は 同じ 長さ。点線は 切る 線。図の 数の たんいは cm
・角は 記号（A・B・C）を 書く。○か×の 問は ○か×を 書く

1 図の 三角形ABCで、角Cと 等しい 角は どれですか。

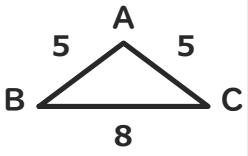

角 ［　　］

2 正方形を 切った 三角形の 8cmの 辺は 何本 ありますか。

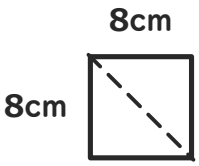

［　　］本

3 図の 三角形ABCで、角Aと 等しい 角は どれですか。

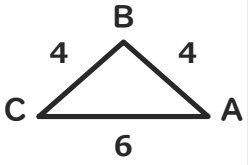

角 ［　　］

4 長方形を 切った 三角形の 6cmの 辺は 何本 ありますか。

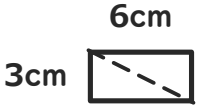

［　　］本

5 図の 三角形ABCで、角Aと 等しい 角は どれですか。

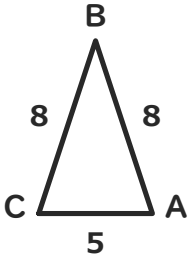

角 ［　　］

6 長方形を 切った 三角形の 7cmの 辺は 何本 ありますか。

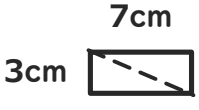

［　　］本

7 図の 三角形ABCで、角Aと 等しい 角は どれですか。

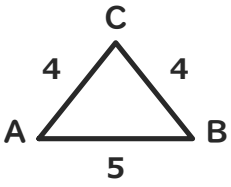

角 ［　　］

8 正方形を 切った 三角形の 5cmの 辺は 何本 ありますか。

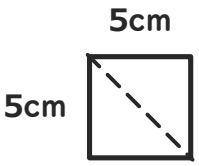

［　　］本

9 図の 三角形ABCで、角Cと 等しい 角は どれですか。



角 ［　　］

10 正方形を 切った 三角形の 7cmの 辺は 何本 ありますか。

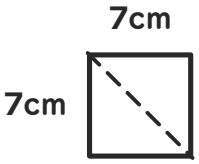

［　　］本

11 図の 三角形ABCで、角Cと 等しい 角は どれですか。

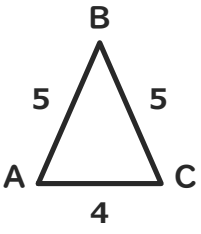

角 ［　　］

12 長方形を 切った 三角形の 2cmの 辺は 何本 ありますか。

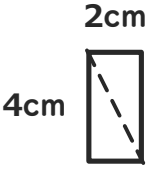

［　　］本