小3 二等辺三角形と正三角形 とっくんドリル②-3

なまえ ＿＿＿＿＿＿＿＿

等しい 角・切って できる 三角形（12問）

学習日 ＿＿＿＿＿＿＿＿

・図の しるしの ついた 辺は 同じ 長さ。点線は 切る 線。図の 数の たんいは cm
・角は 記号（A・B・C）を 書く。○か×の 問は ○か×を 書く

1 三角形ABCは、辺BCと 辺ABが 9cmずつの 二等辺三角形です。角Cと 等しい 角は どれですか。

角 ［　　］

2 正方形を 点線で 切った 三角形は 正三角形ですか。

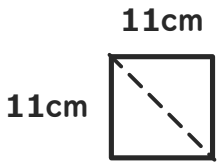

［　　］

3 三角形ABCは、辺ACと 辺ABが 4cmずつの 二等辺三角形です。角Bと 等しい 角は どれですか。

角 ［　　］

4 正方形を 点線で 切った 三角形は 正三角形ですか。

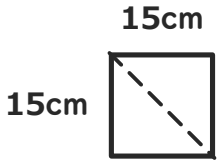

［　　］

5 三角形ABCは、辺BCと 辺ACが 同じ 長さの 二等辺三角形です。角Aと 等しい 角は どれですか。

角 ［　　］

6 正方形を 点線で 切った 三角形は 二等辺三角形ですか。

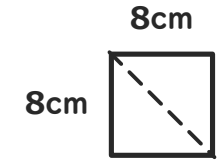

［　　］

7 三角形ABCは、辺ABと 辺BCが 8cmずつの 二等辺三角形です。角Cと 等しい 角は どれですか。

角 ［　　］

8 正方形を 点線で 切った 三角形は 二等辺三角形ですか。

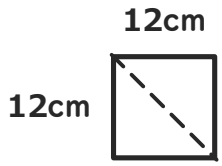

［　　］

9 三角形ABCは、辺ABと 辺ACが 4cmずつの 二等辺三角形です。角Cと 等しい 角は どれですか。

角 ［　　］

10 正方形を 点線で 切った 三角形は 正三角形ですか。

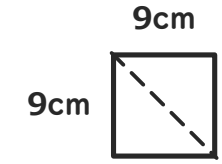

［　　］

11 三角形ABCは、辺BCと 辺ACが 6cmずつの 二等辺三角形です。角Aと 等しい 角は どれですか。

角 ［　　］

12 正方形を 点線で 切った 三角形は 二等辺三角形ですか。

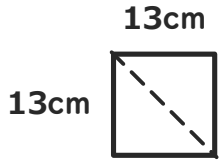

［　　］

いちごドリル プリント

解きおわったら よんでね
答えと次の1枚がひらきます