小3 二等辺三角形と正三角形 とっくんドリル②-2

なまえ ＿＿＿＿＿＿＿＿

等しい 角・切って できる 三角形（12問）

学習日 ＿＿＿＿＿＿＿＿

・図の しるしの ついた 辺は 同じ 長さ。点線は 切る 線。図の 数の たんいは cm
・角は 記号（A・B・C）を 書く。○か×の 問は ○か×を 書く

1 二等辺三角形ABC。角Cと 等しい 角は どれですか。

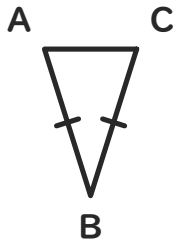

角 ［　　］

2 正方形を 点線で 切った 三角形は 二等辺三角形ですか。

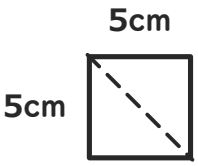

［　　］

3 二等辺三角形ABC。角Aと 等しい 角は どれですか。

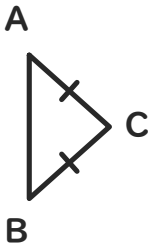

角 ［　　］

4 長方形を 点線で 切った 三角形は 二等辺三角形ですか。

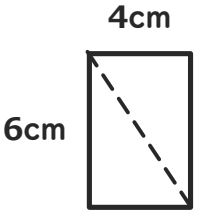

［　　］

5 二等辺三角形ABC。角Bと 等しい 角は どれですか。

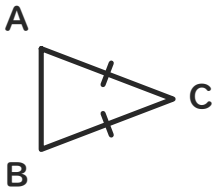

角 ［　　］

6 長方形を 点線で 切った 三角形は 二等辺三角形ですか。

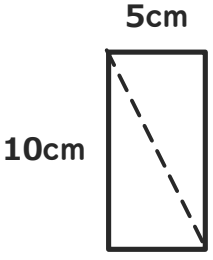

［　　］

7 二等辺三角形ABC。角Bと 等しい 角は どれですか。

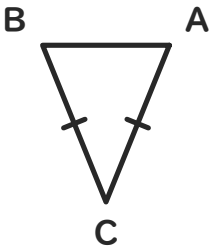

角 ［　　］

8 長方形を 点線で 切った 三角形は 二等辺三角形ですか。

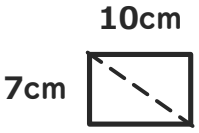

［　　］

9 二等辺三角形ABC。角Bと 等しい 角は どれですか。

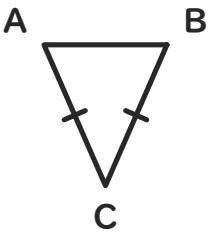

角 ［　　］

10 正方形を 点線で 切った 三角形は 二等辺三角形ですか。

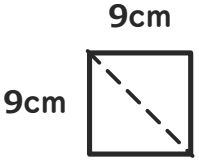

［　　］

11 二等辺三角形ABC。角Aと 等しい 角は どれですか。

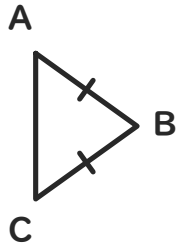

角 ［　　］

12 長方形を 点線で 切った 三角形は 二等辺三角形ですか。

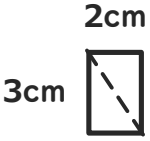

［　　］

小3 二等辺三角形と正三角形 とっくんドリル②-2【こたえ】

なまえ ＿＿＿＿＿＿＿＿

×があったら「②-3」へ。ぜんぶ○なら つぎの そうごうテストへ

学習日 ＿＿＿＿＿＿＿＿

① 辺BCと 辺ABが 同じ 三角形ABCの 角C

答え 角A

よくある×：角B
（等しい 辺に はさまれた 角Bを えらぶ）

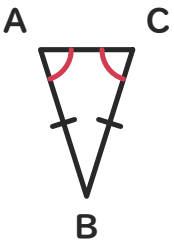

② 5cmの 正方形を 切った 三角形

答え ○

よくある×：×
（切り口の 辺だけ 長いので、ちがうと 決める）

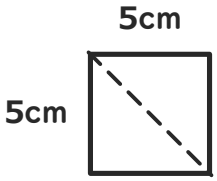

③ 辺ACと 辺BCが 同じ 三角形ABCの 角A

答え 角B

よくある×：角C
（等しい 辺に はさまれた 角Cを えらぶ）

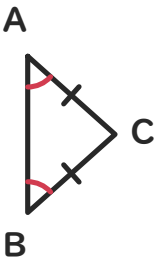

④ たて6・よこ4cmの 長方形を 切った 三角形

答え ×

よくある×：○
（長方形でも 正方形と 同じに、2本が 等しいと みる）

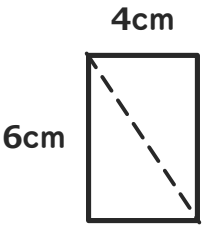

⑤ 辺ACと 辺BCが 同じ 三角形ABCの 角B

答え 角A

よくある×：角C
（等しい 辺に はさまれた 角Cを えらぶ）

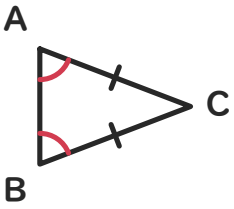

⑥ たて10・よこ5cmの 長方形を 切った 三角形

答え ×

よくある×：○
（長方形でも 正方形と 同じに、2本が 等しいと みる）

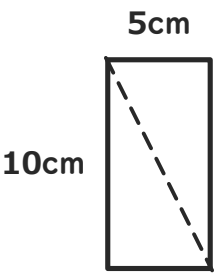

⑦ 辺ACと 辺BCが 同じ 三角形ABCの 角B

答え 角A

よくある×：角C
（等しい 辺に はさまれた 角Cを えらぶ）

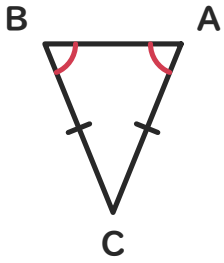

⑧ たて7・よこ10cmの 長方形を 切った 三角形

答え ×

よくある×：○
（長方形でも 正方形と 同じに、2本が 等しいと みる）

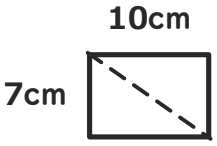

⑨ 辺BCと 辺ACが 同じ 三角形ABCの 角B

答え 角A

よくある×：角C
（等しい 辺に はさまれた 角Cを えらぶ）

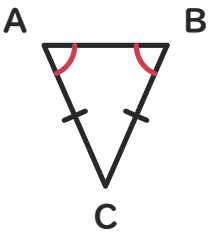

⑩ 9cmの 正方形を 切った 三角形

答え ○

よくある×：×
（切り口の 辺だけ 長いので、ちがうと 決める）

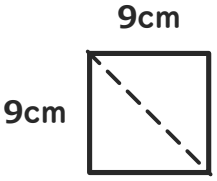

⑪ 辺ABと 辺BCが 同じ 三角形ABCの 角A

答え 角C

よくある×：角B
（等しい 辺に はさまれた 角Bを えらぶ）

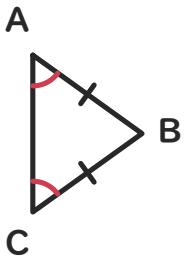

⑫ たて3・よこ2cmの 長方形を 切った 三角形

答え ×

よくある×：○
（長方形でも 正方形と 同じに、2本が 等しいと みる）

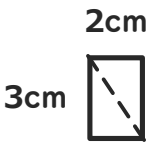

×が多い型は、練習プリント③④（ときかたつき）で ときかたを 見直す。

いちごドリル プリント