小3 二等辺三角形と正三角形 とっくんドリル②-2

なまえ ＿＿＿＿＿＿＿＿

等しい 角・切って できる 三角形（12問）

学習日 ＿＿＿＿＿＿＿＿

・図の しるしの ついた 辺は 同じ 長さ。点線は 切る 線。図の 数の たんいは cm
・角は 記号（A・B・C）を 書く。○か×の 問は ○か×を 書く

1 二等辺三角形ABC。角Cと 等しい 角は どれですか。

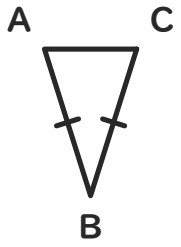

角 ［　　］

2 正方形を 点線で 切った 三角形は 二等辺三角形ですか。

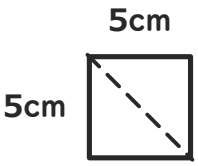

［　　］

3 二等辺三角形ABC。角Aと 等しい 角は どれですか。

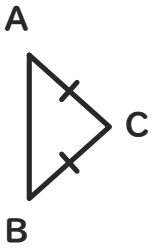

角 ［　　］

4 長方形を 点線で 切った 三角形は 二等辺三角形ですか。

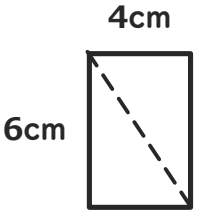

［　　］

5 二等辺三角形ABC。角Bと 等しい 角は どれですか。

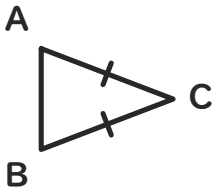

角 ［　　］

6 長方形を 点線で 切った 三角形は 二等辺三角形ですか。

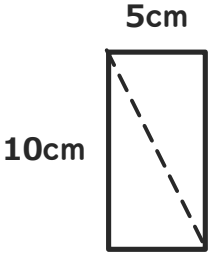

［　　］

7 二等辺三角形ABC。角Bと 等しい 角は どれですか。

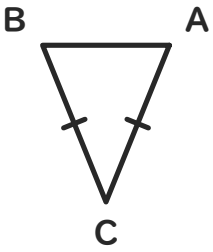

角 ［　　］

8 長方形を 点線で 切った 三角形は 二等辺三角形ですか。

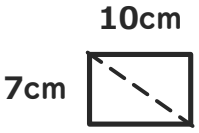

［　　］

9 二等辺三角形ABC。角Bと 等しい 角は どれですか。

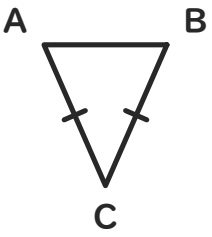

角 ［　　］

10 正方形を 点線で 切った 三角形は 二等辺三角形ですか。

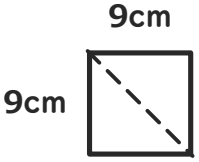

［　　］

11 二等辺三角形ABC。角Aと 等しい 角は どれですか。

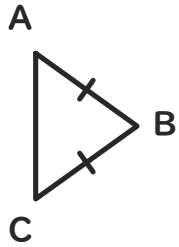

角 ［　　］

12 長方形を 点線で 切った 三角形は 二等辺三角形ですか。

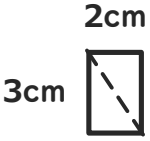

［　　］