小3 二等辺三角形と正三角形 とっくんドリル②-1

なまえ ＿＿＿＿＿＿＿＿

等しい 角・切って できる 三角形（12問）

学習日 ＿＿＿＿＿＿＿＿

・図の しるしの ついた 辺は 同じ 長さ。点線は 切る 線。図の 数の たんいは cm
・角は 記号（A・B・C）を 書く。○か×の 問は ○か×を 書く

1 二等辺三角形ABC。
角Bと 等しい 角は
どれですか。

角 ［　　］

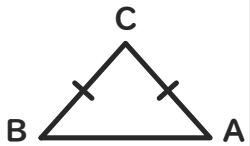

2 正方形を 点線で
切った 三角形は
二等辺三角形ですか。

［　　］

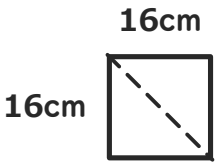

3 二等辺三角形ABC。
角Aと 等しい 角は
どれですか。

角 ［　　］

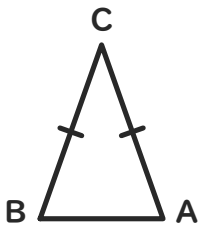

4 長方形を 点線で
切った 三角形は
二等辺三角形ですか。

［　　］

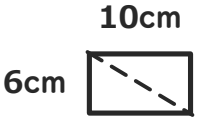

5 二等辺三角形ABC。
角Bと 等しい 角は
どれですか。

角 ［　　］

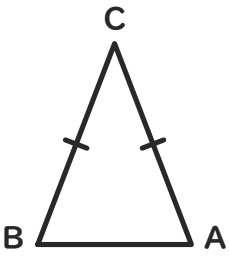

6 長方形を 点線で
切った 三角形は
二等辺三角形ですか。

［　　］

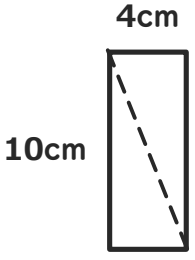

7 二等辺三角形ABC。
角Cと 等しい 角は
どれですか。

角 ［　　］

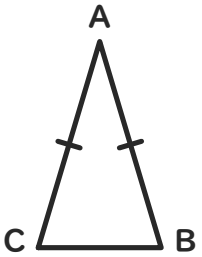

8 正方形を 点線で
切った 三角形は
二等辺三角形ですか。

［　　］

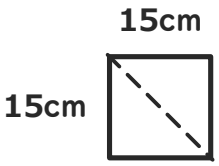

9 二等辺三角形ABC。
角Bと 等しい 角は
どれですか。

角 ［　　］

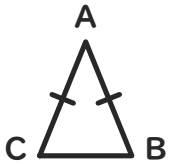

10 長方形を 点線で
切った 三角形は
二等辺三角形ですか。

［　　］

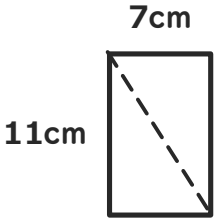

11 二等辺三角形ABC。
角Aと 等しい 角は
どれですか。

角 ［　　］

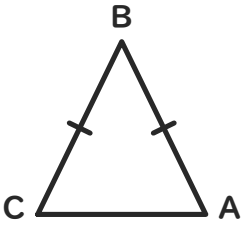

12 正方形を 点線で
切った 三角形は
二等辺三角形ですか。

［　　］

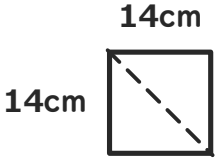

小3 二等辺三角形と正三角形 とっくんドリル②-1【こたえ】

なまえ ＿＿＿＿＿＿＿＿

×があったら「②-2」へ。ぜんぶ○なら つぎの そうごうテストへ

学習日 ＿＿＿＿＿＿＿＿

① 辺BCと 辺ACが 同じ 三角形ABCの 角B

答え 角A

よくある×：角C
（等しい 辺に はさまれた 角Cを えらぶ）

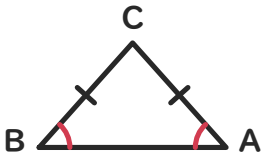

② 16cmの 正方形を 切った 三角形

答え ○

よくある×：×
（切り口の 辺だけ 長いので、ちがうと 決める）

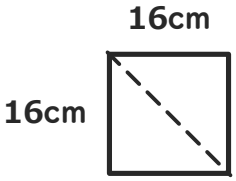

③ 辺BCと 辺ACが 同じ 三角形ABCの 角A

答え 角B

よくある×：角C
（等しい 辺に はさまれた 角Cを えらぶ）

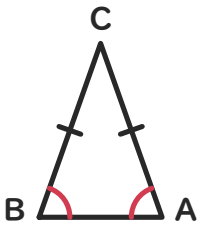

④ たて6・よこ10cmの 長方形を 切った 三角形

答え ×

よくある×：○
（長方形でも 正方形と 同じに、2本が 等しいと みる）

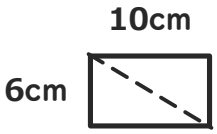

⑤ 辺BCと 辺ACが 同じ 三角形ABCの 角B

答え 角A

よくある×：角C
（等しい 辺に はさまれた 角Cを えらぶ）

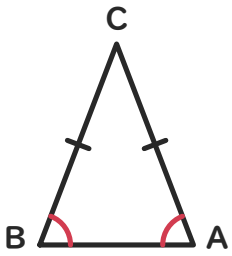

⑥ たて10・よこ4cmの 長方形を 切った 三角形

答え ×

よくある×：○
（長方形でも 正方形と 同じに、2本が 等しいと みる）

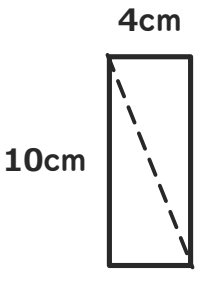

⑦ 辺ACと 辺ABが 同じ 三角形ABCの 角C

答え 角B

よくある×：角A
（等しい 辺に はさまれた 角Aを えらぶ）

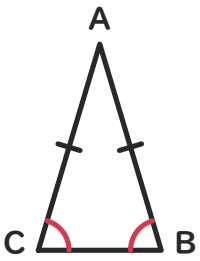

⑧ 15cmの 正方形を 切った 三角形

答え ○

よくある×：×
（切り口の 辺だけ 長いので、ちがうと 決める）

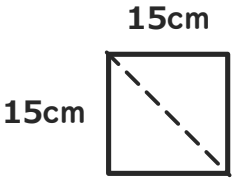

⑨ 辺ACと 辺ABが 同じ 三角形ABCの 角B

答え 角C

よくある×：角A
（等しい 辺に はさまれた 角Aを えらぶ）

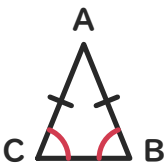

⑩ たて11・よこ7cmの 長方形を 切った 三角形

答え ×

よくある×：○
（長方形でも 正方形と 同じに、2本が 等しいと みる）

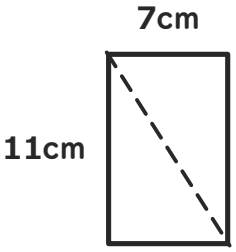

⑪ 辺BCと 辺ABが 同じ 三角形ABCの 角A

答え 角C

よくある×：角B
（等しい 辺に はさまれた 角Bを えらぶ）

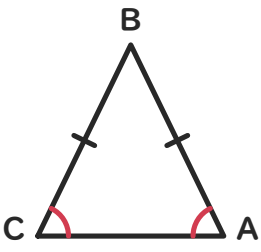

⑫ 14cmの 正方形を 切った 三角形

答え ○

よくある×：×
（切り口の 辺だけ 長いので、ちがうと 決める）

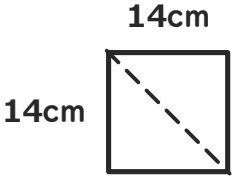

×が多い型は、練習プリント③④（ときかたつき）で ときかたを 見直す。

いちごドリル プリント