小3 二等辺三角形と正三角形 とっくんドリル②-1

なまえ ＿＿＿＿＿＿＿＿

等しい 角・切って できる 三角形（12問）

学習日 ＿＿＿＿＿＿＿＿

・図の しるしの ついた 辺は 同じ 長さ。点線は 切る 線。図の 数の たんいは cm
・角は 記号（A・B・C）を 書く。○か×の 問は ○か×を 書く

1 二等辺三角形ABC。
角Bと 等しい 角は
どれですか。

角 ［　　］

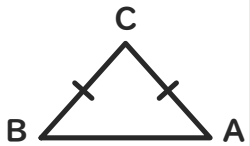

2 正方形を 点線で
切った 三角形は
二等辺三角形ですか。

［　　］

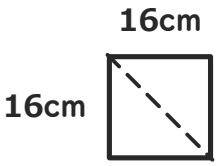

3 二等辺三角形ABC。
角Aと 等しい 角は
どれですか。

角 ［　　］

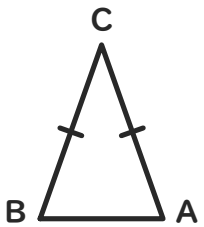

4 長方形を 点線で
切った 三角形は
二等辺三角形ですか。

［　　］

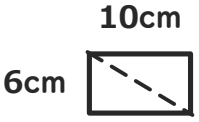

5 二等辺三角形ABC。
角Bと 等しい 角は
どれですか。

角 ［　　］

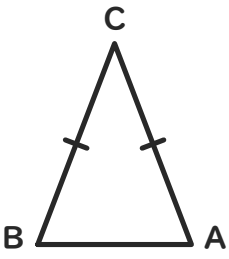

6 長方形を 点線で
切った 三角形は
二等辺三角形ですか。

［　　］

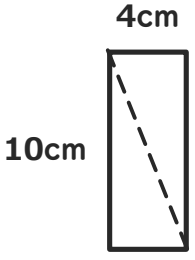

7 二等辺三角形ABC。
角Cと 等しい 角は
どれですか。

角 ［　　］

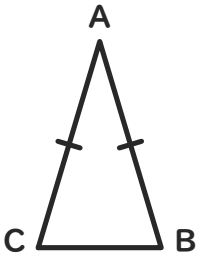

8 正方形を 点線で
切った 三角形は
二等辺三角形ですか。

［　　］

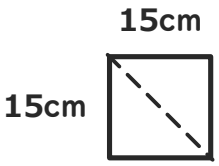

9 二等辺三角形ABC。
角Bと 等しい 角は
どれですか。

角 ［　　］

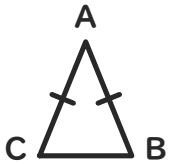

10 長方形を 点線で
切った 三角形は
二等辺三角形ですか。

［　　］

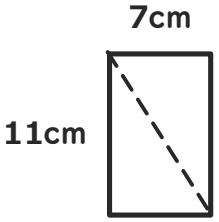

11 二等辺三角形ABC。
角Aと 等しい 角は
どれですか。

角 ［　　］

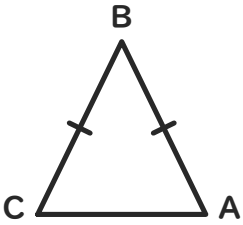

12 正方形を 点線で
切った 三角形は
二等辺三角形ですか。

［　　］

