小3 二等辺三角形と正三角形 とっくんドリル①-5

なまえ ＿＿＿＿＿＿＿＿

二等辺三角形と 正三角形の 見分け（12問）

学習日 ＿＿＿＿＿＿＿＿

・辺の 長さを 1本ずつ 見くらべる
・○か×の 問は ○か×、えらぶ 問は 記号を 書く。図の 数の たんいは cm

1 8cm、7cm、9cmの
ストローで 三角形を 作りました。
二等辺三角形ですか。

2 14cm、15cm、14cmの
ストローで 三角形を 作りました。
正三角形ですか。

3 4cm、7cm、7cmの
ストローで 三角形を 作りました。
二等辺三角形ですか。

4 19cm、19cm、19cmの
ストローで 三角形を 作りました。
正三角形ですか。

5 7cm、7cm、9cmの
ストローで 三角形を 作りました。
二等辺三角形ですか。

6 8cm、8cm、9cmの
ストローで 三角形を 作りました。
正三角形ですか。

7 8cm、7cm、4cmの
ストローで 三角形を 作りました。
二等辺三角形ですか。

8 12cm、12cm、13cmの
ストローで 三角形を 作りました。
正三角形ですか。

9 7cm、7cm、12cmの
ストローで 三角形を 作りました。
二等辺三角形ですか。

10 10cm、10cm、10cmの
ストローで 三角形を 作りました。
正三角形ですか。

11 7cm、6cm、11cmの
ストローで 三角形を 作りました。
二等辺三角形ですか。

12 15cm、15cm、16cmの
ストローで 三角形を 作りました。
正三角形ですか。

小3 二等辺三角形と正三角形 とっくんドリル①-5【こたえ】

なまえ ＿＿＿＿＿＿＿＿

×は 練習プリント→「①-1」へ。ぜんぶ○なら つぎの そうごうテストへ

学習日 ＿＿＿＿＿＿＿＿

① ストロー 8・7・9cm の 三角形

答え ×

よくある×：○
（近い 長さを 同じと みる）

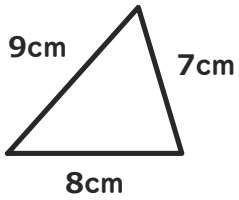

② ストロー 14・15・14cm の 三角形

答え ×

よくある×：○
（2本が 同じなので、3本とも 同じと みる）

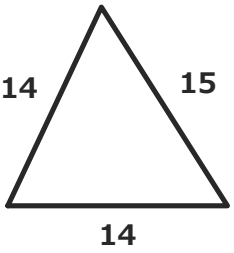

③ ストロー 4・7・7cm の 三角形

答え ○

よくある×：×
（文の 長さを 見くらべずに、ちがうと 決める）

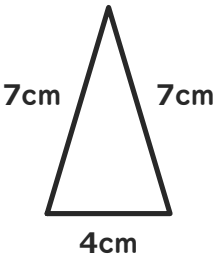

④ ストロー 19・19・19cm の 三角形

答え ○

よくある×：×
（文の 長さを 見くらべずに、ちがうと 決める）

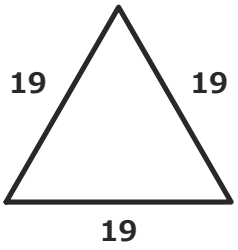

⑤ ストロー 7・7・9cm の 三角形

答え ○

よくある×：×
（文の 長さを 見くらべずに、ちがうと 決める）

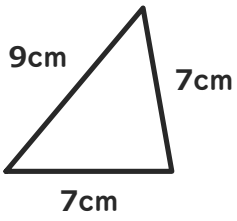

⑥ ストロー 8・8・9cm の 三角形

答え ×

よくある×：○
（2本が 同じなので、3本とも 同じと みる）

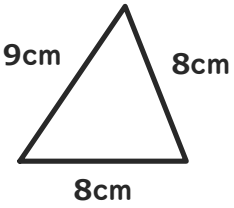

⑦ ストロー 8・7・4cm の 三角形

答え ×

よくある×：○
（近い 長さを 同じと みる）

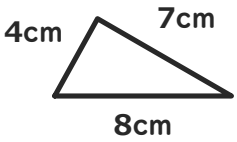

⑧ ストロー 12・12・13cm の 三角形

答え ×

よくある×：○
（2本が 同じなので、3本とも 同じと みる）

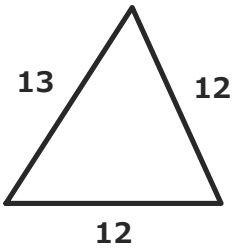

⑨ ストロー 7・7・12cm の 三角形

答え ○

よくある×：×
（文の 長さを 見くらべずに、ちがうと 決める）

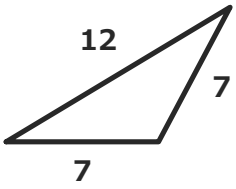

⑩ ストロー 10・10・10cm の 三角形

答え ○

よくある×：×
（文の 長さを 見くらべずに、ちがうと 決める）

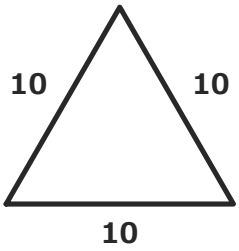

⑪ ストロー 7・6・11cm の 三角形

答え ×

よくある×：○
（近い 長さを 同じと みる）

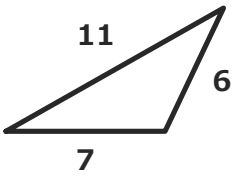

⑫ ストロー 15・15・16cm の 三角形

答え ×

よくある×：○
（2本が 同じなので、3本とも 同じと みる）

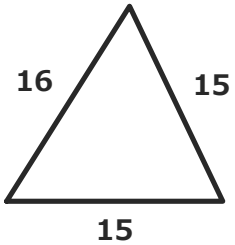

×が多い型は、練習プリント①②（ときかたつき）で ときかたを 見直す。

いちごドリル プリント