小3 二等辺三角形と正三角形 とっくんドリル①-4

なまえ ＿＿＿＿＿＿＿＿

二等辺三角形と 正三角形の 見分け（12問）

学習日 ＿＿＿＿＿＿＿＿

・辺の 長さを 1本ずつ 見くらべる
・○か×の 問は ○か×、えらぶ 問は 記号を 書く。図の 数の たんいは cm

1 この 三角形は 二等辺三角形 ですか。

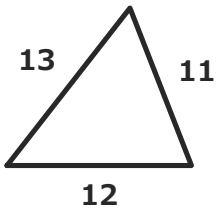

□

2 この 三角形は 正三角形ですか。

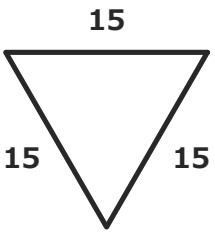

□

3 この 三角形は 二等辺三角形 ですか。

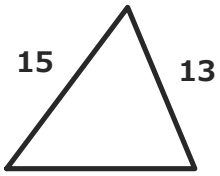

□

4 この 三角形は 正三角形ですか。

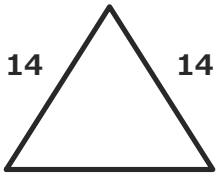

□

5 辺の 長さが 下の 三角形で、二等辺三角形は どれですか。

ア 15cm・13cm・10cm
イ 10cm・11cm・14cm
ウ 12cm・10cm・10cm

□

6 この 三角形は 正三角形ですか。

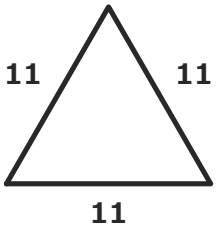

□

7 この 三角形は 二等辺三角形 ですか。

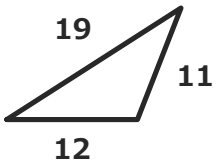

□

8 この 三角形は 正三角形ですか。

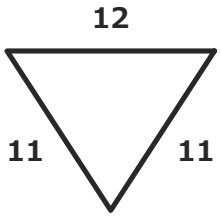

□

9 辺の 長さが 下の 三角形で、二等辺三角形は どれですか。

ア 15cm・11cm・11cm
イ 13cm・12cm・10cm
ウ 10cm・11cm・15cm

□

10 この 三角形は 正三角形ですか。

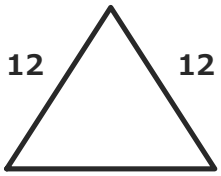

□

11 この 三角形は 二等辺三角形 ですか。

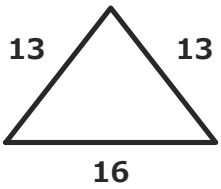

□

12 この 三角形は 正三角形ですか。

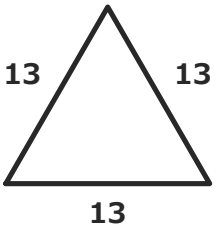

□

小3 二等辺三角形と正三角形 とっくんドリル①-4【こたえ】

なまえ ＿＿＿＿＿＿＿＿

×があったら「①-5」へ。ぜんぶ○なら つぎの そうごうテストへ

学習日 ＿＿＿＿＿＿＿＿

① 辺が 12・11・13cm の 三角形

答え ×

よくある×：○
（近い 長さ（11cmと 12cm）を 同じと みる）

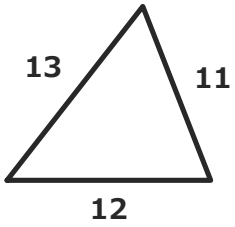

② 辺が 15・15・15cm で さかさの 三角形

答え ○

よくある×：×
（向きが ちがうと 正三角形で ないと 思う）

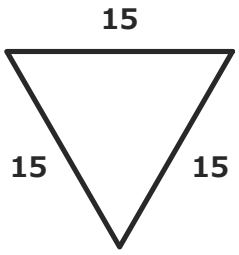

③ 辺が 14・13・15cm の 三角形

答え ×

よくある×：○
（近い 長さ（13cmと 14cm）を 同じと みる）

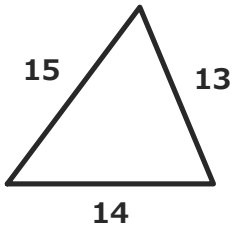

④ 辺が 15・14・14cm の 三角形

答え ×

よくある×：○
（2本が 同じなので、3本とも 同じと みる）

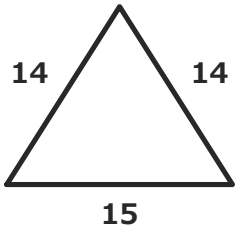

⑤ ア～ウの 三角形から 二等辺三角形

答え ウ

よくある×：イ
（近い 長さ（10cmと 11cm）を 同じと みる）

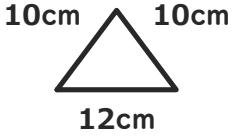

⑥ 辺が 11・11・11cm で 上向きの 三角形

答え ○

よくある×：×
（辺の 長さを 1本ずつ たしかめずに、ちがうと 決める）

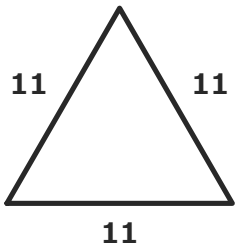

⑦ 辺が 12・11・19cm の 三角形

答え ×

よくある×：○
（近い 長さ（11cmと 12cm）を 同じと みる）

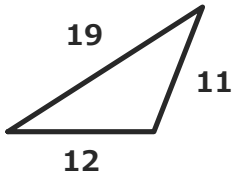

⑧ 辺が 12・11・11cm の 三角形

答え ×

よくある×：○
（2本が 同じなので、3本とも 同じと みる）

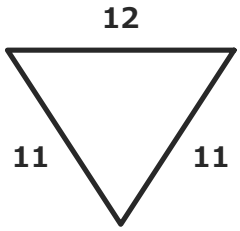

⑨ ア～ウの 三角形から 二等辺三角形

答え ア

よくある×：イかウ
（1ちがいの 長さを 同じと みる）

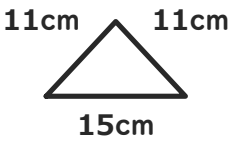

⑩ 辺が 13・12・12cm の 三角形

答え ×

よくある×：○
（2本が 同じなので、3本とも 同じと みる）

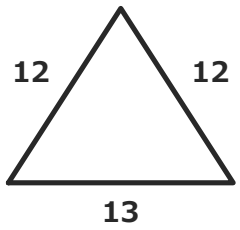

⑪ 辺が 16・13・13cm の 三角形

答え ○

よくある×：×
（数字を 見ずに、見た目で ちがうと 決める）

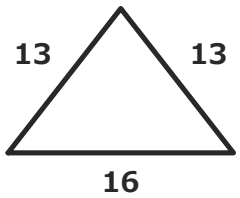

⑫ 辺が 13・13・13cm で 上向きの 三角形

答え ○

よくある×：×
（辺の 長さを 1本ずつ たしかめずに、ちがうと 決める）

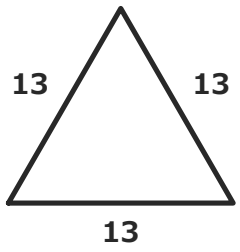

×が多い型は、練習プリント①②（ときかたつき）で ときかたを 見直す。