小3 二等辺三角形と正三角形 とっくんドリル①-4

なまえ ＿＿＿＿＿＿＿＿

二等辺三角形と 正三角形の 見分け（12問）

学習日 ＿＿＿＿＿＿＿＿

・辺の 長さを 1本ずつ 見くらべる
・○か×の 問は ○か×、えらぶ 問は 記号を 書く。図の 数の たんいは cm

1 この 三角形は 二等辺三角形 ですか。

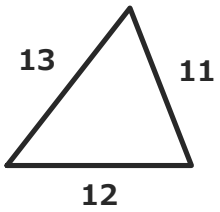

□

2 この 三角形は 正三角形ですか。

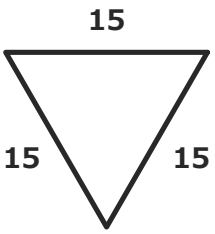

□

3 この 三角形は 二等辺三角形 ですか。

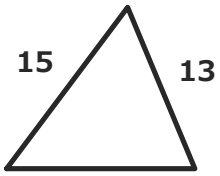

□

4 この 三角形は 正三角形ですか。

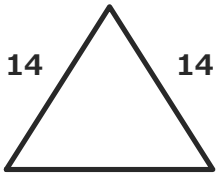

□

5 辺の 長さが 下の 三角形で、二等辺三角形は どれですか。

ア 15cm・13cm・10cm
イ 10cm・11cm・14cm
ウ 12cm・10cm・10cm

□

6 この 三角形は 正三角形ですか。

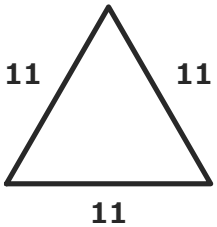

□

7 この 三角形は 二等辺三角形 ですか。

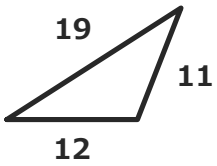

□

8 この 三角形は 正三角形ですか。

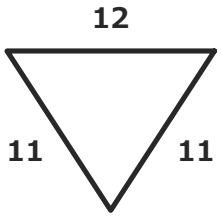

□

9 辺の 長さが 下の 三角形で、二等辺三角形は どれですか。

ア 15cm・11cm・11cm
イ 13cm・12cm・10cm
ウ 10cm・11cm・15cm

□

10 この 三角形は 正三角形ですか。

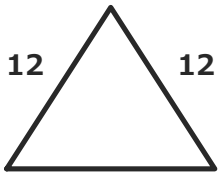

□

11 この 三角形は 二等辺三角形 ですか。

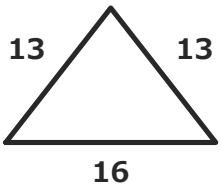

□

12 この 三角形は 正三角形ですか。

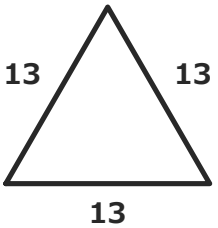

□