小3 二等辺三角形と正三角形 とっくんドリル①-3

なまえ ＿＿＿＿＿＿＿＿

二等辺三角形と 正三角形の 見分け（12問）

学習日 ＿＿＿＿＿＿＿＿

・辺の 長さを 1本ずつ 見くらべる
・○か×の 問は ○か×、えらぶ 問は 記号を 書く。図の 数の たんいは cm

1 この 三角形は 二等辺三角形 ですか。

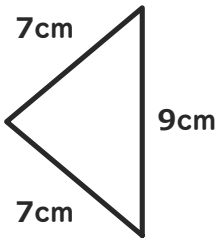

2 この 三角形は 正三角形ですか。

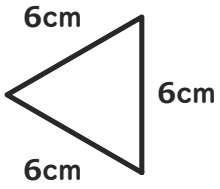

3 この 三角形は 二等辺三角形 ですか。

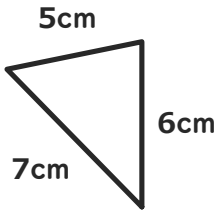

4 この 三角形は 正三角形ですか。

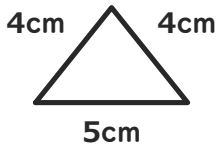

5 この 三角形は 二等辺三角形 ですか。

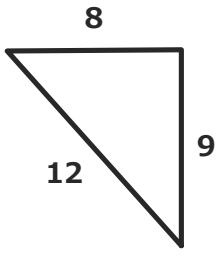

6 この 三角形は 正三角形ですか。

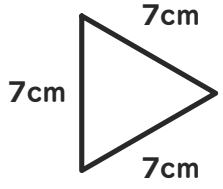

7 この 三角形は 二等辺三角形 ですか。

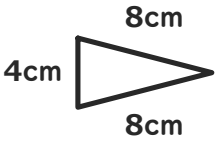

8 この 三角形は 正三角形ですか。

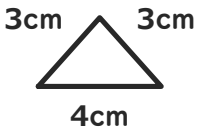

9 この 三角形は 二等辺三角形 ですか。

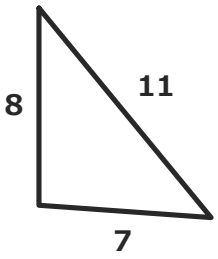

10 この 三角形は 正三角形ですか。

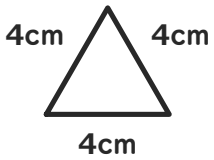

11 この 三角形は 二等辺三角形 ですか。

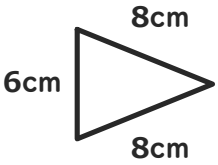

12 この 三角形は 正三角形ですか。

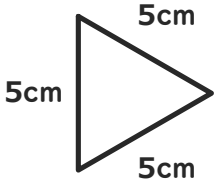

いちごドリル プリント

解きおわったら よんでね
答えと次の1枚がひらきます

小3 二等辺三角形と正三角形 とっくんドリル①-3【こたえ】

なまえ ＿＿＿＿＿＿＿＿

×があったら「①-4」へ。ぜんぶ○なら つぎの そうごうテストへ

学習日 ＿＿＿＿＿＿＿＿

1 辺が 9・7・7cm の 三角形

答え ○

よくある×：×
（数字を 見ずに、見た目で ちがうと 決める）

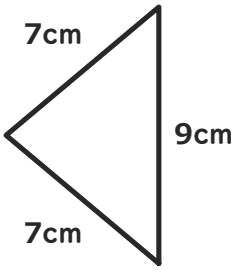

2 辺が 6・6・6cm で 横向きの 三角形

答え ○

よくある×：×
（向きが ちがうと 正三角形で ないと 思う）

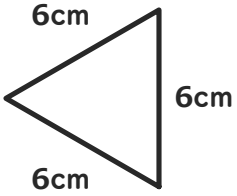

3 辺が 6・5・7cm の 三角形

答え ×

よくある×：○
（近い 長さ（5cmと 6cm）を 同じと みる）

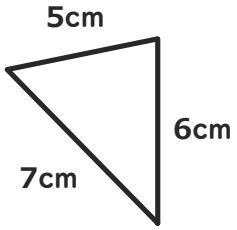

4 辺が 5・4・4cm の 三角形

答え ×

よくある×：○
（2本が 同じなので、3本とも 同じと みる）

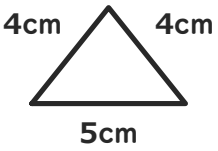

5 辺が 9・8・12cm の 三角形

答え ×

よくある×：○
（近い 長さ（8cmと 9cm）を 同じと みる）

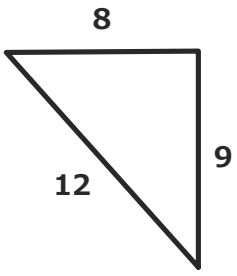

6 辺が 7・7・7cm で 横向きの 三角形

答え ○

よくある×：×
（向きが ちがうと 正三角形で ないと 思う）

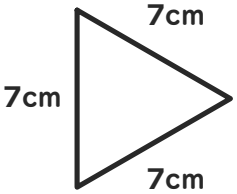

7 辺が 4・8・8cm の 三角形

答え ○

よくある×：×
（数字を 見ずに、見た目で ちがうと 決める）

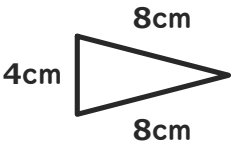

8 辺が 4・3・3cm の 三角形

答え ×

よくある×：○
（2本が 同じなので、3本とも 同じと みる）

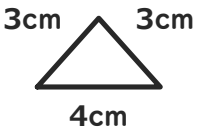

9 辺が 8・7・11cm の 三角形

答え ×

よくある×：○
（近い 長さ（7cmと 8cm）を 同じと みる）

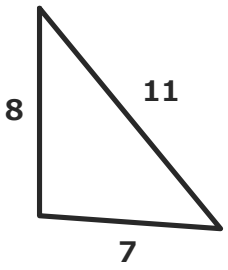

10 辺が 4・4・4cm で 上向きの 三角形

答え ○

よくある×：×
（辺の 長さを 1本ずつ たしかめずに、ちがうと 決める）

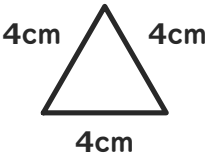

11 辺が 6・8・8cm の 三角形

答え ○

よくある×：×
（数字を 見ずに、見た目で ちがうと 決める）

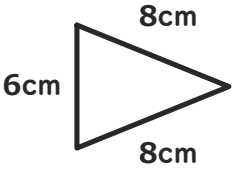

12 辺が 5・5・5cm で 横向きの 三角形

答え ○

よくある×：×
（向きが ちがうと 正三角形で ないと 思う）

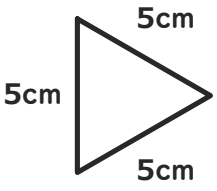

×が多い型は、練習プリント①②（ときかたつき）で ときかたを 見直す。