小3 二等辺三角形と正三角形 とっくんドリル①-3

なまえ ＿＿＿＿＿＿＿＿

二等辺三角形と 正三角形の 見分け（12問）

学習日 ＿＿＿＿＿＿＿＿

・辺の 長さを 1本ずつ 見くらべる
・○か×の 問は ○か×、えらぶ 問は 記号を 書く。図の 数の たんいは cm

1 この 三角形は 二等辺三角形 ですか。

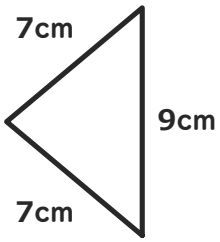

2 この 三角形は 正三角形ですか。

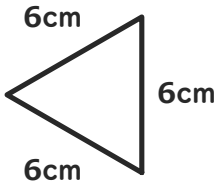

3 この 三角形は 二等辺三角形 ですか。

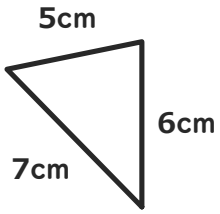

4 この 三角形は 正三角形ですか。

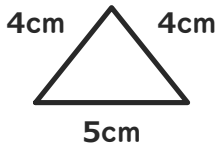

5 この 三角形は 二等辺三角形 ですか。

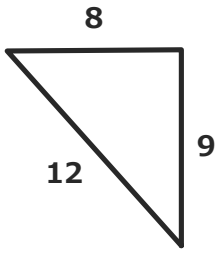

6 この 三角形は 正三角形ですか。

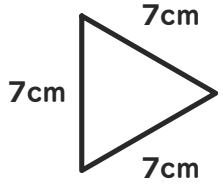

7 この 三角形は 二等辺三角形 ですか。

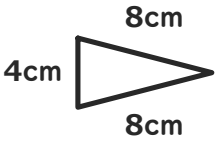

8 この 三角形は 正三角形ですか。

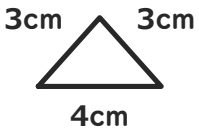

9 この 三角形は 二等辺三角形 ですか。

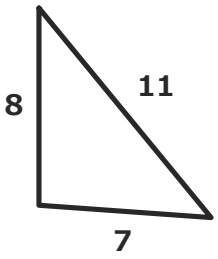

10 この 三角形は 正三角形ですか。

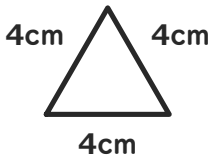

11 この 三角形は 二等辺三角形 ですか。

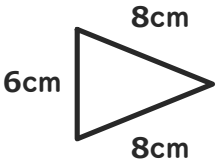

12 この 三角形は 正三角形ですか。

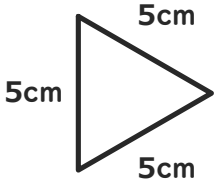

いちごドリル プリント

解きおわったら よんでね
答えと次の1枚がひらきます