小3 二等辺三角形と正三角形 とっくんドリル①-2

なまえ ＿＿＿＿＿＿＿＿

二等辺三角形と 正三角形の 見分け（12問）

学習日 ＿＿＿＿＿＿＿＿

・辺の 長さを 1本ずつ 見くらべる
・○か×の 問は ○か×、えらぶ 問は 記号を 書く。図の 数の たんいは cm

1 辺の 長さが 下の 三角形で、二等辺三角形は どれですか。

ア 6cm・5cm・8cm
イ 7cm・8cm・6cm
ウ 9cm・7cm・7cm

□

2 アと イの うち、正三角形は どちらですか。

ア 

イ 

□

3 辺の 長さが 下の 三角形で、二等辺三角形は どれですか。

ア 8cm・9cm・4cm
イ 5cm・6cm・4cm
ウ 3cm・4cm・4cm

□

4 アと イの うち、正三角形は どちらですか。

ア 

イ 

□

5 辺の 長さが 下の 三角形で、二等辺三角形は どれですか。

ア 7cm・8cm・3cm
イ 5cm・7cm・3cm
ウ 5cm・8cm・8cm

□

6 アと イの うち、正三角形は どちらですか。

ア 

イ 

□

7 辺の 長さが 下の 三角形で、二等辺三角形は どれですか。

ア 3cm・8cm・8cm
イ 6cm・5cm・7cm
ウ 3cm・4cm・6cm

□

8 アと イの うち、正三角形は どちらですか。

ア 

イ 

□

9 辺の 長さが 下の 三角形で、二等辺三角形は どれですか。

ア 6cm・3cm・4cm
イ 7cm・4cm・4cm
ウ 5cm・6cm・3cm

□

10 アと イの うち、正三角形は どちらですか。

ア 

イ 

□

11 辺の 長さが 下の 三角形で、二等辺三角形は どれですか。

ア 7cm・9cm・3cm
イ 6cm・7cm・5cm
ウ 8cm・9cm・9cm

□

12 アと イの うち、正三角形は どちらですか。

ア 

イ 

□

小3 二等辺三角形と正三角形 とっくんドリル①-2【こたえ】

なまえ ＿＿＿＿＿＿＿＿

×があったら「①-3」へ。ぜんぶ〇なら つぎの そうごうテストへ

学習日 ＿＿＿＿＿＿＿＿

1 ア～ウの 三角形から 二等辺三角形

答え ウ

よくある×：アかイ
（1ちがいの 長さを 同じと みる）

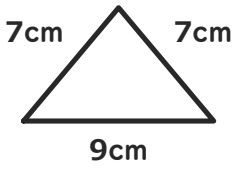

2 アと イの うち 正三角形

答え イ

よくある×：ア
（小さい 方だけを 正三角形と みる）

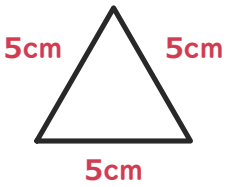

3 ア～ウの 三角形から 二等辺三角形

答え ウ

よくある×：アかイ
（1ちがいの 長さを 同じと みる）

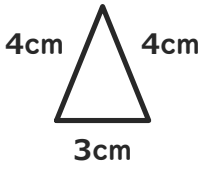

4 アと イの うち 正三角形

答え ア

よくある×：イ
（小さい 方だけを 正三角形と みる）

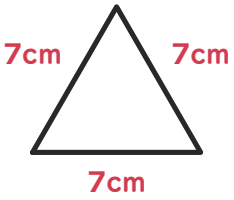

5 ア～ウの 三角形から 二等辺三角形

答え ウ

よくある×：ア
（近い 長さ（7cmと 8cm）を 同じと みる）

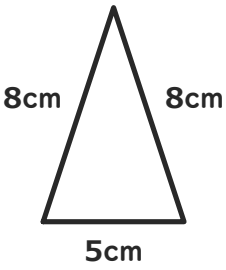

6 アと イの うち 正三角形

答え イ

よくある×：ア
（小さい 方だけを 正三角形と みる）

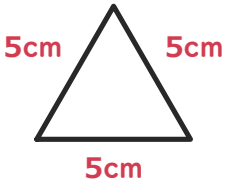

7 ア～ウの 三角形から 二等辺三角形

答え ア

よくある×：イかウ
（1ちがいの 長さを 同じと みる）

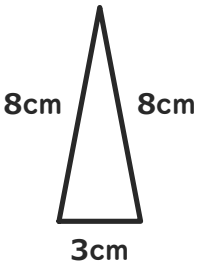

8 アと イの うち 正三角形

答え ア

よくある×：イ
（大きい 方だけを 正三角形と みる）

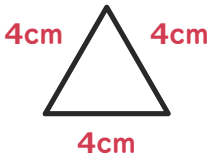

9 ア～ウの 三角形から 二等辺三角形

答え イ

よくある×：アかウ
（1ちがいの 長さを 同じと みる）

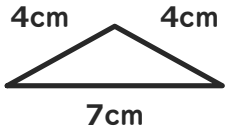

10 アと イの うち 正三角形

答え イ

よくある×：ア
（小さい 方だけを 正三角形と みる）

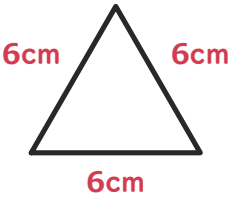

11 ア～ウの 三角形から 二等辺三角形

答え ウ

よくある×：イ
（近い 長さ（5cmと 6cm）を 同じと みる）

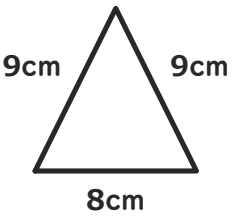

12 アと イの うち 正三角形

答え ア

よくある×：イ
（大きい 方だけを 正三角形と みる）



×が多い型は、練習プリント①②（ときかたつき）で ときかたを 見直す。

いちごドリル プリント