小3 二等辺三角形と正三角形 とっくんドリル①-1

なまえ ＿＿＿＿＿＿＿＿

二等辺三角形と 正三角形の 見分け（12問）

学習日 ＿＿＿＿＿＿＿＿

・辺の 長さを 1本ずつ 見くらべる
・○か×の 問は ○か×、えらぶ 問は 記号を 書く。図の 数の たんいは cm

1 この 三角形は 二等辺三角形 ですか。

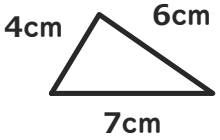

□

2 この 三角形は 正三角形ですか。

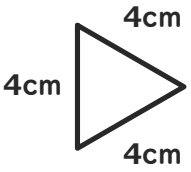

□

3 この 三角形は 二等辺三角形 ですか。

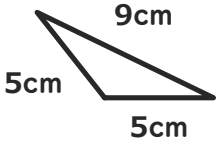

□

4 この 三角形は 正三角形ですか。

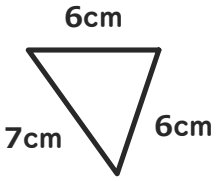

□

5 この 三角形は 二等辺三角形 ですか。

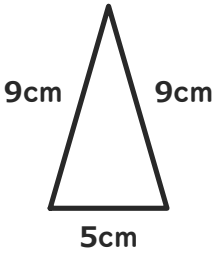

□

6 この 三角形は 正三角形ですか。

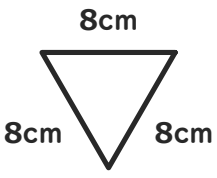

□

7 この 三角形は 二等辺三角形 ですか。

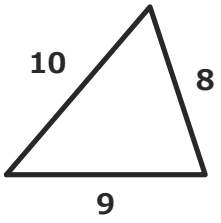

□

8 この 三角形は 正三角形ですか。

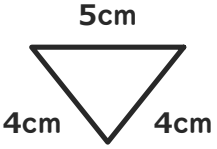

□

9 この 三角形は 二等辺三角形 ですか。

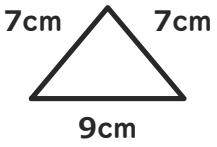

□

10 この 三角形は 正三角形ですか。

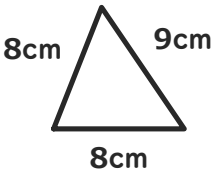

□

11 この 三角形は 二等辺三角形 ですか。



□

12 この 三角形は 正三角形ですか。

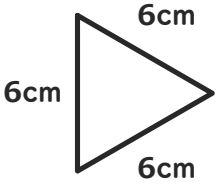

□

小3 二等辺三角形と正三角形 とっくんドリル①-1【こたえ】

なまえ ＿＿＿＿＿＿＿＿

×があったら「①-2」へ。ぜんぶ○なら つぎの そうごうテストへ

学習日 ＿＿＿＿＿＿＿＿

① 辺が 7・6・4cm の 三角形

答え ×

よくある×：○
（近い 長さ（6cmと 7cm）を 同じと みる）

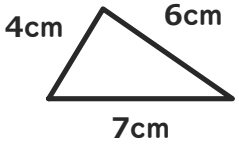

② 辺が 4・4・4cm で 横向きの 三角形

答え ○

よくある×：×
（向きが ちがうと 正三角形で ないと 思う）

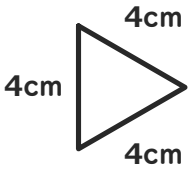

③ 辺が 5・9・5cm の 三角形

答え ○

よくある×：×
（数字を 見ずに、見た目で ちがうと 決める）

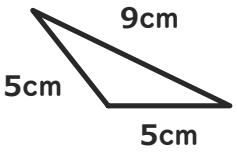

④ 辺が 6・7・6cm の 三角形

答え ×

よくある×：○
（2本が 同じなので、3本とも 同じと みる）

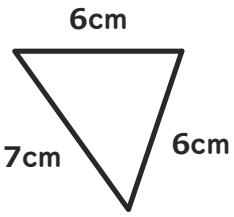

⑤ 辺が 5・9・9cm の 三角形

答え ○

よくある×：×
（数字を 見ずに、見た目で ちがうと 決める）

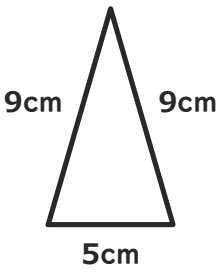

⑥ 辺が 8・8・8cm で さかさの 三角形

答え ○

よくある×：×
（向きが ちがうと 正三角形で ないと 思う）

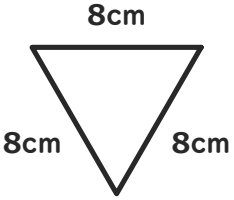

⑦ 辺が 9・8・10cm の 三角形

答え ×

よくある×：○
（近い 長さ（8cmと 9cm）を 同じと みる）

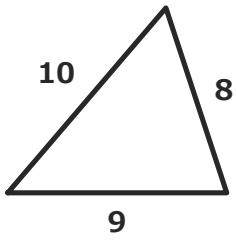

⑧ 辺が 5・4・4cm の 三角形

答え ×

よくある×：○
（2本が 同じなので、3本とも 同じと みる）

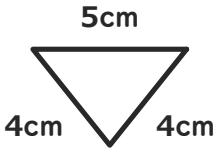

⑨ 辺が 9・7・7cm の 三角形

答え ○

よくある×：×
（数字を 見ずに、見た目で ちがうと 決める）

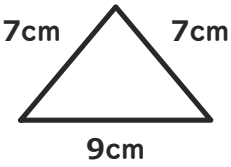

⑩ 辺が 8・9・8cm の 三角形

答え ×

よくある×：○
（2本が 同じなので、3本とも 同じと みる）

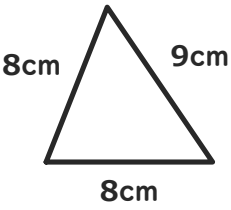

⑪ 辺が 5・4・8cm の 三角形

答え ×

よくある×：○
（近い 長さ（4cmと 5cm）を 同じと みる）

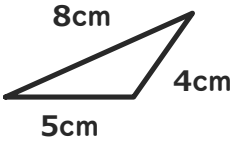

⑫ 辺が 6・6・6cm で 横向きの 三角形

答え ○

よくある×：×
（向きが ちがうと 正三角形で ないと 思う）

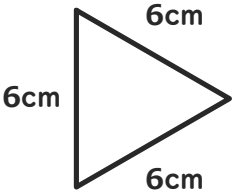

×が多い型は、練習プリント①②（ときかたつき）で ときかたを 見直す。