小3 二等辺三角形と正三角形 とっくんドリル①-1

なまえ ＿＿＿＿＿＿＿＿

二等辺三角形と 正三角形の 見分け（12問）

学習日 ＿＿＿＿＿＿＿＿

・辺の 長さを 1本ずつ 見くらべる
・○か×の 問は ○か×、えらぶ 問は 記号を 書く。図の 数の たんいは cm

1 この 三角形は 二等辺三角形 ですか。

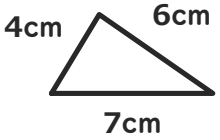

□

2 この 三角形は 正三角形ですか。

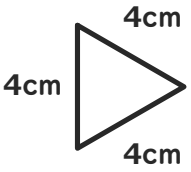

□

3 この 三角形は 二等辺三角形 ですか。

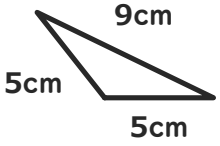

□

4 この 三角形は 正三角形ですか。

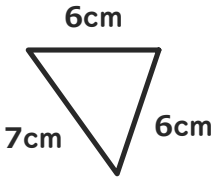

□

5 この 三角形は 二等辺三角形 ですか。

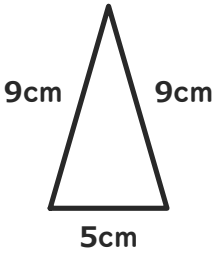

□

6 この 三角形は 正三角形ですか。

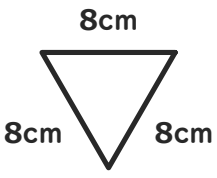

□

7 この 三角形は 二等辺三角形 ですか。

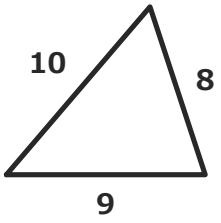

□

8 この 三角形は 正三角形ですか。

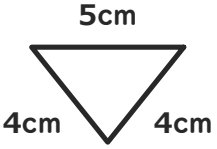

□

9 この 三角形は 二等辺三角形 ですか。

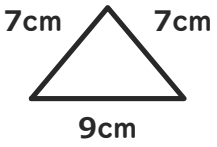

□

10 この 三角形は 正三角形ですか。

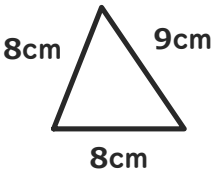

□

11 この 三角形は 二等辺三角形 ですか。



□

12 この 三角形は 正三角形ですか。

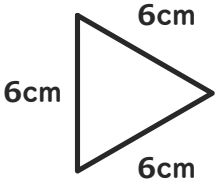

□