小3 二等辺三角形と正三角形 そうごうテスト（その1）

なまえ ＿＿＿＿＿＿＿＿

つまずきを6つ、2問ずつ（100点）

学習日 ＿＿＿＿＿＿＿＿

・答えは □ に書く。○か×の 問は ○か×、えらぶ 問は 記号を 書く
・図の しるしの ついた 辺は 同じ 長さ。図の 数の たんいは cm。文章題は たんいも 書く

1 8点
この 三角形は
二等辺三角形
ですか。

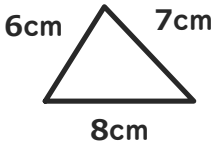

□

2 8点
二等辺三角形ABC。
角Bと 等しい 角は
どれですか。

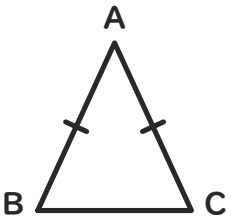

角 □

3 8点
コンパスを 6cmに
開いて かいた 図。
まわりは 何cmですか。

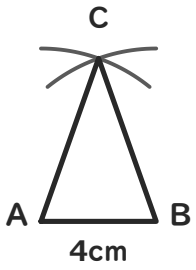

□ cm

4 8点
この 二等辺三角形の
まわりは
何cmですか。

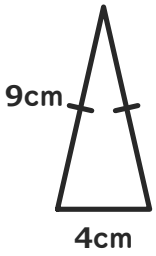

□ cm

5 8点
この 三角形は
正三角形ですか。

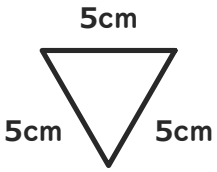

□

6 8点
正方形を 点線で
切った 三角形は
二等辺三角形ですか。

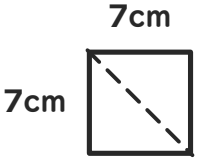

□

7 8点
長方形を 点線で
切った 三角形は
二等辺三角形ですか。

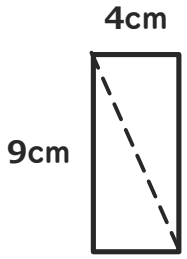

□

8 8点
辺の 長さが 下の 三角形で、
二等辺三角形は どれですか。

ア 7cm・8cm・6cm
イ 5cm・9cm・5cm
ウ 4cm・6cm・8cm

□

9 9点
三角形ABCは、辺ACと 辺BCが
同じ 長さの 二等辺三角形です。
角Aと 等しい 角は どれですか。

角 □

10 9点
まわりが 26cmの 二等辺三角形。
等しい 辺は 8cmずつです。
のこりの 辺は 何cmですか。

（たんいも 書こう）

□

11 9点
コンパスを 5cmに
開いて かいた 図。
ACと BCの 合計は？

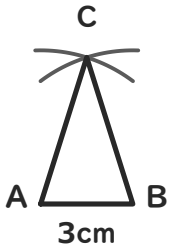

□ cm

12 9点
アと イの うち、正三角形は
どちらですか。



□