小3 二等辺三角形と正三角形 練習プリント⑥

なまえ ＿＿＿＿＿＿＿＿

まわりの 長さ 全6問

学習日 月 日

ねらい まわりの 長さは、等しい 辺が 何本か 数えて もとめよう。

ときかた **二等辺三角形の まわりの 長さは、何cmですか。** ①②③は □の 番号

辺は ぜんぶで ① □ **本。**

5cmの 辺は ② □ **本。**

まわりは、5+5+6=③ □ **cm**

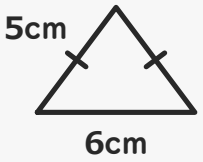

3本の 辺を 1本に した 図



まわり=ぐるっと 1しゅうの 長さ。同じ しるしの 辺は、同じ 長さ。

れんしゅう しるしの ついた 辺は 同じ 長さです。聞かれた 長さを 答えましょう。

1 二等辺三角形の まわりの 長さは、何cmですか。



□ cm

2 この 二等辺三角形の まわりの 長さは、何cmですか。

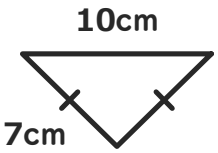

□ cm

3 正三角形の まわりの 長さは、何cmですか。



□ cm

4 まわりの 長さが 30cmの 正三角形。1つの 辺は 何cmですか。

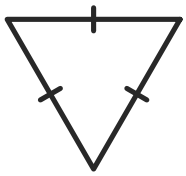

□ cm

5 まわりの 長さは 25cm。のこりの 1つの 辺は 何cmですか。

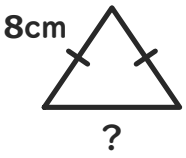

□ cm

6 40cmの ひもを ぜんぶ つかって、二等辺三角形を つくります。等しい 辺は 13cmずつ。のこりの 1本は？

□

（たんいも 書こう）

いちごドリル プリント

つづきの無料プリント
「二等辺三角形と正三角形」のプリント一覧がひらきます

小3 二等辺三角形と正三角形 練習プリント⑥【こたえ】

なまえ ＿＿＿＿＿＿＿＿

まわりの 長さ 全6問

学習日 月 日

ねらい まわりの 長さは、等しい 辺が 何本か 数えて もとめよう。

ときかた **二等辺三角形の まわりの 長さは、何cmですか。** ①②③は □の 番号

辺は ぜんぶで ① 3 本。

5cmの 辺は ② 2 本。

まわりは、5+5+6=③ 16 cm

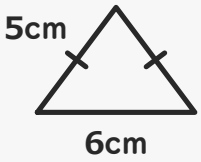

3本の 辺を 1本に した 図



まわり=ぐるっと 1しゅうの 長さ。同じ しるしの 辺は、同じ 長さ。

れんしゅう

しるしの ついた 辺は 同じ 長さです。聞かれた 長さを 答えましょう。

1 二等辺三角形の まわりの 長さは、何cmですか。

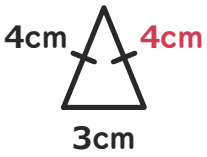

11 cm

4+4+3=11
（4cmが 2本）

2 この 二等辺三角形の まわりの 長さは、何cmですか。

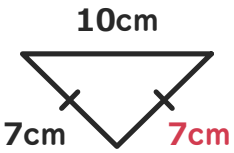

24 cm

7+7+10=24
（7cmが 2本）

3 正三角形の まわりの 長さは、何cmですか。



18 cm

6+6+6=18
（6cmが 3本）

4 まわりの 長さが 30cmの 正三角形。1つの 辺は 何cmですか。

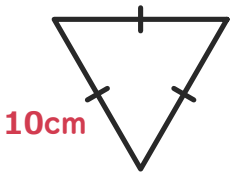

10 cm

30÷3=10
（辺は 3本）

5 まわりの 長さは 25cm。のこりの 1つの 辺は 何cmですか。

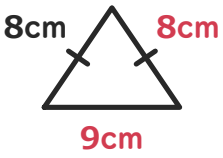

9 cm

25−8−8=9
（8cmが 2本）

6 40cmの ひもを ぜんぶ つかって、二等辺三角形を つくります。等しい 辺は 13cmずつ。のこりの 1本は？

14cm

（たんいも 書こう）
40−13−13=14