# 小3 二等辺三角形と正三角形 練習プリント③

なまえ ＿＿＿＿＿＿＿＿

二等辺三角形の 等しい 角 全6問

学習日 月 日

**ねらい** 二等辺三角形では、2つの 角の 大きさが 等しい。どの 角か さがそう。

**ときかた** **辺ABと 辺ACが 等しい。等しい 角は？**

①②は □の 番号

しるしの ついた 辺は、辺ABと 辺 ① □

おると 辺ABと 辺ACが 重なる。

重なる 角は、角Bと 角 ② □

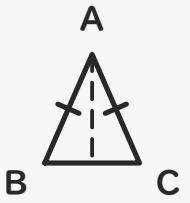


**半分に おると ぴったり 重なる**

**しるしの 辺ではさまれた 角Aは ちがう。のこりの 2つが 等しい。**

**れんしゅう** しるしや 数字で 同じ辺を 見つけ、等しい 角を A・B・Cで 書こう。

**1** 二等辺三角形ABCで、
角Bと 等しい 角は
どれですか。

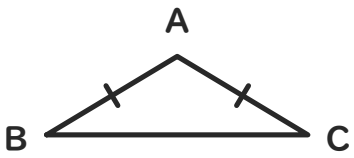


□

**2** 二等辺三角形ABCです。
角Aと 等しい 角は
どれですか。

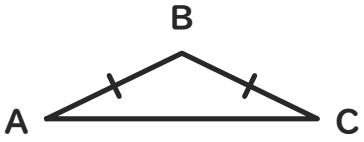


□

**3** 三角形ABCは 二等辺三角形。
角Bと 等しい 角は
どれですか。

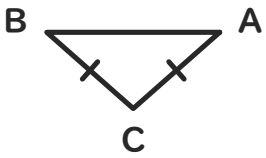


□

**4** 図は 二等辺三角形ABC。
角Cと 等しい 角は
どれですか。

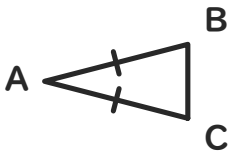


□

**5** 三角形ABCは 二等辺三角形。
辺の 長さは 図の とおり。
角Cと 等しい 角は？

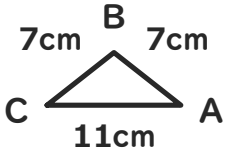


□

**6** 三角形ABCは、辺ABと 辺BCが
同じ 長さの 二等辺三角形です。
角Aと 等しい 角は どれですか。

□


いちごドリル プリント

つづきの無料プリント
「二等辺三角形と正三角形」のプリント一覧がひらきます

# 小3 二等辺三角形と正三角形 練習プリント③【こたえ】

なまえ ＿＿＿＿＿＿＿＿

二等辺三角形の 等しい 角 全6問

学習日 月 日

**ねらい** 二等辺三角形では、2つの 角の 大きさが 等しい。どの 角か さがそう。

**ときかた** **辺ABと 辺ACが 等しい。等しい 角は？**

①②は □の 番号

しるしの ついた 辺は、辺ABと 辺① AC

おると 辺ABと 辺ACが 重なる。

重なる 角は、角Bと 角② C

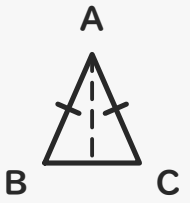


**半分に おると ぴったり 重なる**

**しるしの 辺ではさまれた 角Aは ちがう。のこりの 2つが 等しい。**

**れんしゅう** しるしや 数字で 同じ辺を 見つけ、等しい 角を A·B·Cで 書こう。

**1** 二等辺三角形ABCで、角Bと 等しい 角は どれですか。

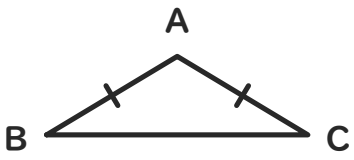


C

ABと ACが 同じ
角Bと 角C

**2** 二等辺三角形ABCです。角Aと 等しい 角は どれですか。

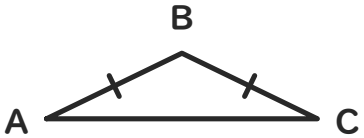


C

BAと BCが 同じ
角Aと 角C

**3** 三角形ABCは 二等辺三角形。角Bと 等しい 角は どれですか。

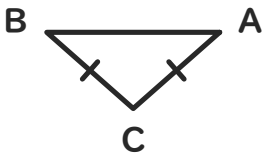


A

CAと CBが 同じ
角Aと 角B

**4** 図は 二等辺三角形ABC。角Cと 等しい 角は どれですか。

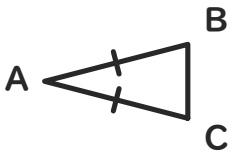


B

ABと ACが 同じ
角Bと 角C

**5** 三角形ABCは 二等辺三角形。辺の 長さは 図の とおり。角Cと 等しい 角は？

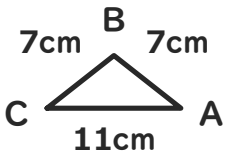


A

BAと BCが 7cm
角Cと 角A

**6** 三角形ABCは、辺ABと 辺BCが 同じ 長さの 二等辺三角形です。角Aと 等しい 角は どれですか。

C

BAと BCが 同じ
角Aと 角C

いちごドリル プリント