小3 二等辺三角形と正三角形 練習プリント③

なまえ ＿＿＿＿＿＿＿＿

二等辺三角形の 等しい 角 全6問

学習日 月 日

ねらい 二等辺三角形では、2つの 角の 大きさが 等しい。どの 角か さがそう。

ときかた **辺ABと 辺ACが 等しい。等しい 角は？**

①②は □の 番号

しるしの ついた 辺は、辺ABと 辺 ① □

おると 辺ABと 辺ACが 重なる。

重なる 角は、角Bと 角 ② □

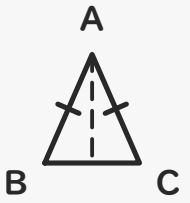

半分に おると ぴったり 重なる

しるしの 辺ではさまれた 角Aは ちがう。のこりの 2つが 等しい。

れんしゅう しるしや 数字で 同じ辺を 見つけ、等しい 角を A・B・Cで 書こう。

1 二等辺三角形ABCで、
角Bと 等しい 角は
どれですか。

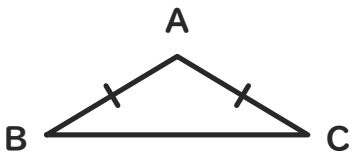

□

2 二等辺三角形ABCです。
角Aと 等しい 角は
どれですか。

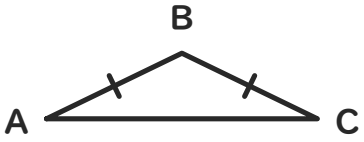

□

3 三角形ABCは 二等辺三角形。
角Bと 等しい 角は
どれですか。

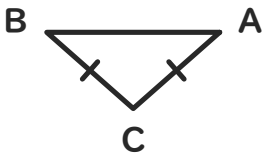

□

4 図は 二等辺三角形ABC。
角Cと 等しい 角は
どれですか。

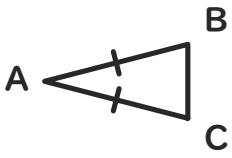

□

5 三角形ABCは 二等辺三角形。
辺の 長さは 図の とおり。
角Cと 等しい 角は？

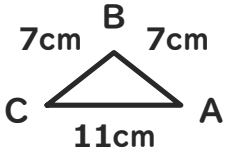

□

6 三角形ABCは、辺ABと 辺BCが
同じ 長さの 二等辺三角形です。
角Aと 等しい 角は どれですか。

□

いちごドリル プリント

つづきの無料プリント
「二等辺三角形と正三角形」のプリント一覧がひらきます