小3 二等辺三角形と正三角形 練習プリント②

なまえ ＿＿＿＿＿＿＿＿

正三角形 全6問

学習日 ＿＿月＿＿日

ねらい 大きさが ちがっても、3つの 辺が ぜんぶ 同じ 長さなら 正三角形。

ときかた **正三角形は、どれですか。**

①②③は □の 番号

左の 辺は 5cm・5cm・① [　　] cm

右の 辺は 9cm・9cm・② [　　] cm

正三角形は ③ [　　] 。

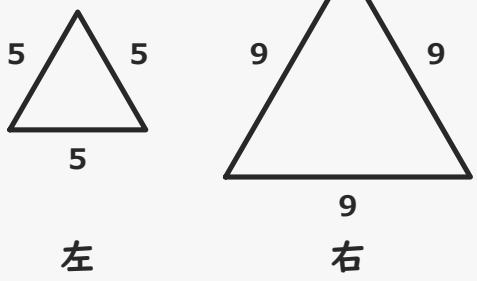

左　右

ア 左 イ 右 ウ 両方 エ なし（図の 数字の たんいは cm）

れんしゅう

図の 左と 右の うち 正三角形は？ ア左 イ右 ウ両方 エなし。

1 正三角形は どれですか。

左 

右 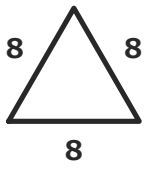

[　　]

ア左 イ右 ウ両方 エなし

---

2 図の 左と 右の うち、正三角形は どれですか。

左 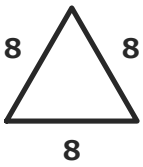

右 

[　　]

ア左 イ右 ウ両方 エなし

---

3 左と 右の 三角形の 正三角形は どれですか。

左 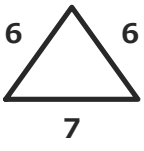

右 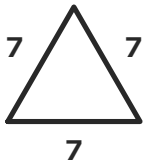

[　　]

ア左 イ右 ウ両方 エなし

---

4 辺の 長さを 見て、正三角形は どれですか。

左 

右 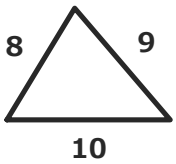

[　　]

ア左 イ右 ウ両方 エなし

---

5 むきが ちがう 三角形。正三角形は どれですか。

左 

右 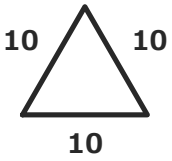

[　　]

ア左 イ右 ウ両方 エなし

---

6 見た目が にている。正三角形は どれですか。

左 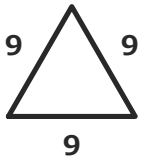

右 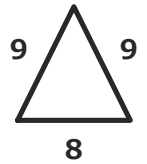

[　　]

ア左 イ右 ウ両方 エなし

いちごドリル プリント

つづきの無料プリント
「二等辺三角形と正三角形」のプリント一覧がひらきます

小3 二等辺三角形と正三角形 練習プリント②【こたえ】

なまえ ＿＿＿＿＿＿＿＿

正三角形 全6問

学習日 ＿＿月＿＿日

ねらい 大きさが ちがっても、3つの 辺が ぜんぶ 同じ 長さなら 正三角形。

ときかた **正三角形は、どれですか。**

①②③は □の 番号

左の 辺は 5cm・5cm・① [5] cm

右の 辺は 9cm・9cm・② [9] cm

正三角形は ③ [ウ]。

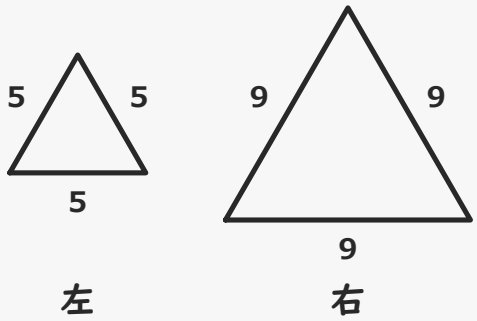

ア 左 イ 右 ウ 両方 エ なし（図の 数字の たんいは cm）

れんしゅう

図の 左と 右の うち 正三角形は？ ア左 イ右 ウ両方 エなし。

1 正三角形は どれですか。



[ウ]

ウ＝両方。どちらも 3つの 辺が 同じ

2 図の 左と 右の うち、正三角形は どれですか。

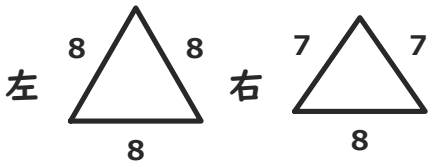

[ア]

ア＝左。左は 8・8・8 右は 7が 2本だけ

3 左と 右の 三角形の 正三角形は どれですか。

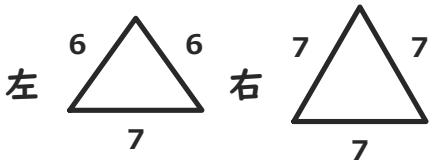

[イ]

イ＝右。右は 7・7・7 左は 6が 2本だけ

4 辺の 長さを 見て、正三角形は どれですか。

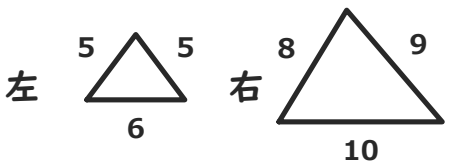

[エ]

エ＝なし。どちらも 3辺が 同じでない

5 むきが ちがう 三角形。正三角形は どれですか。

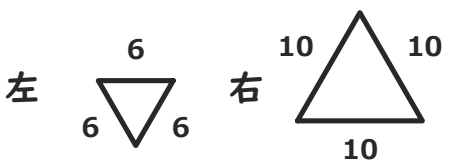

[ウ]

ウ＝両方。どちらも 3つの 辺が 同じ

6 見た目が にている。正三角形は どれですか。

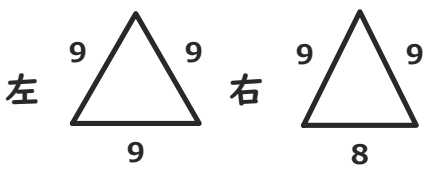

[ア]

ア＝左。左は 9が 3本 右は 9が 2本だけ