小3 二等辺三角形と正三角形 練習プリント①

なまえ ＿＿＿＿＿＿＿＿

辺の 長さで 見分ける 全6問

学習日 ＿＿月＿＿日

ねらい 辺の 長さの 数字を 見て、同じ 長さが 2本 あるか たしかめよう。

ときかた **二等辺三角形は、ア・イ・ウの どれですか。**

①②③は □の 番号

アは 同じ 長さの 辺が ① □ **本。**

イ・ウは 同じ 長さの 辺が ② □ **本。**

二等辺三角形は ③ □。

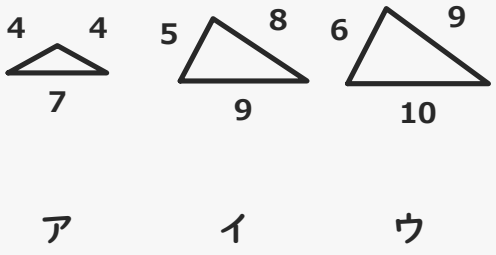

同じ 長さの 辺が 2本 ある 三角形が 二等辺三角形。数字の たんいは cm。

れんしゅう

辺の 長さの 数字を 見て 答えましょう。数字の たんいは cmです。

1 この 三角形は、
二等辺三角形ですか。
○か ×で 答えましょう。

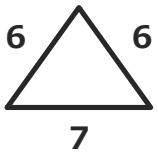

□

2 つぎの 三角形は、
二等辺三角形ですか。
○か ×で 答えましょう。



□

3 辺の 長さ(cm)は、
ア 4と5と6 イ 7と9と7 ウ 8と6と5
二等辺三角形は どれですか。

□

4 辺の 長さ(cm)は、
ア 7と8と9 イ 5と7と9 ウ 6と11と6
二等辺三角形は どれですか。

□

5 三角形の 辺の 長さは
6cm・9cm・9cm。同じ 長さの
辺は 何cmですか。

□ **cm**

6 竹ひごで 三角形を つくります。
長さは 10cm・8cm・10cm。同じ 長さの
2本の 辺を たすと 何cmですか。

□
（たんいも 書こう）

いちごドリル プリント

つづきの無料プリント
「二等辺三角形と正三角形」のプリント一覧がひらきます

小3 二等辺三角形と正三角形 練習プリント①【こたえ】

なまえ ＿＿＿＿＿＿＿＿

辺の 長さで 見分ける 全6問

学習日 月 日

ねらい 辺の 長さの 数字を 見て、同じ 長さが 2本 あるか たしかめよう。

ときかた **二等辺三角形は、ア・イ・ウの どれですか。** ①②③は □の 番号

アは 同じ 長さの 辺が ① [2] 本。

イ・ウは 同じ 長さの 辺が ② [0] 本。

二等辺三角形は ③ [ア] 。

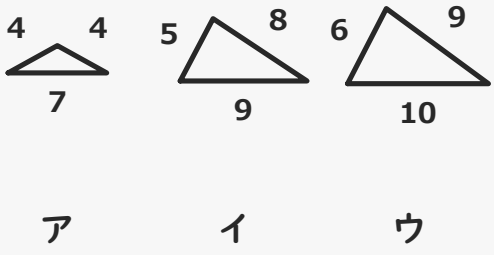

ア イ ウ

同じ 長さの 辺が 2本 ある 三角形が 二等辺三角形。数字の たんいは cm。

れんしゅう

辺の 長さの 数字を 見て 答えましょう。数字の たんいは cmです。

1 この 三角形は、
二等辺三角形ですか。
○か ×で 答えましょう。

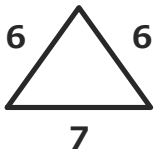

[○]
6が 2本 あるから
二等辺三角形

2 つぎの 三角形は、
二等辺三角形ですか。
○か ×で 答えましょう。

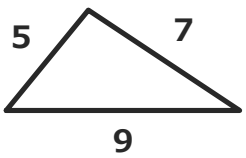

[×]
9・7・5は
ぜんぶ ちがう

3 辺の 長さ(cm)は、
ア 4と5と6 イ 7と9と7 ウ 8と6と5
二等辺三角形は どれですか。

[イ]
7が 2本 ある
→ イ

4 辺の 長さ(cm)は、
ア 7と8と9 イ 5と7と9 ウ 6と11と6
二等辺三角形は どれですか。

[ウ]
6が 2本 ある
→ ウ

5 三角形の 辺の 長さは
6cm・9cm・9cm。同じ 長さの
辺は 何cmですか。

[9] cm
9cmが 2本
→ 9cm

6 竹ひごで 三角形を つくります。
長さは 10cm・8cm・10cm。同じ 長さの
2本の 辺を たすと 何cmですか。

[20cm]
（たんいも 書こう）
10＋10＝20

いちごドリル プリント