となりの 県の ヒントで 県を 当てよう

小4／ヒントを 地図で たしかめて 県の 名前を 書こう

なまえ ＿＿＿＿＿＿＿＿＿＿

ひづけ ＿＿＿＿＿＿＿＿＿＿

地図の 線は 県と 県の さかいです。線で くっついて いる 県を「となりあう 県」と いいます。
海を はさんで いるだけの 県は、となりあって いません。地図の はしで 切れて いる 県も あります。
ヒントは ぜんぶ あてはまる 県が 答えです。ヒント1つだけでは 決まりません。

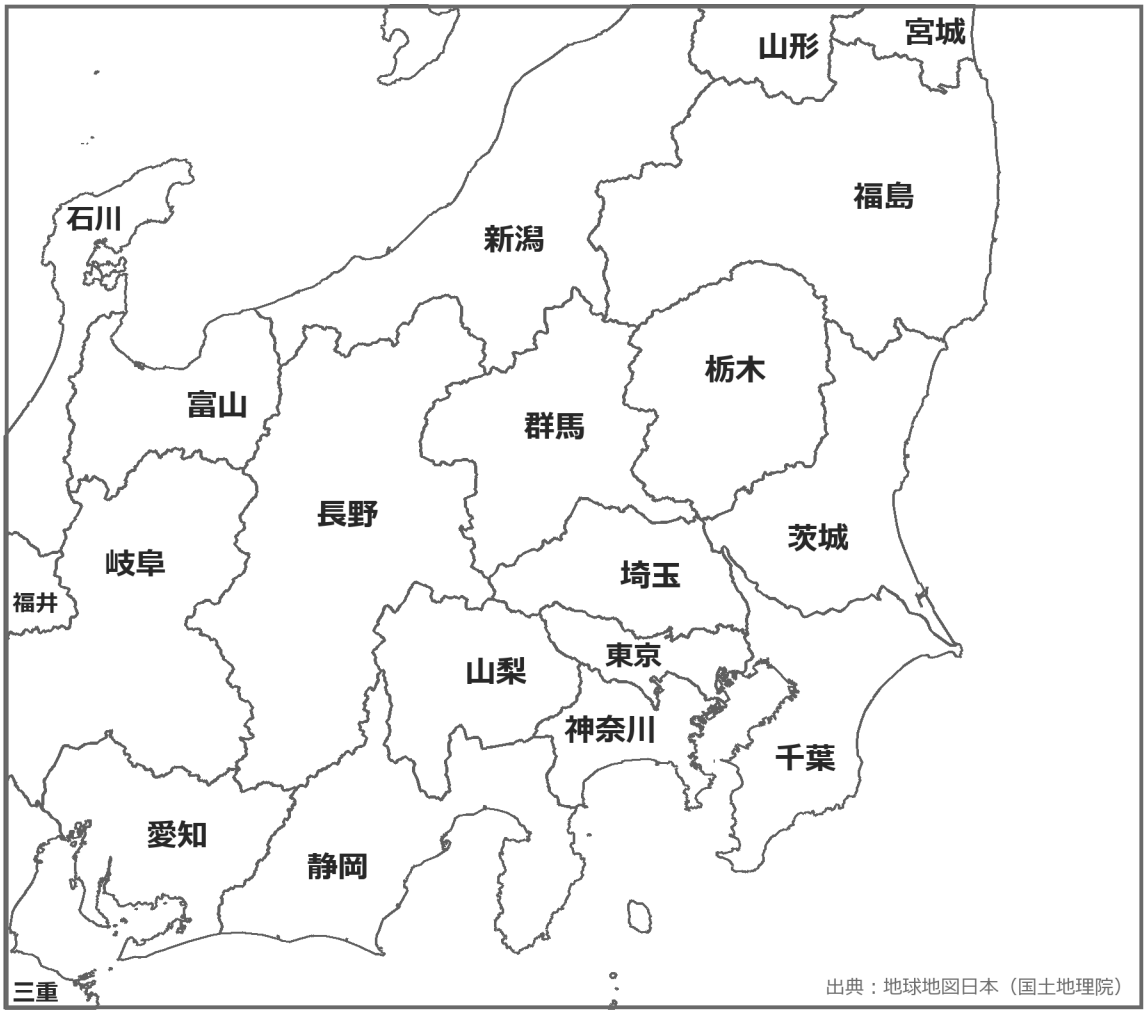

出典：地球地図日本（国土地理院）

① ・海に めんして いない。
・神奈川県と となりあう。

こたえ ＿＿＿＿ 県

② ・となりあう 県は 4つ。
・静岡県と となりあう。

こたえ ＿＿＿＿ 県

③ ・福島県と となりあう。
・茨城県と となりあう。

こたえ ＿＿＿＿ 県

④ ・海に めんして いない。
・となりあう 県は 5つ。
・東京都とは となりあって いない。

こたえ ＿＿＿＿ 県

⑤ となりあう 県が いちばん 多い 県は どこですか。いくつの 県と となりあって いますか。

こたえ ＿＿＿＿ 県 ＿＿＿＿ つ

いちごドリル プリント

つづきの無料プリント
「日本の白地図」のプリント一覧がひらきます

となりの 県の ヒントで 県を 当てよう ②

なまえ ＿＿＿＿＿＿＿＿

小4／3つの ヒントから、県が 1つに きまる ものを えらぼう／ぜんぶで 5もん　ひづけ ＿＿＿＿＿＿＿＿

ヒントを2つ 読んで、あてはまる 県を 地図で さがそう。
下の ア・イ・ウ の うち、1つを たすと 県が 1つに きまる ものを 1つ えらぼう。
きまる ものを 丸で かこみ、きまる 県の 名前を 書こう。
海を はさむだけの 県は、となりあって いません。ヒントに 出る 県は、答えでは ありません。

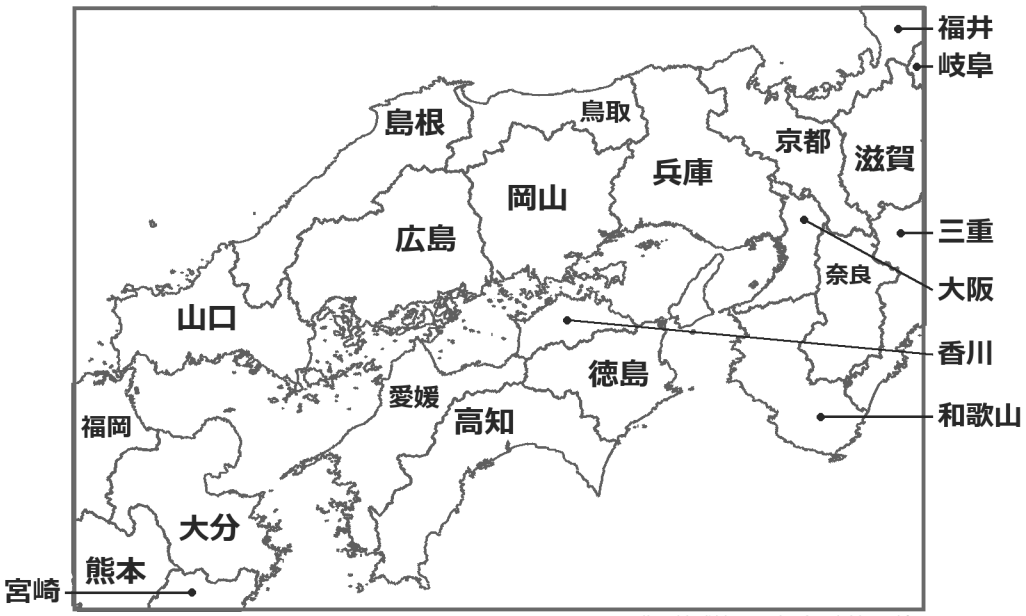

出典：地球地図日本（国土地理院）

① もとの ヒント　兵庫県と となりあう・京都府とは となりあって いない
ア 海に めんして いる
イ 島根県とは となりあって いない
ウ 高知県とは となりあって いない

きまる 県　＿＿＿＿ **県**

② もとの ヒント　島根県と となりあう・岡山県と となりあう
ア 兵庫県と となりあう
イ 海に めんして いる
ウ 徳島県とは となりあって いない

きまる 県　＿＿＿＿ **県**

③ もとの ヒント　となりあう 県は 3つ・鳥取県と となりあう
ア 広島県と となりあう
イ 高知県とは となりあって いない
ウ 山口県と となりあう

きまる 県　＿＿＿＿ **県**

④ もとの ヒント　広島県と となりあう・兵庫県とは となりあって いない
ア 海に めんして いる
イ 岡山県とは となりあって いない
ウ となりあう 県は 2つ

きまる 県　＿＿＿＿ **県**

⑤ もとの ヒント　島根県と となりあう・兵庫県とは となりあって いない
ア 海に めんして いる
イ 岡山県と となりあう
ウ 徳島県とは となりあって いない

きまる 県　＿＿＿＿ **県**

いちごドリル プリント

つづきの無料プリント
「日本の白地図」のプリント一覧がひらきます

となりの 県の ヒントで 県を 当てよう ③

小5／名前の ない 地図を、ヒントと 位置の きおくで 当てよう／ぜんぶで 5もん

なまえ ＿＿＿＿＿＿＿＿

ひづけ ＿＿＿＿＿＿＿＿

この 地図は 県の 名前が ありません。①～⑤の 形の 県を 見つけよう。
ヒントに ある 県の 名前は、地図に そのまま 書いて あります。目印に しよう。
見つけた 県の 名前を 下に 書こう。
海を はさむだけの 県は、となりあって いません。

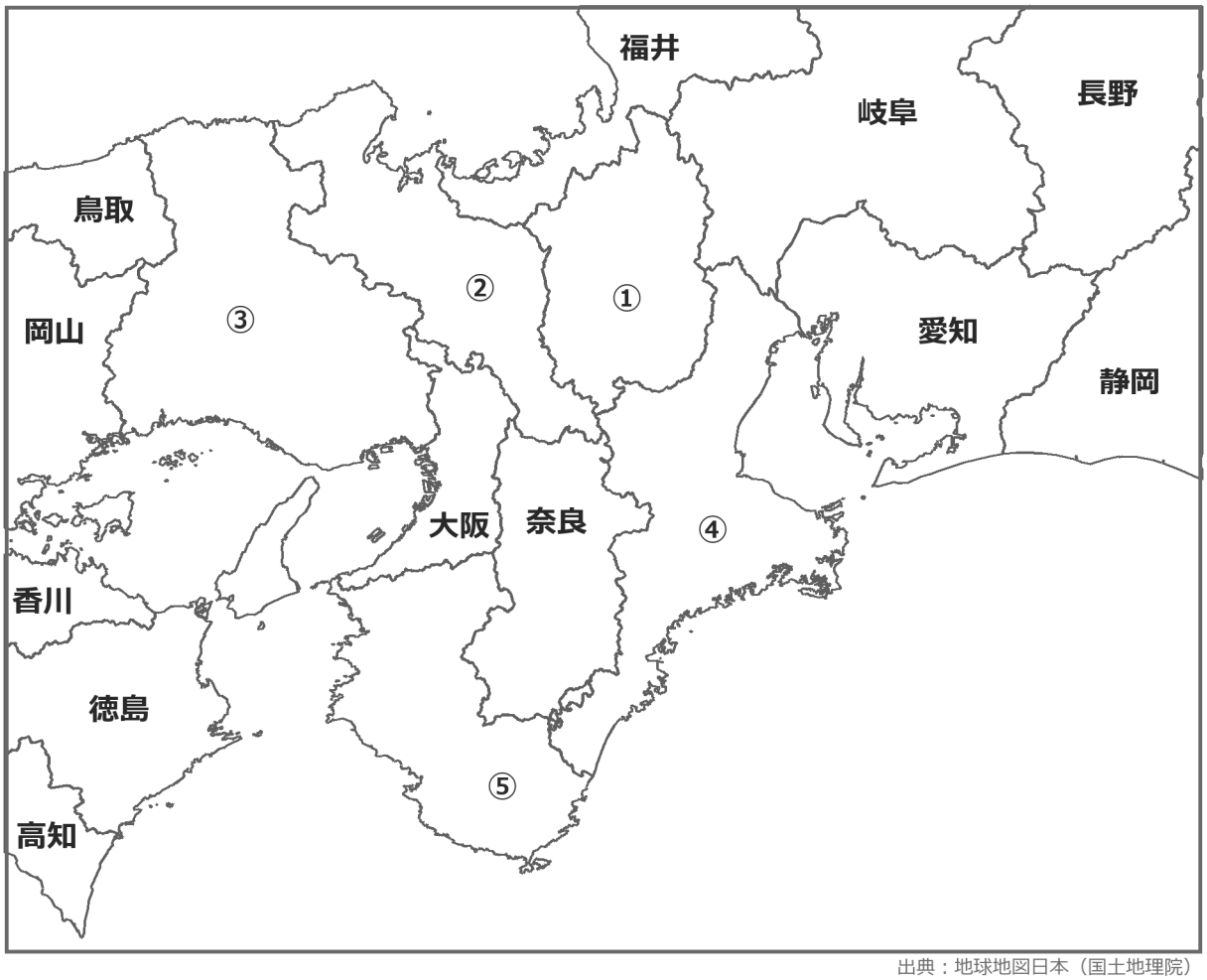

出典：地球地図日本（国土地理院）

① ・となりあう 県は 4つ。
・福井県と となりあう。

こたえ ＿＿＿＿ 県・府

② ・福井県と となりあう。
・大阪府と となりあう。

こたえ ＿＿＿＿ 県・府

③ ・岡山県と となりあう。
・大阪府と となりあう。

こたえ ＿＿＿＿ 県・府

④ ・奈良県と となりあう。
・大阪府とは となりあって いない。

こたえ ＿＿＿＿ 県・府

⑤ ・となりあう 県は 3つ。
・奈良県と となりあう。

こたえ ＿＿＿＿ 県・府

いちごドリル プリント

つづきの無料プリント
「日本の白地図」のプリント一覧がひらきます

となりの 県の ヒントで 県を 当てよう ④

小4／ヒントの まちがいを 地図で たしかめよう／ぜんぶで 8もん

なまえ ＿＿＿＿＿＿＿＿

ひづけ ＿＿＿＿＿＿＿＿

下に、県について 3つの 文が あります。1つだけ まちがって います。
地図で、となりあう 県・となりあう 県の 数・海に めんして いるかを たしかめよう。
海を はさむだけの 県は、となりあって いません。
まちがって いる 文の 番号を 書こう。

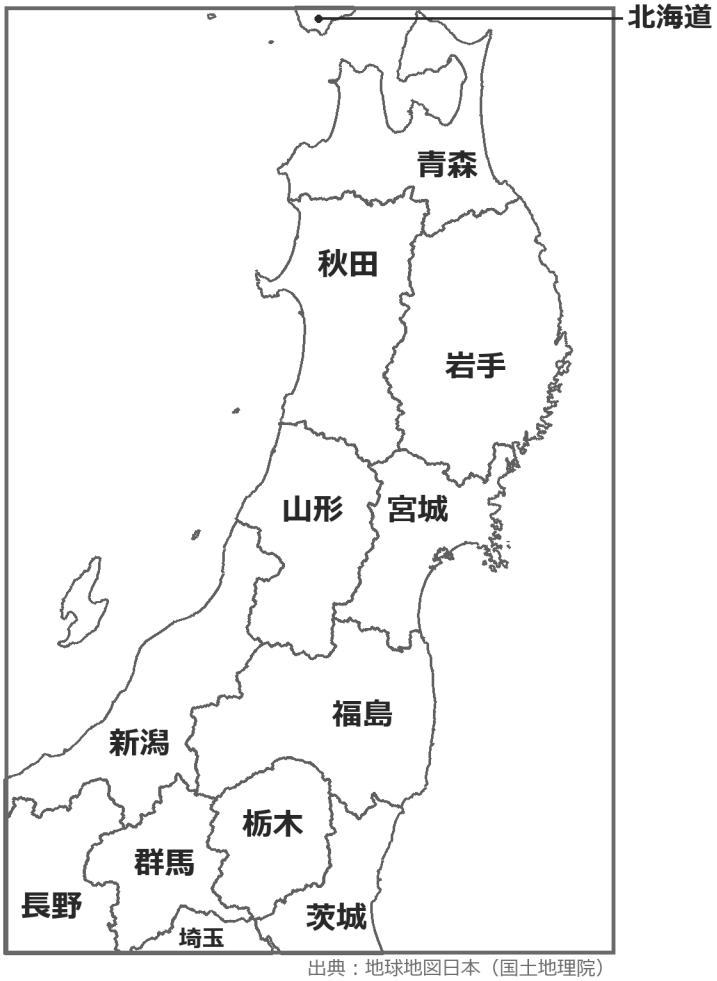

出典：地球地図日本（国土地理院）

① 青森県 まちがい 番号 ☐

1　岩手県と となりあう。
2　秋田県と となりあう。
3　となりあう 県は 3つ。

② 岩手県 まちがい 番号 ☐

1　福島県と となりあう。
2　秋田県と となりあう。
3　となりあう 県は 3つ。

③ 宮城県 まちがい 番号 ☐

1　福島県と となりあう。
2　海に めんして いない。
3　岩手県と となりあう。

④ 秋田県 まちがい 番号 ☐

1　福島県と となりあう。
2　青森県と となりあう。
3　海に めんして いる。

⑤ 山形県 まちがい 番号 ☐

1　新潟県と となりあう。
2　福島県と となりあう。
3　となりあう 県は 5つ。

⑥ 福島県 まちがい 番号 ☐

1　茨城県と となりあう。
2　秋田県と となりあう。
3　海に めんして いる。

⑦ 群馬県 まちがい 番号 ☐

1　山形県と となりあう。
2　栃木県と となりあう。
3　海に めんして いない。

⑧ 栃木県 まちがい 番号 ☐

1　群馬県と となりあう。
2　福島県と となりあう。
3　海に めんして いる。

いちごドリル プリント

つづきの無料プリント
「日本の白地図」のプリント一覧がひらきます

となりの 県の ヒントで 県を 当てよう ⑤

なまえ ＿＿＿＿＿＿＿＿＿＿

小5／県が 1つに きまる ヒントを 自分で 考えよう／ぜんぶで 5もん　ひづけ ＿＿＿＿＿＿＿＿＿＿

下の 県の 名前に なるように、ヒントを 2つ 考えて 書こう。
ヒントは「○○県と となりあう」「となりあう 県は ○つ」のような 文。ふつう 1つだけでは 決まりません。
書いたら、地図で 本当に その 県だけに なるか たしかめよう。
海を はさむだけの 県は、となりあって いません。

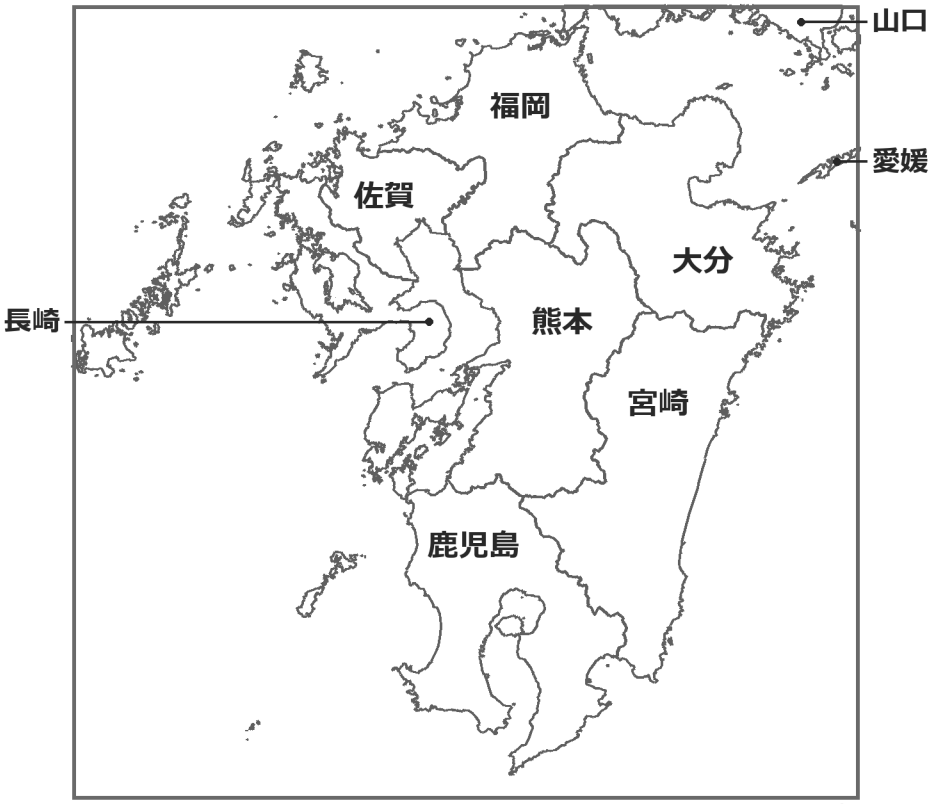

出典：地球地図日本（国土地理院）

① **熊本県**　に なる ヒントを 2つ

ヒント1

ヒント2

② **佐賀県**　に なる ヒントを 2つ

ヒント1

ヒント2

③ **大分県**　に なる ヒントを 2つ

ヒント1

ヒント2

④ **長崎県**　に なる ヒントを 2つ

ヒント1

ヒント2

⑤ **鹿児島県**　に なる ヒントを 2つ

ヒント1

ヒント2

いちごドリル プリント

つづきの無料プリント
「日本の白地図」のプリント一覧がひらきます

となりの 県の ヒントで 県を 当てよう【こたえ】

なまえ ＿＿＿＿＿＿＿＿

小4／ヒントを 地図で たしかめて 県の 名前を 書こう

ひづけ ＿＿＿＿＿＿＿＿

地図の 線は 県と 県の さかいです。線で くっついて いる 県を「となりあう 県」と いいます。
海を はさんで いるだけの 県は、となりあって いません。地図の はしで 切れて いる 県も あります。
ヒントは ぜんぶ あてはまる 県が 答えです。ヒント1つだけでは 決まりません。

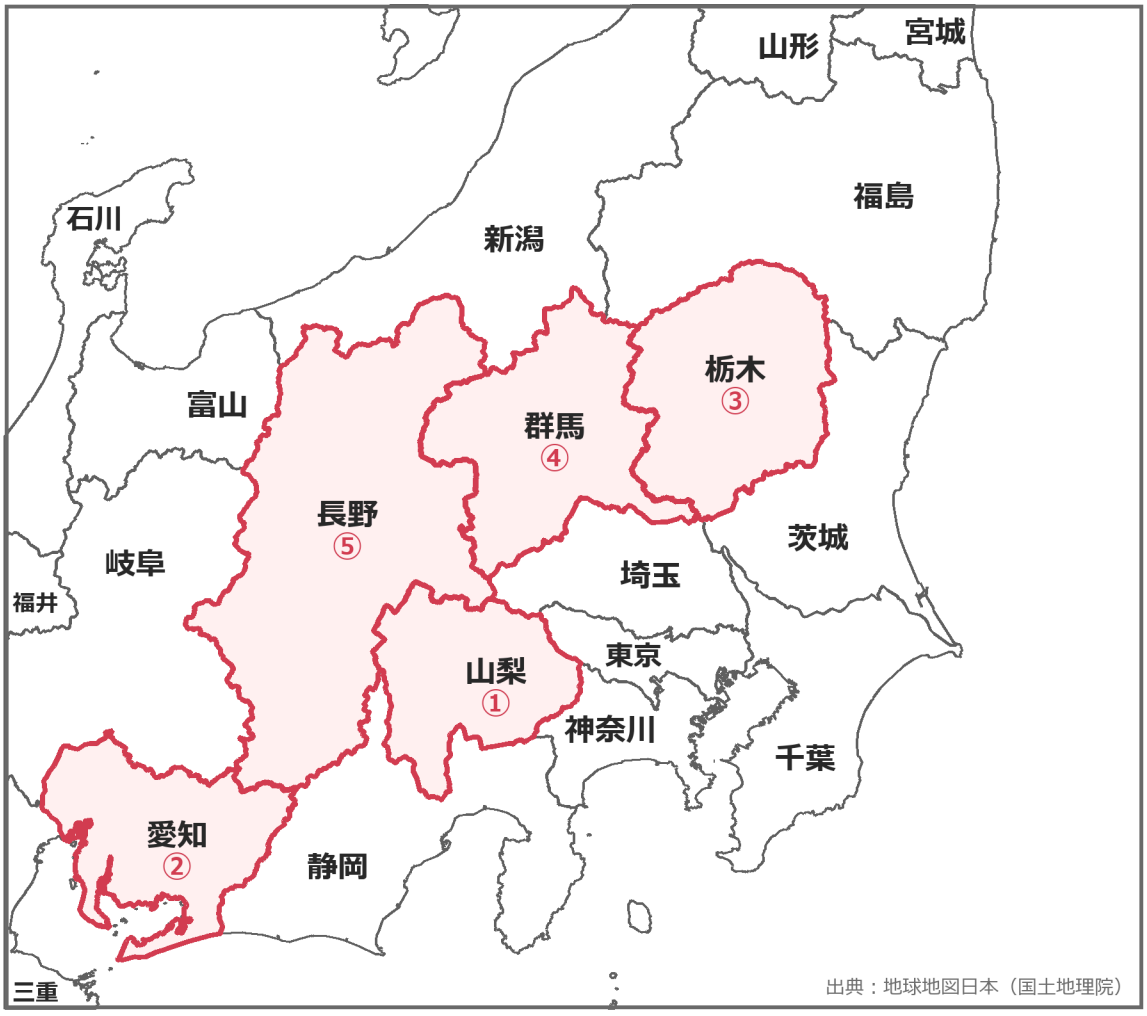

出典：地球地図日本（国土地理院）

① ・海に めんして いない。
・神奈川県と となりあう。

こたえ **山梨** 県

当てはまる県: 8つ → 1つ（山梨県）

② ・となりあう 県は 4つ。
・静岡県と となりあう。

こたえ **愛知** 県

当てはまる県: 17つ → 1つ（愛知県）

③ ・福島県と となりあう。
・茨城県と となりあう。

こたえ **栃木** 県

当てはまる県: 6つ → 1つ（栃木県）

④ ・海に めんして いない。
・となりあう 県は 5つ。
・東京都とは となりあって いない。

こたえ **群馬** 県

当てはまる県: 8つ → 2つ → 1つ（群馬県）

⑤ となりあう 県が いちばん 多い 県は どこですか。いくつの 県と となりあって いますか。

こたえ **長野** 県 **8** つ

となり: 群馬・埼玉・新潟・富山・山梨・岐阜・静岡・愛知（次は 7つ）

いちごドリル プリント

となりの 県の ヒントで 県を 当てよう ②【こたえ】

なまえ ＿＿＿＿＿＿＿＿

小4／3つの ヒントから、県が 1つに きまる ものを えらぼう／ぜんぶで 5もん　ひづけ ＿＿＿＿＿＿＿＿

ヒントを2つ 読んで、あてはまる 県を 地図で さがそう。
下の ア・イ・ウ の うち、1つを たすと 県が 1つに きまる ものを 1つ えらぼう。
きまる ものを 丸で かこみ、きまる 県の 名前を 書こう。
海を はさむだけの 県は、となりあって いません。ヒントに 出る 県は、答えでは ありません。

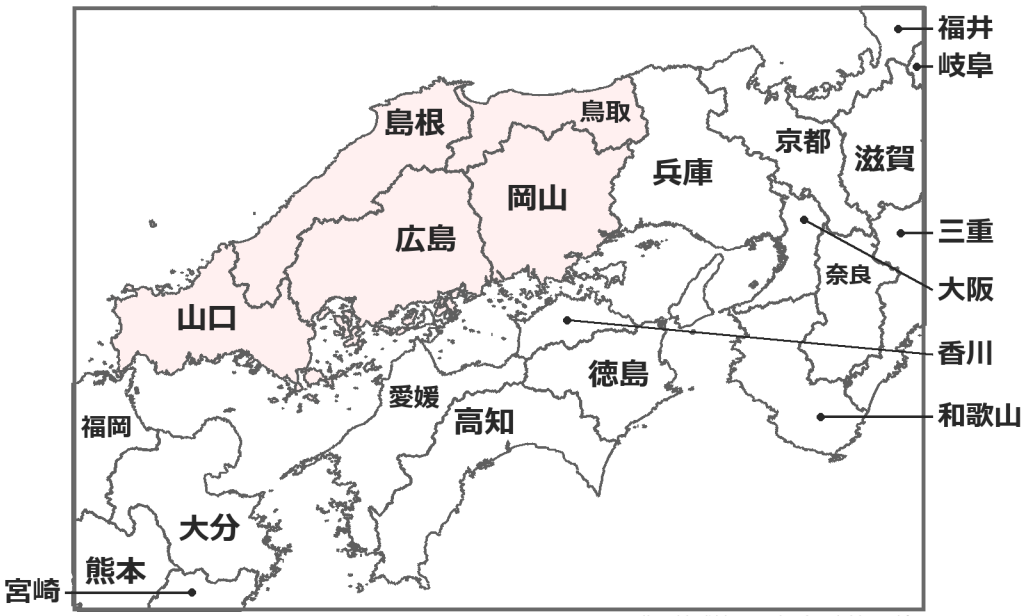

出典：地球地図日本（国土地理院）

① もとの ヒント　兵庫県と となりあう・京都府とは となりあって いない
ア 海に めんして いる
イ 島根県とは となりあって いない
ウ 高知県とは となりあって いない

きまる 県 → 岡山 県

② もとの ヒント　島根県と となりあう・岡山県と となりあう
ア 兵庫県と となりあう
イ 海に めんして いる
ウ 徳島県とは となりあって いない

きまる 県 → 鳥取 県

③ もとの ヒント　となりあう 県は 3つ・鳥取県と となりあう
ア 広島県と となりあう
イ 高知県とは となりあって いない
ウ 山口県と となりあう

きまる 県 → 島根 県

④ もとの ヒント　広島県と となりあう・兵庫県とは となりあって いない
ア 海に めんして いる
イ 岡山県とは となりあって いない
ウ となりあう 県は 2つ

きまる 県 → 山口 県

⑤ もとの ヒント　島根県と となりあう・兵庫県とは となりあって いない
ア 海に めんして いる
イ 岡山県と となりあう
ウ 徳島県とは となりあって いない

きまる 県 → 広島 県

となりの 県の ヒントで 県を 当てよう ③【こたえ】

なまえ ＿＿＿＿＿＿＿＿

小5／名前の ない 地図を、ヒントと 位置の きおくで 当てよう／ぜんぶで 5もん

ひづけ ＿＿＿＿＿＿＿＿

この 地図は 県の 名前が ありません。①～⑤の 形の 県を 見つけよう。
ヒントに ある 県の 名前は、地図に そのまま 書いて あります。目印に しよう。
見つけた 県の 名前を 下に 書こう。
海を はさむだけの 県は、となりあって いません。

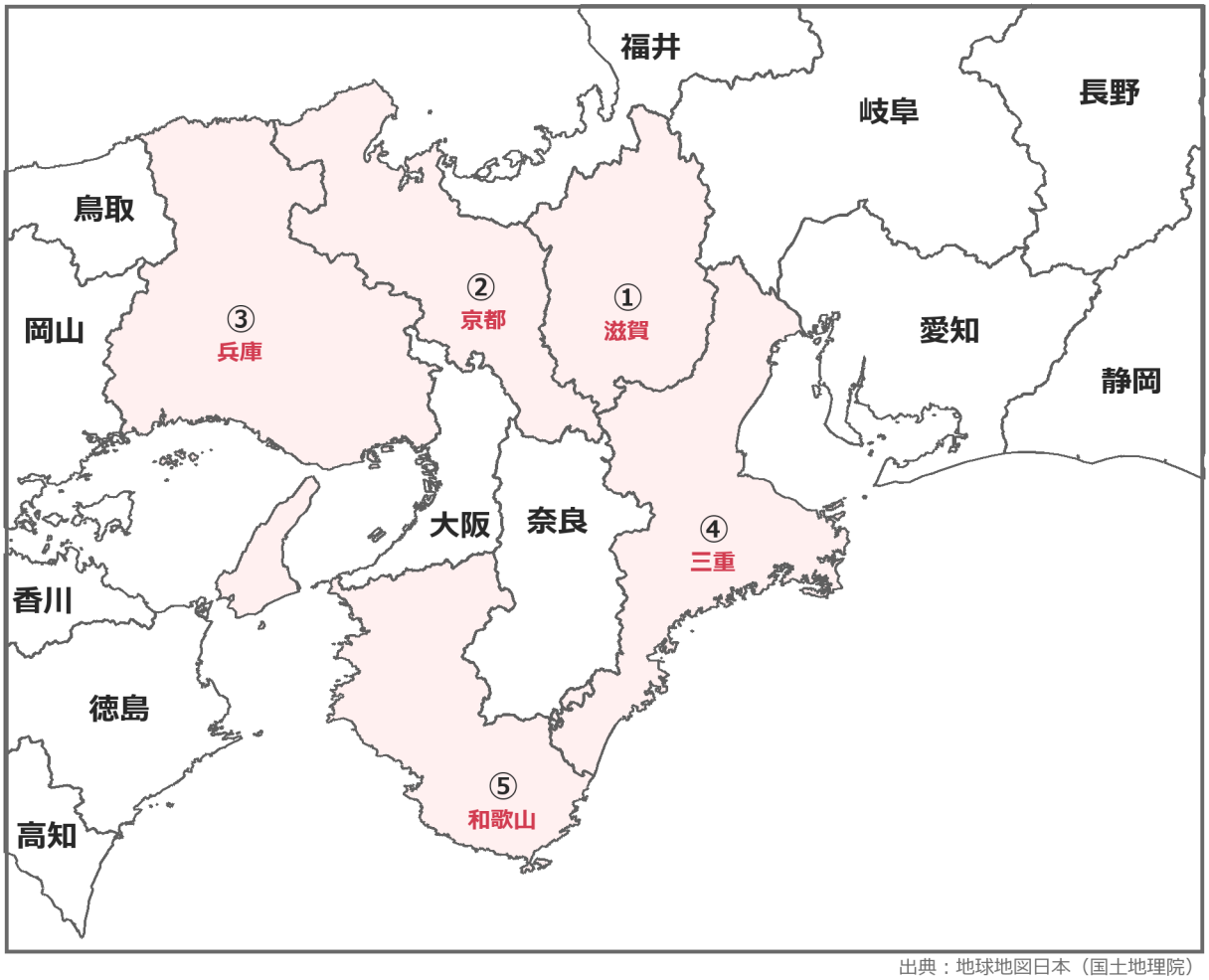

出典：地球地図日本（国土地理院）

① ・となりあう 県は 4つ。
・福井県と となりあう。

こたえ [滋賀] 県・府

② ・福井県と となりあう。
・大阪府と となりあう。

こたえ [京都] 県・府

③ ・岡山県と となりあう。
・大阪府と となりあう。

こたえ [兵庫] 県・府

④ ・奈良県と となりあう。
・大阪府とは となりあって いない。

こたえ [三重] 県・府

⑤ ・となりあう 県は 3つ。
・奈良県と となりあう。

こたえ [和歌山] 県・府

となりの 県の ヒントで 県を 当てよう ④【こたえ】

なまえ ＿＿＿＿＿＿＿＿

小4／ヒントの まちがいを 地図で たしかめよう／ぜんぶで 8もん　　ひづけ ＿＿＿＿＿＿＿＿

下に、県について 3つの 文が あります。1つだけ まちがって います。
地図で、となりあう 県・となりあう 県の 数・海に めんして いるかを たしかめよう。
海を はさむだけの 県は、となりあって いません。
まちがって いる 文の 番号を 書こう。

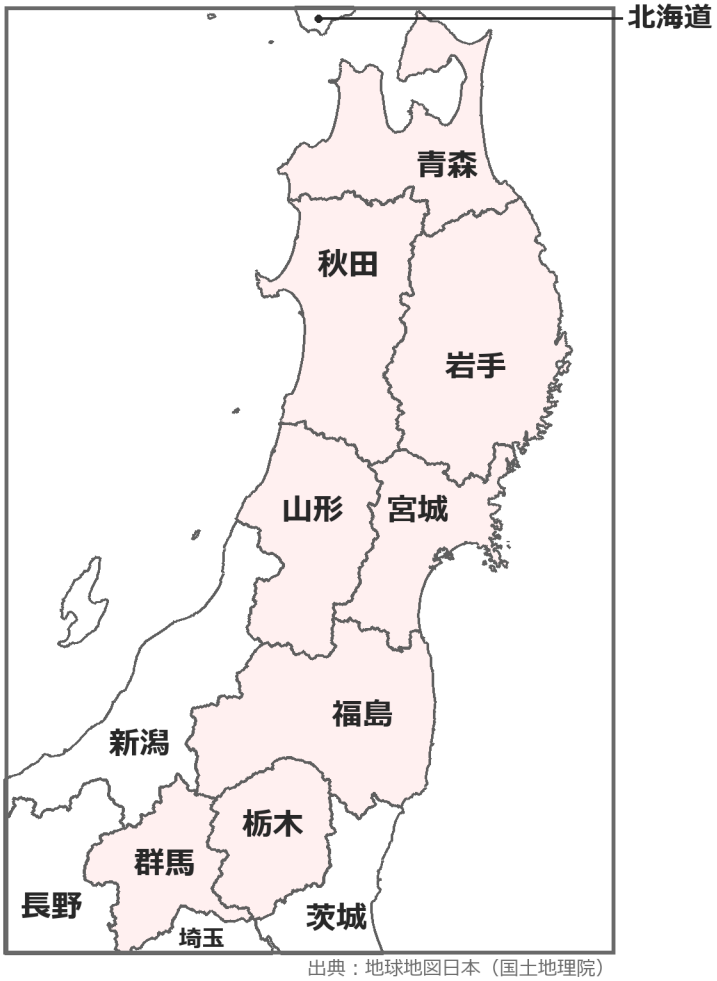

出典：地球地図日本（国土地理院）

① 青森県　まちがい 番号 **3**

1　岩手県と となりあう。
2　秋田県と となりあう。
3　となりあう 県は 3つ。
正しくは　となりあう 県は 2つ。

② 岩手県　まちがい 番号 **1**

1　福島県と となりあう。
2　秋田県と となりあう。
3　となりあう 県は 3つ。
正しくは　福島県とは となりあって いない。

③ 宮城県　まちがい 番号 **2**

1　福島県と となりあう。
2　海に めんして いない。
3　岩手県と となりあう。
正しくは　海に めんして いる。

④ 秋田県　まちがい 番号 **1**

1　福島県と となりあう。
2　青森県と となりあう。
3　海に めんして いる。
正しくは　福島県とは となりあって いない。

⑤ 山形県　まちがい 番号 **3**

1　新潟県と となりあう。
2　福島県と となりあう。
3　となりあう 県は 5つ。
正しくは　となりあう 県は 4つ。

⑥ 福島県　まちがい 番号 **2**

1　茨城県と となりあう。
2　秋田県と となりあう。
3　海に めんして いる。
正しくは　秋田県とは となりあって いない。

⑦ 群馬県　まちがい 番号 **1**

1　山形県と となりあう。
2　栃木県と となりあう。
3　海に めんして いない。
正しくは　山形県とは となりあって いない。

⑧ 栃木県　まちがい 番号 **3**

1　群馬県と となりあう。
2　福島県と となりあう。
3　海に めんして いる。
正しくは　海に めんして いない。

いちごドリル プリント

となりの 県の ヒントで 県を 当てよう ⑤【こたえ】

なまえ ＿＿＿＿＿＿＿＿

小5／県が 1つに きまる ヒントを 自分で 考えよう／ぜんぶで 5もん　ひづけ ＿＿＿＿＿＿＿＿

下の 県の 名前に なるように、ヒントを 2つ 考えて 書こう。
ヒントは「○○県と となりあう」「となりあう 県は ○つ」のような 文。ふつう 1つだけでは 決まりません。
書いたら、地図で 本当に その 県だけに なるか たしかめよう。
海を はさむだけの 県は、となりあって いません。

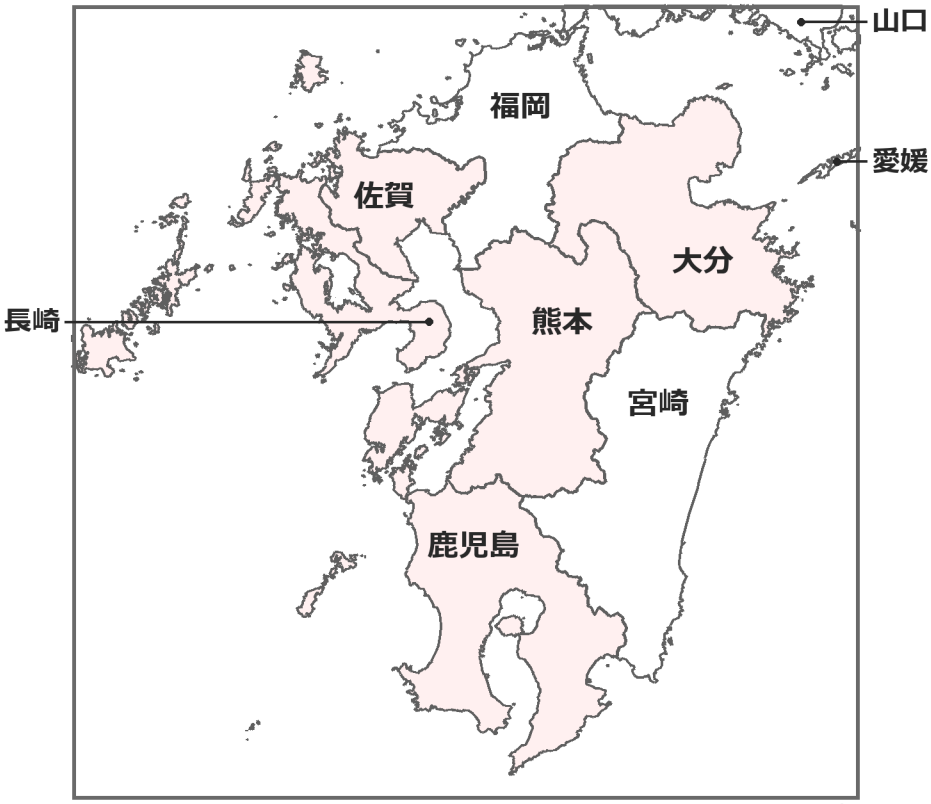

出典：地球地図日本（国土地理院）

① **熊本県**　に なる ヒントを 2つ

- ヒント1　**大分県と となりあう**
- ヒント2　**宮崎県と となりあう**

② **佐賀県**　に なる ヒントを 2つ

- ヒント1　**福岡県と となりあう**
- ヒント2　**熊本県とは となりあって いない**

③ **大分県**　に なる ヒントを 2つ

- ヒント1　**福岡県と となりあう**
- ヒント2　**となりあう 県は 3つ**

④ **長崎県**　に なる ヒントを 2つ

- ヒント1　**佐賀県と となりあう**
- ヒント2　**福岡県とは となりあって いない**

⑤ **鹿児島県**　に なる ヒントを 2つ

- ヒント1　**熊本県と となりあう**
- ヒント2　**となりあう 県は 2つ**

※ こたえは 一つの れいです。ほかの 正しい ヒントでも よいです。

いちごドリル プリント