となりの 県の ヒントで 県を 当てよう

小4／ヒントを 地図で たしかめて 県の 名前を 書こう

なまえ ＿＿＿＿＿＿＿＿＿＿

ひづけ ＿＿＿＿＿＿＿＿＿＿

地図の 線は 県と 県の さかいです。線で くっついて いる 県を「となりあう 県」と いいます。
海を はさんで いるだけの 県は、となりあって いません。地図の はしで 切れて いる 県も あります。
ヒントは ぜんぶ あてはまる 県が 答えです。ヒント1つだけでは 決まりません。

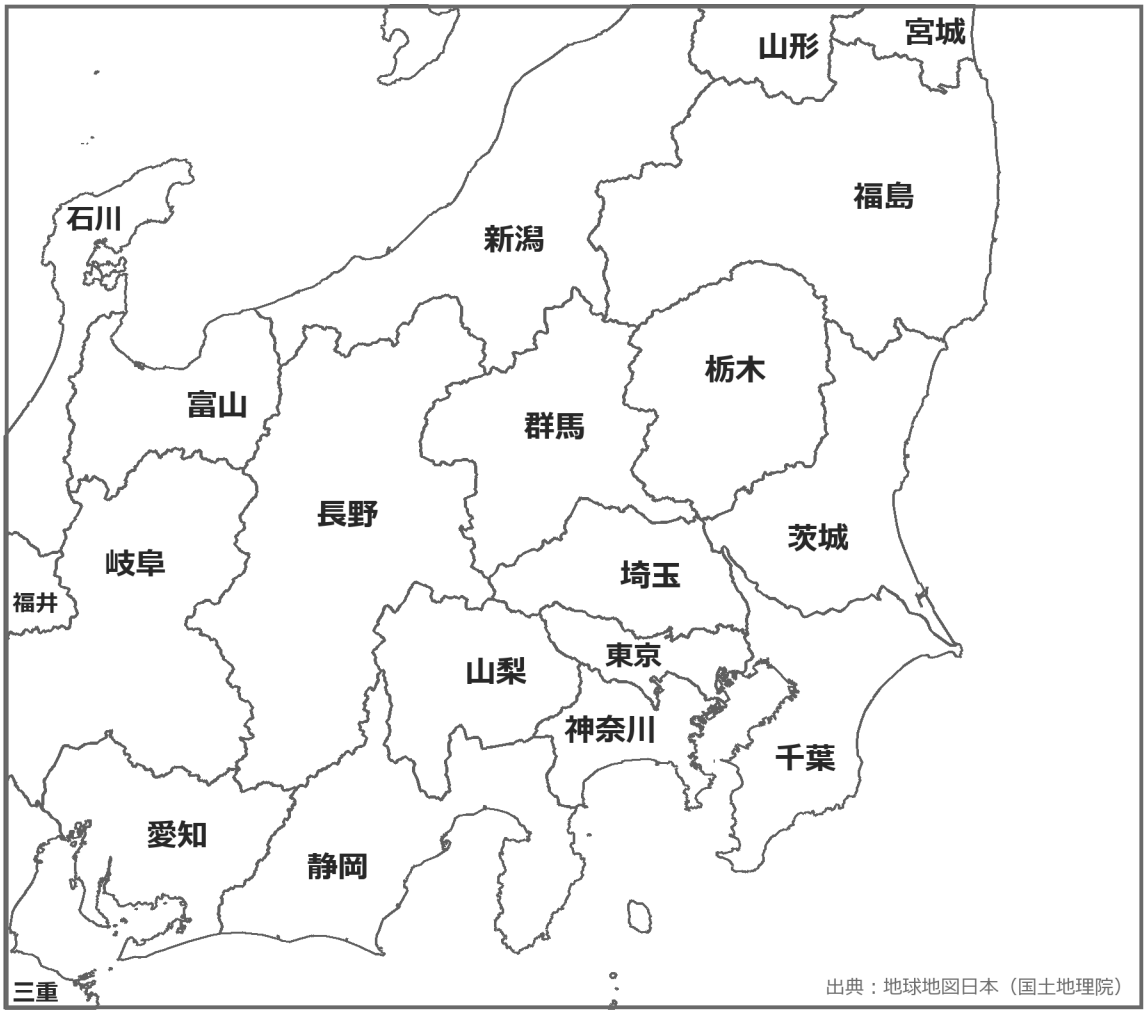

出典：地球地図日本（国土地理院）

① ・海に めんして いない。
・神奈川県と となりあう。

こたえ ＿＿＿＿ 県

② ・となりあう 県は 4つ。
・静岡県と となりあう。

こたえ ＿＿＿＿ 県

③ ・福島県と となりあう。
・茨城県と となりあう。

こたえ ＿＿＿＿ 県

④ ・海に めんして いない。
・となりあう 県は 5つ。
・東京都とは となりあって いない。

こたえ ＿＿＿＿ 県

⑤ となりあう 県が いちばん 多い 県は どこですか。いくつの 県と となりあって いますか。

こたえ ＿＿＿＿ 県 ＿＿＿＿ つ

いちごドリル プリント

つづきの無料プリント
「日本の白地図」のプリント一覧がひらきます

となりの 県の ヒントで 県を 当てよう ②

なまえ ＿＿＿＿＿＿＿＿

小4／3つの ヒントから、県が 1つに きまる ものを えらぼう／ぜんぶで 5もん　ひづけ ＿＿＿＿＿＿＿＿

ヒントを2つ 読んで、あてはまる 県を 地図で さがそう。
下の ア・イ・ウ の うち、1つを たすと 県が 1つに きまる ものを 1つ えらぼう。
きまる ものを 丸で かこみ、きまる 県の 名前を 書こう。

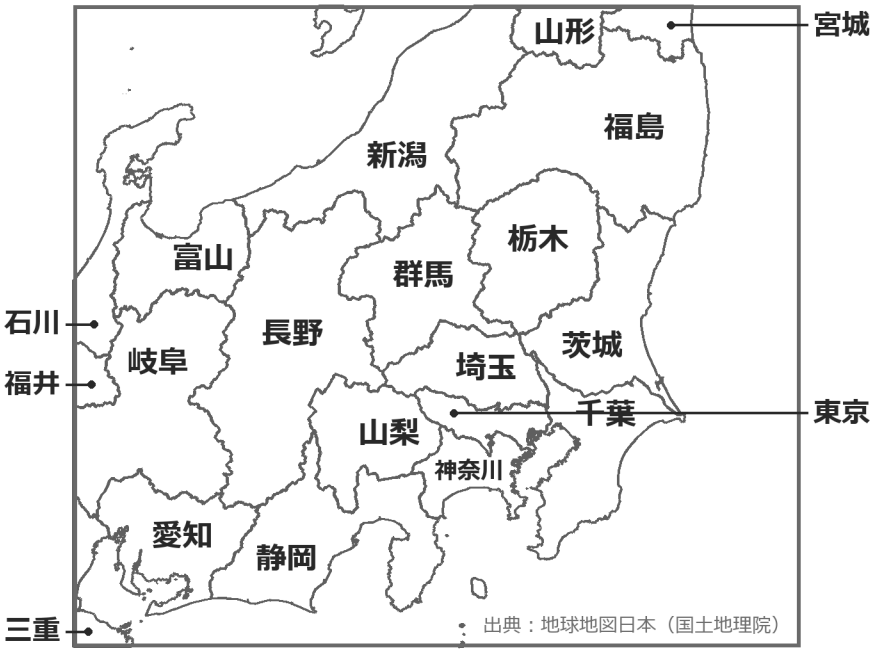

① もとの ヒント　千葉県と となりあう・長野県とは となりあって いない
ア 福島県と となりあう
イ となりあう 県は 4つ
ウ 群馬県とは となりあって いない

きまる 県 ＿＿＿＿ **県**

② もとの ヒント　東京都と となりあう・長野県とは となりあって いない
ア となりあう 県は 3つ
イ 福島県とは となりあって いない
ウ 茨城県とは となりあって いない

きまる 県 ＿＿＿＿ **県**

③ もとの ヒント　神奈川県と となりあう・山梨県と となりあう
ア となりあう 県は 4つ
イ 埼玉県とは となりあって いない
ウ 茨城県とは となりあって いない

きまる 県 ＿＿＿＿ **県**

④ もとの ヒント　海に めんして いる・富山県と となりあう
ア 東京都とは となりあって いない
イ 神奈川県とは となりあって いない
ウ 群馬県と となりあう

きまる 県 ＿＿＿＿ **県**

⑤ もとの ヒント　となりあう 県は 5つ・福島県と となりあう
ア 茨城県とは となりあって いない
イ 海に めんして いない
ウ 東京都とは となりあって いない

きまる 県 ＿＿＿＿ **県**

いちごドリル プリント

つづきの無料プリント
「日本の白地図」のプリント一覧がひらきます

となりの 県の ヒントで 県を 当てよう ③

なまえ ＿＿＿＿＿＿＿＿

ひづけ ＿＿＿＿＿＿＿＿

小5／名前の ない 地図を、ヒントと 位置の きおくで 当てよう／ぜんぶで 5もん

この 地図は 県の 名前が ありません。①～⑤の 形の 県を 見つけよう。
ヒントに ある 県の 名前は、地図に そのまま 書いて あります。目印に しよう。
見つけた 県の 名前を 下に 書こう。

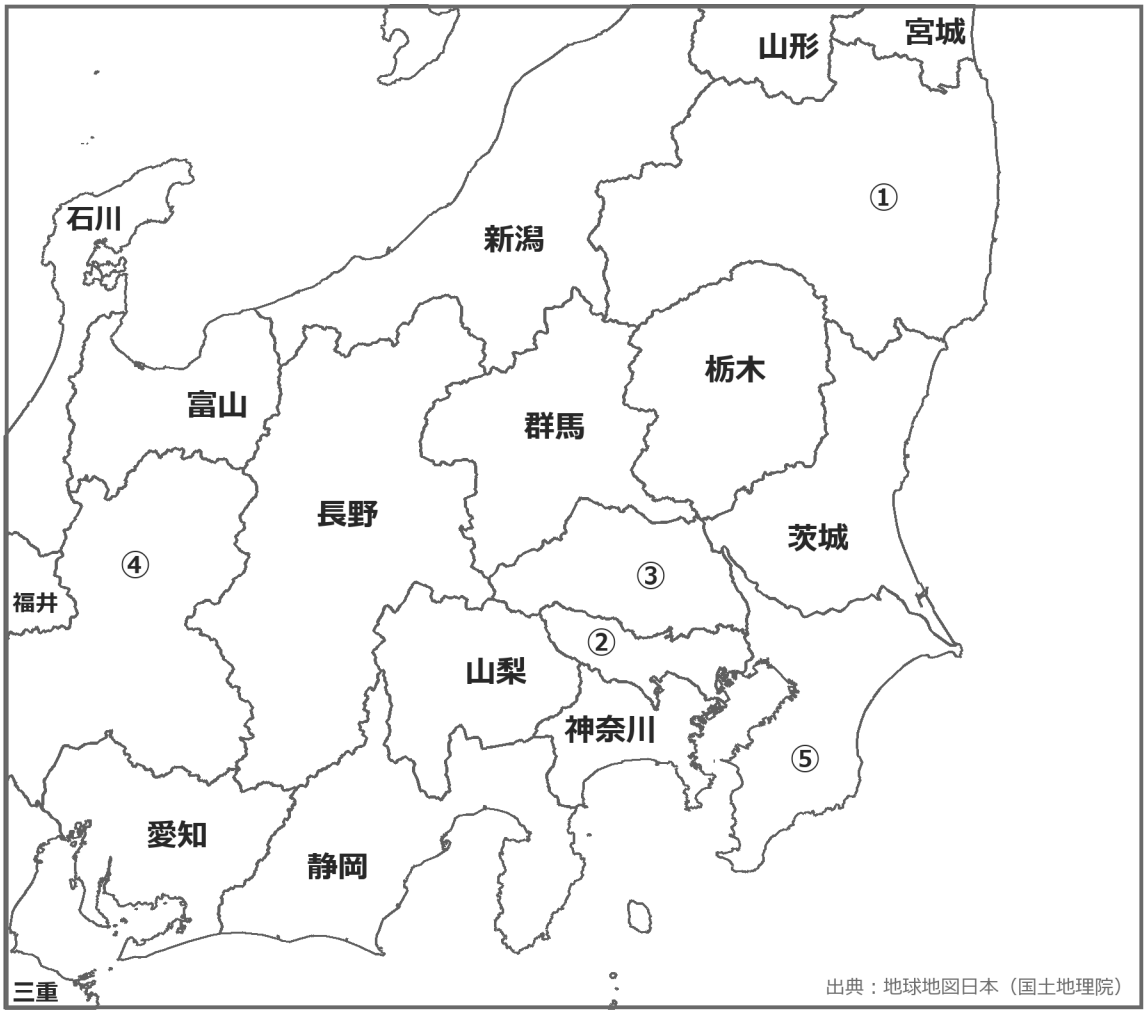

① ・となりあう 県は 6つ。
・宮城県と となりあう。

こたえ ＿＿＿＿ 県

② ・神奈川県と となりあう。
・長野県とは となりあって いない。

こたえ ＿＿＿＿ 県

③ ・茨城県と となりあう。
・山梨県と となりあう。

こたえ ＿＿＿＿ 県

④ ・富山県と となりあう。
・石川県と となりあう。

こたえ ＿＿＿＿ 県

⑤ ・となりあう 県は 3つ。
・茨城県と となりあう。

こたえ ＿＿＿＿ 県

いちごドリル プリント

つづきの無料プリント
「日本の白地図」のプリント一覧がひらきます

となりの 県の ヒントで 県を 当てよう ④

なまえ ＿＿＿＿＿＿＿＿

小4／ヒントの まちがいを 地図で たしかめよう／ぜんぶで 5もん　　ひづけ ＿＿＿＿＿＿＿＿

下に、県について 3つの 文が あります。1つだけ まちがって います。
地図で 本当に となりあって いるか たしかめよう。
まちがって いる 文の 番号を 書き、正しい 文に 直して 書こう。

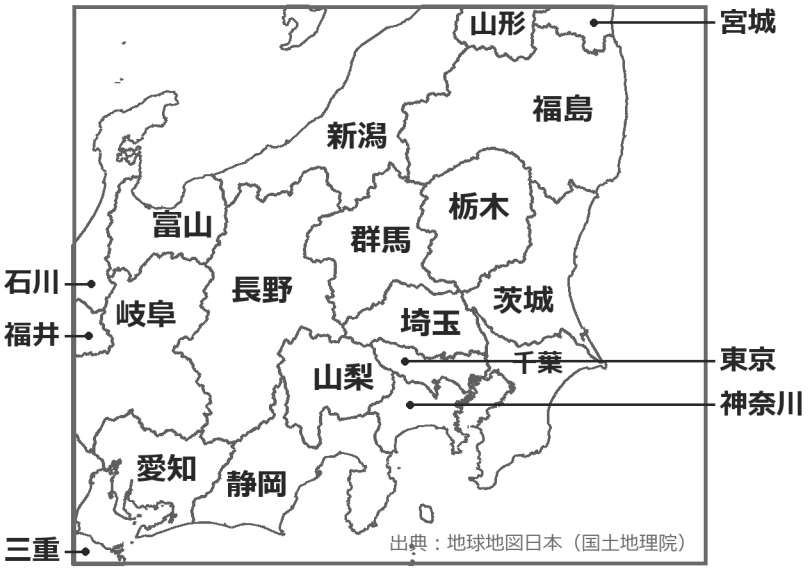

① 山梨県

1　静岡県と となりあう。
2　海に めんして いない。
3　富山県と となりあう。

まちがい 番号 ［　　］　ただしくは ［　　］

② 愛知県

1　山梨県と となりあう。
2　静岡県と となりあう。
3　となりあう 県は 4つ。

まちがい 番号 ［　　］　ただしくは ［　　］

③ 新潟県

1　福島県と となりあう。
2　茨城県と となりあう。
3　海に めんして いる。

まちがい 番号 ［　　］　ただしくは ［　　］

④ 福井県

1　三重県と となりあう。
2　石川県と となりあう。
3　海に めんして いる。

まちがい 番号 ［　　］　ただしくは ［　　］

⑤ 三重県

1　岐阜県と となりあう。
2　福井県と となりあう。
3　となりあう 県は 6つ。

まちがい 番号 ［　　］　ただしくは ［　　］

いちごドリル プリント

つづきの無料プリント
「日本の白地図」のプリント一覧がひらきます

となりの 県の ヒントで 県を 当てよう ⑤

なまえ ＿＿＿＿＿＿＿＿

小5／県が 1つに きまる ヒントを 自分で 考えよう／ぜんぶで 5もん　ひづけ ＿＿＿＿＿＿＿＿

下の 県の 名前に なるように、ヒントを 2つ 考えて 書こう。
1つの ヒントだけでは、ほかの 県にも あてはまって しまいます。
書いたら、地図で 本当に その 県だけに なるか たしかめよう。

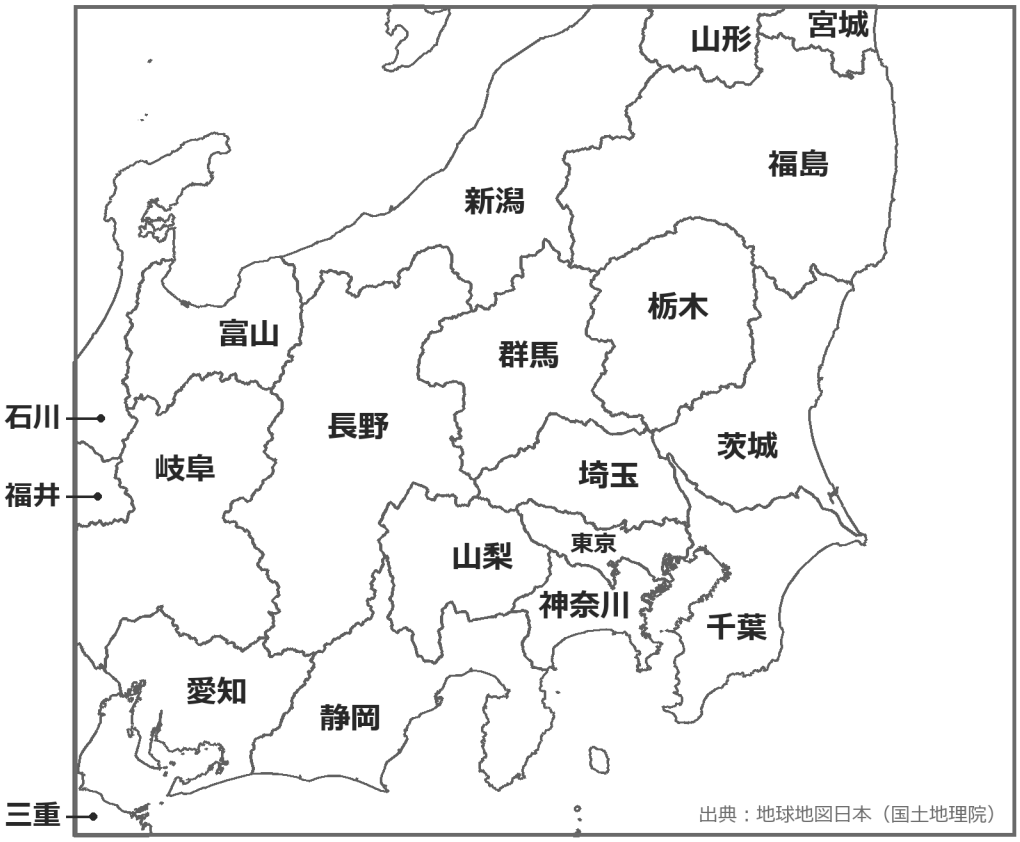

① **栃木県**　に なる ヒントを 2つ

ヒント1

ヒント2

② **石川県**　に なる ヒントを 2つ

ヒント1

ヒント2

③ **静岡県**　に なる ヒントを 2つ

ヒント1

ヒント2

④ **茨城県**　に なる ヒントを 2つ

ヒント1

ヒント2

⑤ **長野県**　に なる ヒントを 2つ

ヒント1

ヒント2

いちごドリル プリント

つづきの無料プリント
「日本の白地図」のプリント一覧がひらきます