県境を いくつ こえる？ 県から 県への たび

なまえ ＿＿＿＿＿＿＿＿

小4〜小5／となりあう 県を たどって ゴールまで

ひづけ ＿＿＿＿＿＿＿＿

出発の 県から ゴールの 県まで、となりあう 県を たどって 行きます。
県と 県の さかいの 線を 1回 こえるごとに「県境を 1回 こえた」と 数えます。
□の 数だけ、通る 県を 書きます。いちばん 少ない 回数の 道を 1つ。答えが 2つ以上 あるときは どれでも 正解。
れい：群馬県 → 埼玉県 → 千葉県 は、県境を 2回 こえます。



① 山形県から 栃木県まで

山形県 → □ **→ 栃木県**

② 宮城県から 千葉県まで

宮城県 → □ **→** □ **→ 千葉県**

③ 青森県から 東京都まで

青森県 → □ **→** □

→ □ **→** □ **→** □

→ 東京都

④ 青森県から 新潟県まで

青森県 → □ **→** □ **→ 新潟県**

⑤ 岩手県から、県境を ちょうど 2回 こえて 行ける 県を ぜんぶ 書きましょう。

（いちばん 少ない 回数で ちょうど 2回 の 県です）

□ □ □

□は あまっても かまいません。

近道を さがそう

小4〜小5／いちばん 少ない 回数の 道を 1つ 書く

なまえ ＿＿＿＿＿＿＿＿

ひづけ ＿＿＿＿＿＿＿＿

出発の 県から ゴールの 県まで、となりあう 県を たどります。海を はさむだけの 県は となりあって いません。
いちばん 少ない 回数で 行ける 道を 1つ 書きます（答えが 2つ以上 あるときは どれでも 正解）。
□の 数は、通る 県の 数より 多く してあります。あまっても かまいません。
れい：島根県 → 鳥取県 → 兵庫県 は、県境を 2回 こえます。

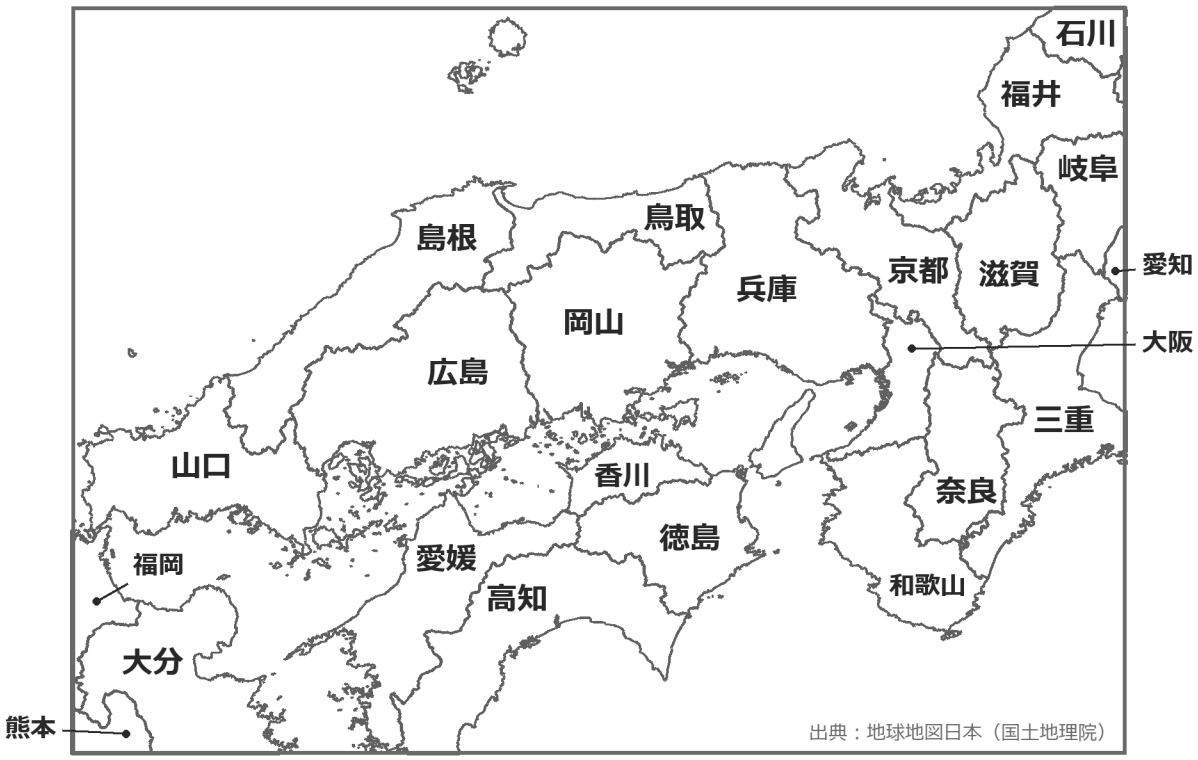

① 岡山県から 山口県まで

岡山県 → □ → □ → 山口県

② 滋賀県から 奈良県まで

滋賀県 → □ → □ → 奈良県

③ 滋賀県から 岡山県まで

滋賀県 → □ → □ → □ → 岡山県

④ 京都府から 島根県まで

京都府 → □ → □ → □ → 島根県

⑤ 福井県から 島根県まで

福井県 → □ → □ → □ → □ → 島根県

いちごドリル プリント

つづきの無料プリント
「日本の白地図」のプリント一覧がひらきます

回数だけ 答えよう

小4〜小5／通る 県を 考えて、回数だけ 書く

なまえ ＿＿＿＿＿＿＿＿

ひづけ ＿＿＿＿＿＿＿＿

出発の 県から ゴールの 県まで、となりあう 県を たどって 行きます。
通る 県を 頭の中で たどって、県境を こえる 回数だけを □に 書きます。
回数が いちばん 少ない 行き方で 考えます。
れい：福井県 → 岐阜県 → 愛知県 は、県境を 2回 こえます。

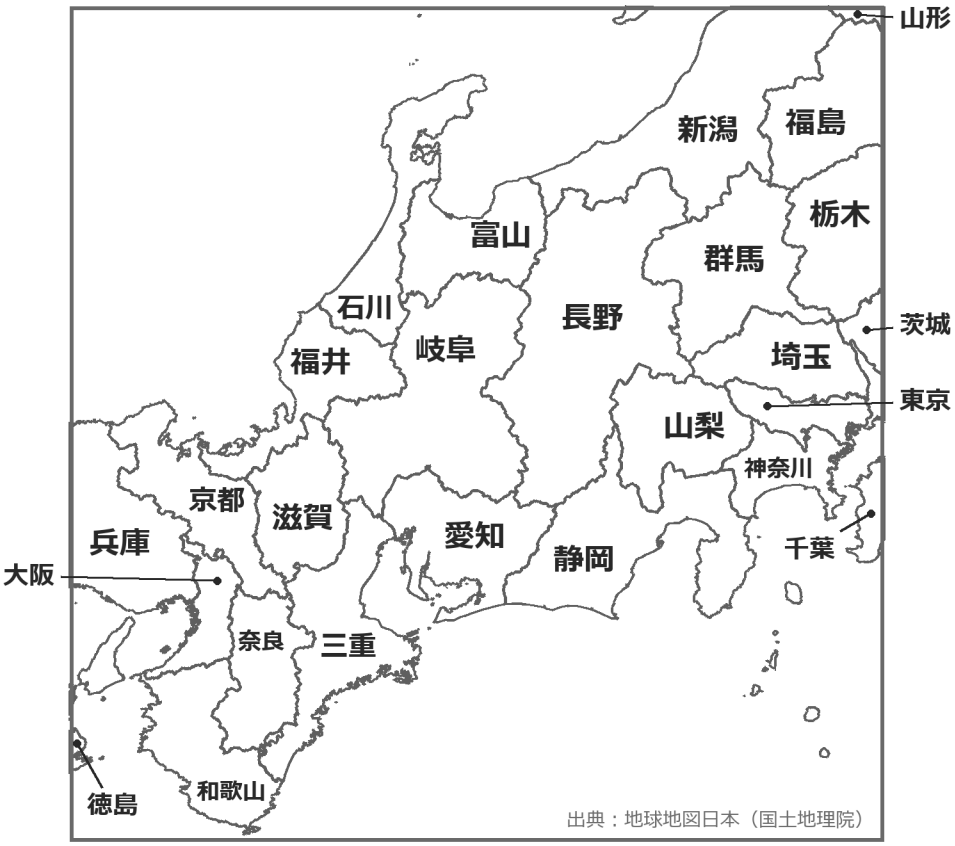

① 新潟県から 山梨県まで □ 回

② 福井県から 静岡県まで □ 回

③ 神奈川県から 福井県まで □ 回

④ 富山県から 静岡県まで □ 回

⑤ 石川県から 和歌山県まで □ 回

⑥ 群馬県から 福井県まで □ 回

⑦ 石川県から 愛知県まで □ 回

⑧ 富山県から 奈良県まで □ 回

⑨ 神奈川県から 石川県まで □ 回

⑩ 新潟県から 福井県まで □ 回

⑪ 石川県から 静岡県まで □ 回

⑫ 神奈川県から 岐阜県まで □ 回

いちごドリル プリント

つづきの無料プリント
「日本の白地図」のプリント一覧がひらきます

ちょうど3回で 行ける県

小4〜小5／行ける 県を ぜんぶ 見つける

なまえ ＿＿＿＿＿＿＿＿

ひづけ ＿＿＿＿＿＿＿＿

出発の 県から、県境を ちょうど 3回 こえて 行ける 県を すべて 書きます。
1回ごとに、となりあう 県へ しか 進めません。海を はさむだけの 県は、となりあって いません。
いちばん 少ない 回数で、ちょうど 3回に なる 県だけが 答えです。□は あまっても かまいません。
れい：福岡県から ちょうど 2回 こえて 行ける 県は、長崎県・宮崎県・鹿児島県 です。

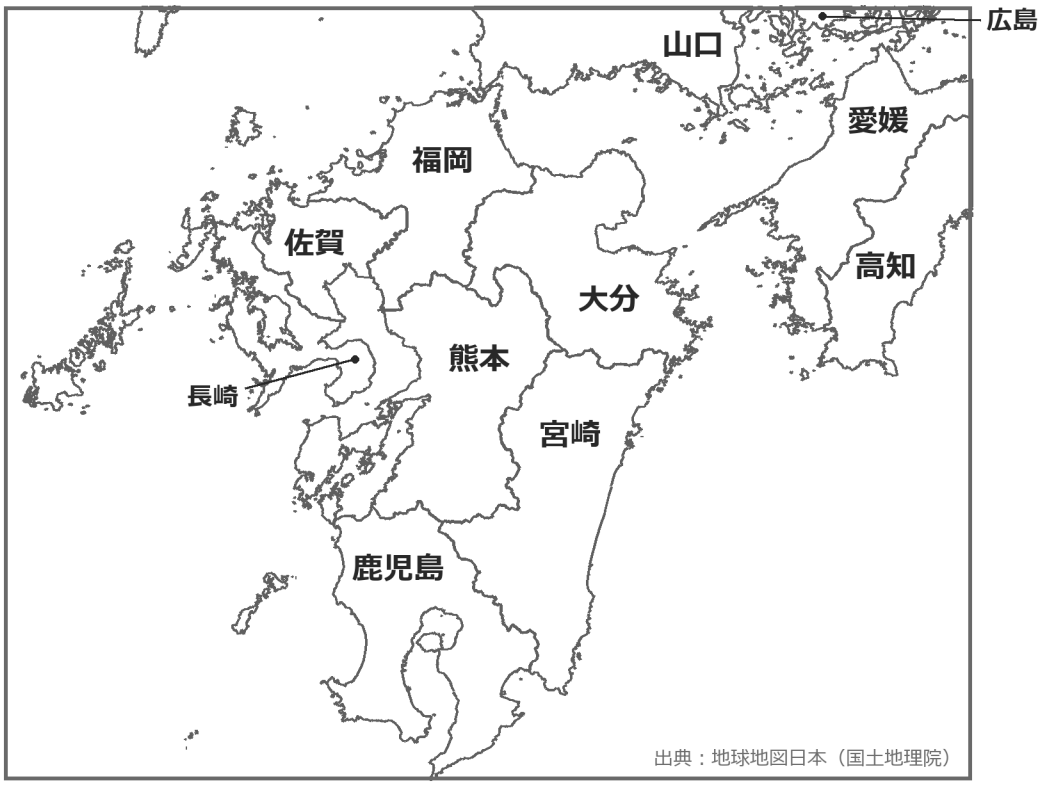

① 熊本県から ちょうど 3回

□ □

② 佐賀県から ちょうど 3回

□ □ □

③ 宮崎県から ちょうど 3回

□ □

④ 長崎県から ちょうど 3回

□ □ □

⑤ 鹿児島県から ちょうど 3回

□ □

⑥ 大分県から ちょうど 3回

□ □

いちごドリル プリント

つづきの無料プリント
「日本の白地図」のプリント一覧がひらきます

通れない県を さけて

小4〜小5／通れない 県を さけて 道を 書く

なまえ ＿＿＿＿＿＿＿＿

ひづけ ＿＿＿＿＿＿＿＿

出発の 県から ゴールの 県まで、通れる 県だけを たどります。地図に ×で しめした 京都府は 通れません。
海を はさむだけの 県は、となりあって いません。□は あまっても かまいません。
いちばん 少ない 回数で 行ける 道を 1つ 書きます（答えが 2つ以上 あるときは どれでも 正解）。
れい：兵庫県 → 大阪府 → 奈良県 は、京都府を 通らずに 県境を 2回 こえます。

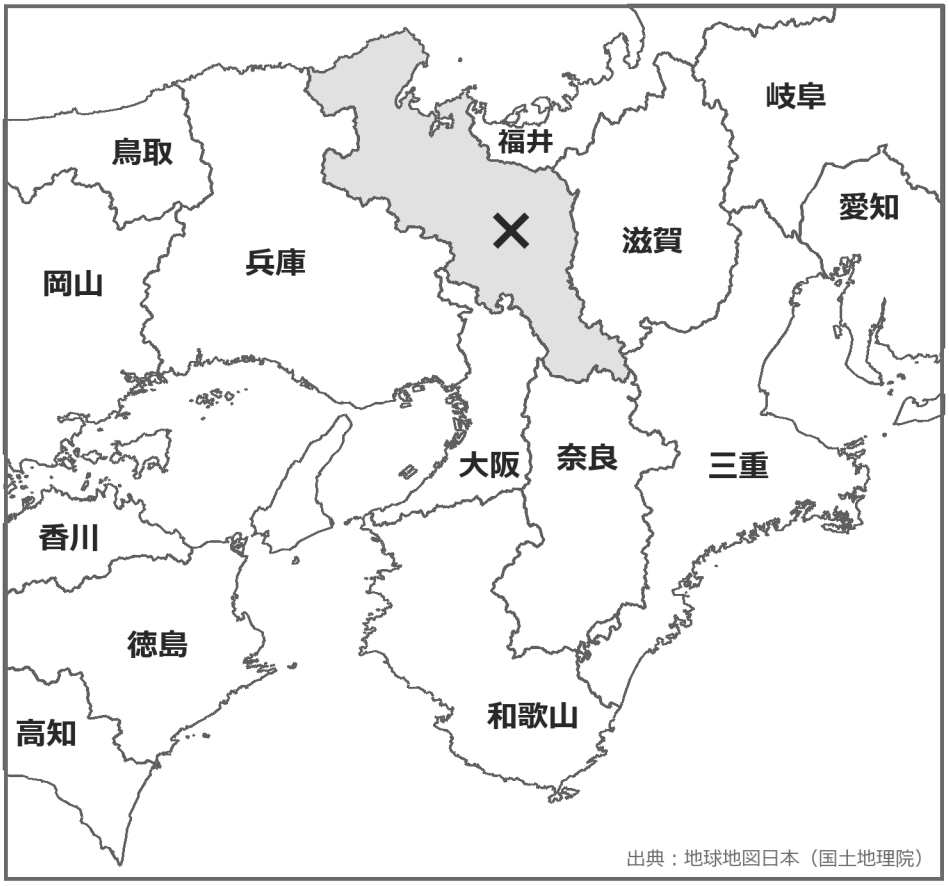

① 三重県から 兵庫県まで

三重県 → □ → □ → □ → 兵庫県

② 福井県から 奈良県まで

福井県 → □ → □ → □ → 奈良県

③ 滋賀県から 兵庫県まで

滋賀県 → □ → □ → □ → □ → 兵庫県

④ 福井県から 大阪府まで

福井県 → □ → □ → □ → □ → 大阪府

いちごドリル プリント

つづきの無料プリント
「日本の白地図」のプリント一覧がひらきます