小3 長さ 練習プリント③

道のりと きょり 全6問

なまえ ＿＿＿＿＿＿＿＿

学習日 ＿＿＿＿月＿＿＿＿日

ねらい 道のりは 実線を たし、きょりは 点線の 長さを 読もう。

ときかた **家から 学校までを 調べよう。**

①②③は □の 番号

道のり 300+500=① ＿＿＿＿ m

きょりは 点線で ② ＿＿＿＿ m

ちがい ①−②= ③ ＿＿＿＿ m

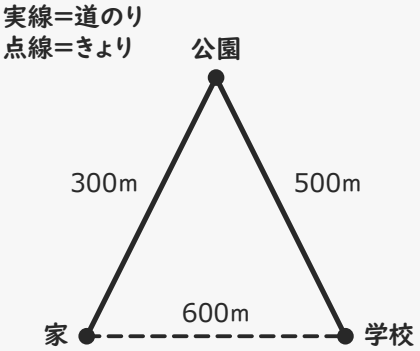

れんしゅう

図を 見て、答えを 書きましょう。

1 家から 駅までの 道のりは? ＿＿＿＿ m

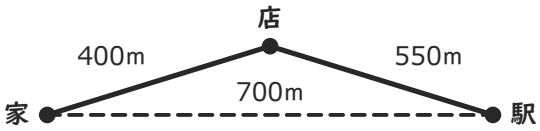

2 駅から 図書館までの 道のりは? ＿＿＿＿ km ＿＿＿＿ m

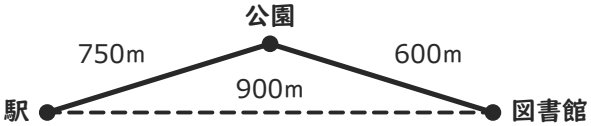

3 学校から 駅までの きょりは? ＿＿＿＿ m

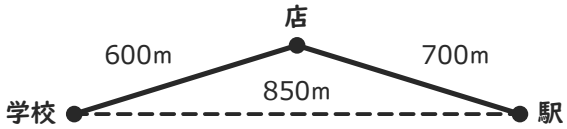

4 家から 学校までの きょりは? ＿＿＿＿ km ＿＿＿＿ m



5 道のりは きょりより 何m 長い? ＿＿＿＿ m

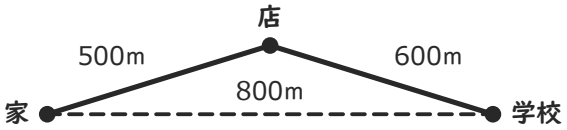

6 道のりは きょりより 何m 長い? ＿＿＿＿ m



いちごドリル プリント

つづきの無料プリント
「小3の長さ」のプリント一覧がひらきます

小3 長さ 練習プリント③【こたえ】

なまえ ＿＿＿＿＿＿＿＿

道のりと きょり 全6問

学習日 ＿＿＿月＿＿＿日

ねらい 道のりは 実線を たし、きょりは 点線の 長さを 読もう。

ときかた 家から 学校までを 調べよう。

①②③は □の 番号

道のり 300+500=① 800 m

きょりは 点線で ② 600 m

ちがい ①−②= ③ 200 m

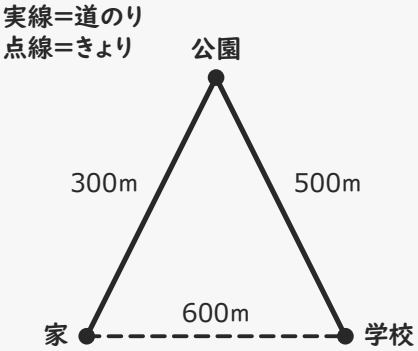

れんしゅう

図を 見て、答えを 書きましょう。

1 家から 駅までの 道のりは?

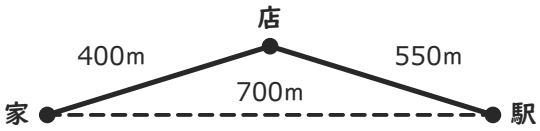

950 m

実線を たす。400＋550＝950m

2 駅から 図書館までの 道のりは?

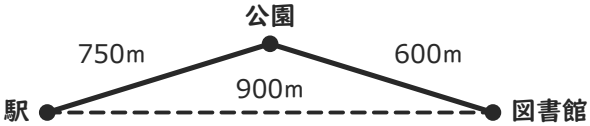

1 km 350 m

実線を たす。750＋600＝1350m
1350m＝1km350m

3 学校から 駅までの きょりは?

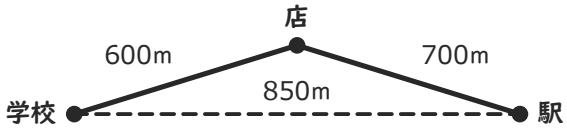

850 m

きょりは 点線（まっすぐ）の 長さ
→ 850m

4 家から 学校までの きょりは?



1 km 150 m

きょりは 点線（まっすぐ）の 長さ
→ 1km150m

5 道のりは きょりより 何m 長い?

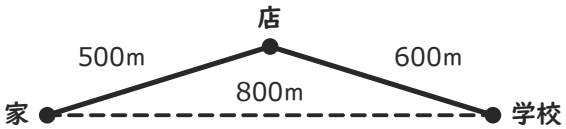

300 m

道のり 500＋600＝1100m
1100−800＝300m

6 道のりは きょりより 何m 長い?



500 m

道のり 800＋900＝1700m
1700−1200＝500m

いちごドリル プリント