小3 長さ 練習プリント③

道のりと きょり 全6問

なまえ ＿＿＿＿＿＿＿＿

学習日 ＿＿＿＿月＿＿＿＿日

ねらい 道のりは 実線を たし、きょりは 点線の 長さを 読もう。

ときかた **家から 学校までを 調べよう。**

①②③は □の 番号

道のり 300+500=① ＿＿＿＿ m

きょりは 点線で ② ＿＿＿＿ m

ちがい ①−②= ③ ＿＿＿＿ m

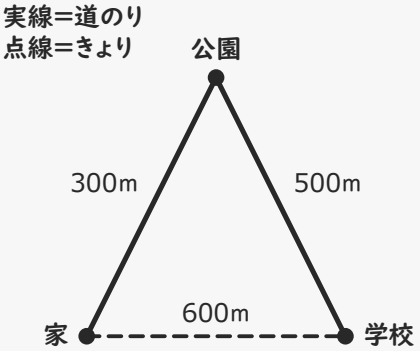

れんしゅう

図を 見て、答えを 書きましょう。

1 家から 駅までの 道のりは? ＿＿＿＿ m

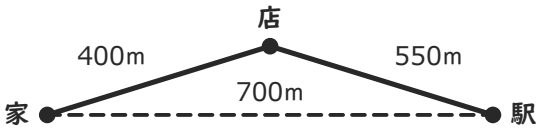

2 駅から 図書館までの 道のりは? ＿＿＿＿ km ＿＿＿＿ m

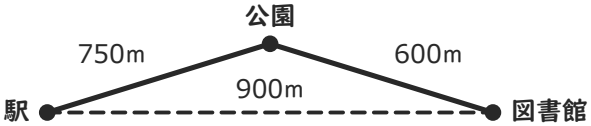

3 学校から 駅までの きょりは? ＿＿＿＿ m

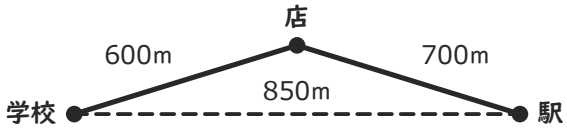

4 家から 学校までの きょりは? ＿＿＿＿ km ＿＿＿＿ m



5 道のりは きょりより 何m 長い? ＿＿＿＿ m

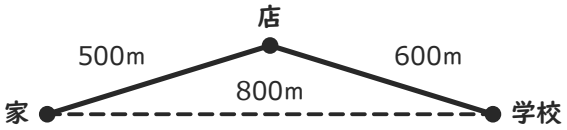

6 道のりは きょりより 何m 長い? ＿＿＿＿ m



いちごドリル プリント

つづきの無料プリント
「小3の長さ」のプリント一覧がひらきます