小3 長さ 練習プリント②

まきじゃくの 目もり 全6問

なまえ ＿＿＿＿＿＿＿＿

学習日 ＿＿＿月＿＿＿日

ねらい まきじゃくの 1mの 目もりから、あと 何cmかを 読もう。

ときかた **やじるしの 目もりは、何m何cmですか。**

①は □の 番号

1mから あと ① ＿＿＿＿ cm

こたえは ＿＿＿＿ m ＿＿＿＿ cm

やじるし=1m35cm

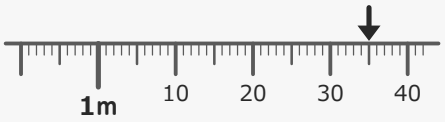

1mの 目もりから あと 何cm?

れんしゅう 目もりを 読んで、答えを 書きましょう。

1 やじるしの 目もりは?

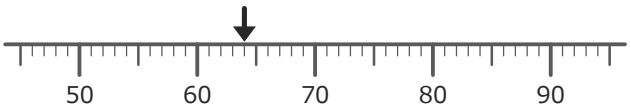

＿＿＿＿ cm

2 やじるしの 目もりは?

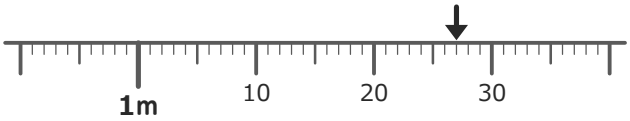

＿＿＿＿ m ＿＿＿＿ cm

3 やじるしの 目もりは?

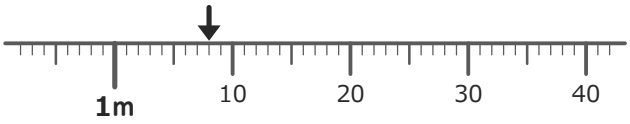

＿＿＿＿ m ＿＿＿＿ cm

4 やじるしの 目もりは?

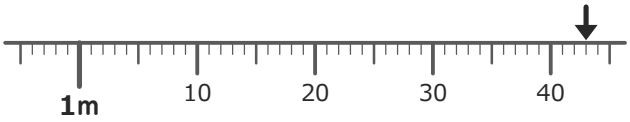

＿＿＿＿ m ＿＿＿＿ cm

5 158cm は、何m何cmですか。

＿＿＿＿ m ＿＿＿＿ cm

6 2m6cm は、何cmですか。

＿＿＿＿ cm

いちごドリル プリント

つづきの無料プリント
「小3の長さ」のプリント一覧がひらきます

小3 長さ 練習プリント②【こたえ】

まきじゃくの 目もり 全6問

なまえ ＿＿＿＿＿＿＿＿

学習日 ＿＿月＿＿日

ねらい まきじゃくの 1mの 目もりから、あと 何cmかを 読もう。

ときかた **やじるしの 目もりは、何m何cmですか。**

1mから あと ① 35 cm

こたえは 1 m 35 cm

①は □の 番号

やじるし=1m35cm

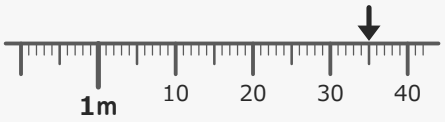

1mの 目もりから あと 何cm?

れんしゅう

目もりを 読んで、答えを 書きましょう。

1 やじるしの 目もりは?

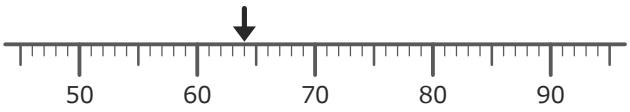

64 cm

1mより 小さいので cmだけ
→ 64cm

2 やじるしの 目もりは?

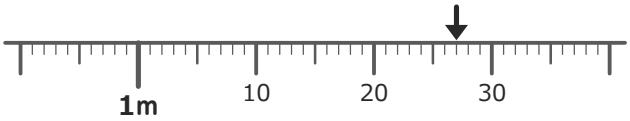

1 m 27 cm

1mの 目もりから あと 27cm
→ 1m27cm

3 やじるしの 目もりは?

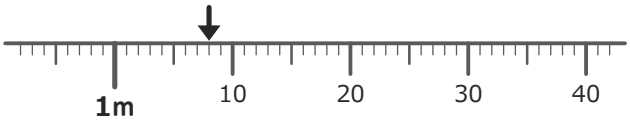

1 m 8 cm

1mの 目もりから あと 8cm
→ 1m8cm

4 やじるしの 目もりは?

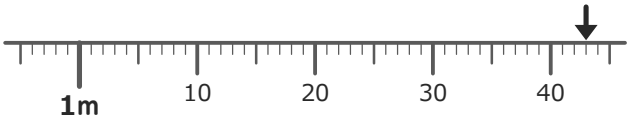

1 m 43 cm

1mの 目もりから あと 43cm
→ 1m43cm

5 158cm は、何m何cmですか。

1 m 58 cm

158cm＝100cm＋58cm
→ 1m58cm

6 2m6cm は、何cmですか。

206 cm

2m＝200cm
200＋6＝206cm