小3 長さ 練習プリント②

まきじゃくの 目もり 全6問

なまえ ＿＿＿＿＿＿＿＿

学習日 ＿＿＿月＿＿＿日

ねらい まきじゃくの 1mの 目もりから、あと 何cmかを 読もう。

ときかた **やじるしの 目もりは、何m何cmですか。**

①は □の 番号

1mから あと ① ＿＿＿＿ cm

こたえは ＿＿＿＿ m ＿＿＿＿ cm

やじるし=1m35cm

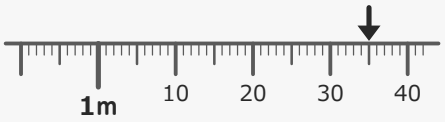

1mの 目もりから あと 何cm?

れんしゅう 目もりを 読んで、答えを 書きましょう。

1 やじるしの 目もりは?

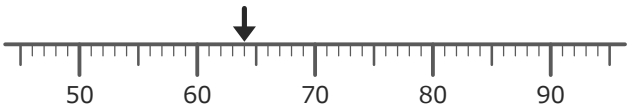

＿＿＿＿ cm

2 やじるしの 目もりは?

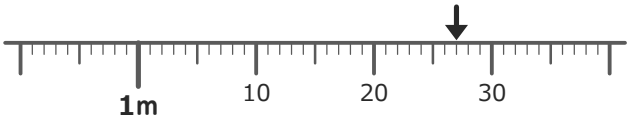

＿＿＿＿ m ＿＿＿＿ cm

3 やじるしの 目もりは?

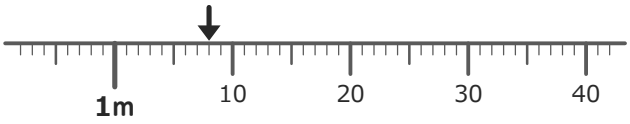

＿＿＿＿ m ＿＿＿＿ cm

4 やじるしの 目もりは?

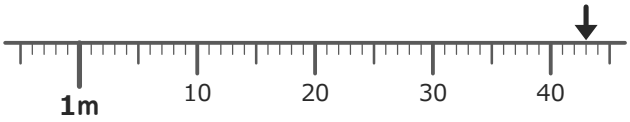

＿＿＿＿ m ＿＿＿＿ cm

5 158cm は、何m何cmですか。

＿＿＿＿ m ＿＿＿＿ cm

6 2m6cm は、何cmですか。

＿＿＿＿ cm

いちごドリル プリント

つづきの無料プリント
「小3の長さ」のプリント一覧がひらきます