小3 長さ そうごうテスト（その1）

全12問　100点

なまえ ＿＿＿＿＿＿＿＿

ひづけ ＿＿＿＿＿＿　/100

下線には数だけ書く（たんいは書いてある）。「たんいは どれかな？」の問題は、たんいを○でかこむ

8点

1 2km50mは、
何mですか。

＿＿＿＿＿ m

8点

2 1km600m ＋ 700m ＝

＿＿＿＿ km ＿＿＿＿＿ m

8点

3 やじるしが さす 目もりは、
何m何cmですか。

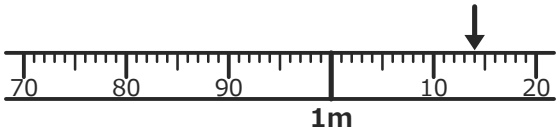

＿＿＿＿ m ＿＿＿＿ cm

8点

4 家から 学校までの
道のりは、何km何mですか。

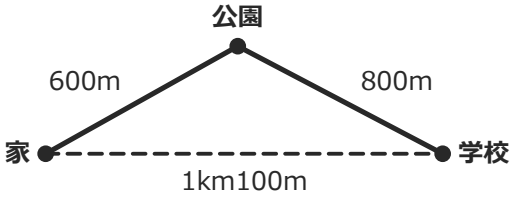

＿＿＿＿ km ＿＿＿＿＿ m

8点

5 3km200m − 1km600m ＝

＿＿＿＿ km ＿＿＿＿＿ m

8点

6 えんぴつの 長さは 17（　）。
たんいは どれかな？

m　　**cm**　　**km**

8点

7 1時間 歩いた 道のりは 4（　）。
たんいは どれかな？

cm　　**m**　　**km**

8点

8 4070mは、
何km何mですか。

＿＿＿＿ km ＿＿＿＿ m

9点

9 家から 駅までの
きょりは、何mですか。

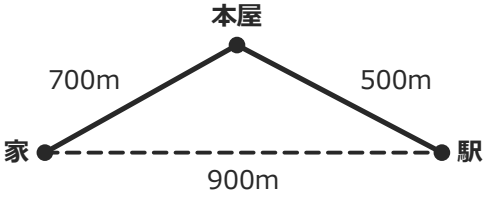

＿＿＿＿＿ m

9点

10 やじるしが さす 目もりは、
何m何cmですか。

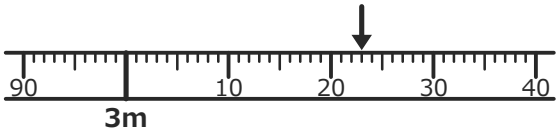

＿＿＿＿ m ＿＿＿＿ cm

9点

11 5km100m − 600m ＝

＿＿＿＿ km ＿＿＿＿＿ m

9点

12 2km450m ＋ 1km750m ＝

＿＿＿＿ km ＿＿＿＿＿ m

いちごドリル プリント

つづきの無料プリント
「小3の長さ」のプリント一覧がひらきます

小3 長さ とっくんドリル①-1

kmとmのなおし方と、長さのたんいえらび　全12問

なまえ ＿＿＿＿＿＿＿＿

ひづけ ＿＿＿＿＿＿＿＿

下線には数だけ（たんいは書いてある）。kmかmかを見る。「たんいは どれかな？」は1つを○でかこむ

1 1kmは、
何mですか。

＿＿＿＿ m

2 7000mは、
何kmですか。

＿＿＿＿ km

3 1km80mは、
何mですか。

＿＿＿＿ m

4 5020mは、
何km何mですか。

＿＿＿ km ＿＿＿ m

5 8km950mは、
何mですか。

＿＿＿＿ m

6 6967mは、
何km何mですか。

＿＿＿ km ＿＿＿ m

7 3km4mは、
何mですか。

＿＿＿＿ m

8 7003mは、
何km何mですか。

＿＿＿ km ＿＿＿ m

9 車で 1時間に 走る 道のりは
50（　）。たんいは どれかな？

m　　cm　　km

10 あり1ぴきの 大きさは 4（　）。
たんいは どれかな？

cm　　km　　m　　mm

11 けしゴムの 長さは 5（　）。
たんいは どれかな？

km　　m　　cm

12 電柱の 高さは 10（　）。
たんいは どれかな？

cm　　m　　km

いちごドリル プリント

つづきの無料プリント
「小3の長さ」のプリント一覧がひらきます

小3 長さ とっくんドリル①-2

kmとmのなおし方と、長さのたんいえらび　全12問

なまえ ＿＿＿＿＿＿＿＿

ひづけ ＿＿＿＿＿＿＿＿

下線には数だけ（たんいは書いてある）。kmかmかを見る。「たんいは どれかな？」は1つを○でかこむ

1 6kmは、
何mですか。

＿＿＿＿ m

2 2000mは、
何kmですか。

＿＿＿＿ km

3 3km498mは、
何mですか。

＿＿＿＿ m

4 1901mは、
何km何mですか。

＿＿＿ km ＿＿＿ m

5 2km45mは、
何mですか。

＿＿＿＿ m

6 9095mは、
何km何mですか。

＿＿＿ km ＿＿＿ m

7 4km7mは、
何mですか。

＿＿＿＿ m

8 9005mは、
何km何mですか。

＿＿＿ km ＿＿＿ m

9 バスで 行った 道のりは 7（　）。
たんいは どれかな？

km　　cm　　m

10 10円玉の あつさは 1（　）。
たんいは どれかな？

cm　　mm　　m　　km

11 ペットボトルの 高さは 20（　）。
たんいは どれかな？

km　　cm　　m

12 バスの 長さは 12（　）。
たんいは どれかな？

m　　cm　　km

いちごドリル プリント

つづきの無料プリント
「小3の長さ」のプリント一覧がひらきます

小3 長さ とっくんドリル①-3

kmとmのなおし方と、長さのたんいえらび　全12問

なまえ ＿＿＿＿＿＿＿＿

ひづけ ＿＿＿＿＿＿＿＿

下線には数だけ（たんいは書いてある）。kmかmかを見る。「たんいは どれかな？」は1つを○でかこむ

1 4kmは、
何mですか。

＿＿＿＿ m

2 5000mは、
何kmですか。

＿＿＿＿ km

3 4km59mは、
何mですか。

＿＿＿＿ m

4 7058mは、
何km何mですか。

＿＿＿ km ＿＿＿ m

5 2km226mは、
何mですか。

＿＿＿＿ m

6 2700mは、
何km何mですか。

＿＿＿ km ＿＿＿ m

7 1km7mは、
何mですか。

＿＿＿＿ m

8 4007mは、
何km何mですか。

＿＿＿ km ＿＿＿ m

9 山のぼりで 歩いた 道のりは
5（　）。たんいは どれかな？

cm　　m　　km

10 お米1つぶの 長さは 7（　）。
たんいは どれかな？

cm　　m　　mm　　km

11 ふでばこの 長さは 21（　）。
たんいは どれかな？

km　　m　　cm

12 電車 1りょうの 長さは
20（　）。たんいは どれかな？

cm　　m　　km

いちごドリル プリント

つづきの無料プリント
「小3の長さ」のプリント一覧がひらきます

小3 長さ とっくんドリル①-4

kmとmのなおし方と、長さのたんいえらび　全12問

なまえ ＿＿＿＿＿＿＿＿

ひづけ ＿＿＿＿＿＿＿＿

下線には数だけ（たんいは書いてある）。kmかmかを見る。「たんいは どれかな？」は1つを○でかこむ

1 8kmは、
何mですか。

＿＿＿＿ m

2 1000mは、
何kmですか。

＿＿＿＿ km

3 8km644mは、
何mですか。

＿＿＿＿ m

4 7254mは、
何km何mですか。

＿＿＿ km ＿＿＿ m

5 5km66mは、
何mですか。

＿＿＿＿ m

6 9012mは、
何km何mですか。

＿＿＿ km ＿＿＿ m

7 4km2mは、
何mですか。

＿＿＿＿ m

8 1003mは、
何km何mですか。

＿＿＿ km ＿＿＿ m

9 自転車で 走った 道のりは
15（　）。たんいは どれかな？

km　　cm　　m

10 えんぴつの しんの ふとさは
2（　）。たんいは どれかな？

mm　km　　m　　cm

11 手のひらの 長さは 14（　）。
たんいは どれかな？

m　　cm　　km

12 たいいくかんの よこの 長さは
30（　）。たんいは どれかな？

m　　km　　cm

いちごドリル プリント

つづきの無料プリント
「小3の長さ」のプリント一覧がひらきます

小3 長さ とっくんドリル①-5

kmとmのなおし方と、長さのたんいえらび　全12問

なまえ ＿＿＿＿＿＿＿＿

ひづけ ＿＿＿＿＿＿＿＿

下線には数だけ（たんいは書いてある）。kmかmかを見る。「たんいは どれかな？」は1つを○でかこむ

1 7kmは、
何mですか。

＿＿＿＿ m

2 8000mは、
何kmですか。

＿＿＿＿ km

3 9km72mは、
何mですか。

＿＿＿＿ m

4 4011mは、
何km何mですか。

＿＿＿ km ＿＿＿ m

5 7km988mは、
何mですか。

＿＿＿＿ m

6 3999mは、
何km何mですか。

＿＿＿ km ＿＿＿ m

7 2km3mは、
何mですか。

＿＿＿＿ m

8 3006mは、
何km何mですか。

＿＿＿ km ＿＿＿ m

9 となりの 市までの 道のりは
20（　）。たんいは どれかな？

cm　　m　　km

10 1円玉の はばは 20（　）。
たんいは どれかな？

cm　　km　　mm　　m

11 クレヨンの 長さは 8（　）。
たんいは どれかな？

km　　m　　cm

12 ドアの 高さは 2（　）。
たんいは どれかな？

cm　　m　　km

いちごドリル プリント

つづきの無料プリント
「小3の長さ」のプリント一覧がひらきます

小3 長さ とっくんドリル②-1

まきじゃくの目もりと、道のりときょり　全8問

なまえ ＿＿＿＿＿＿＿＿

ひづけ ＿＿＿＿＿＿＿＿

下線には数だけ書く（たんいは書いてある）。まきじゃくは、やじるしがさす目もりを読む

1　やじるしが さす 目もりは、
何m何cmですか。

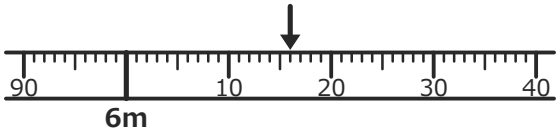

＿＿＿ m ＿＿＿ cm

2　公園から 家までの
道のりは、何km何mですか。

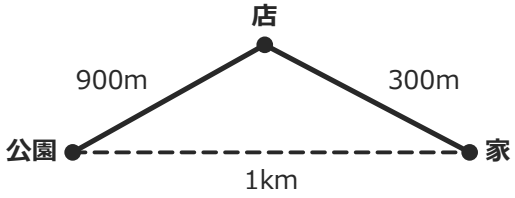

＿＿＿ km ＿＿＿ m

3　やじるしが さす 目もりは、
何cmですか。

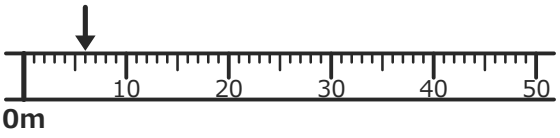

＿＿＿ cm

4　家から 学校までの
きょりは、何km何mですか。

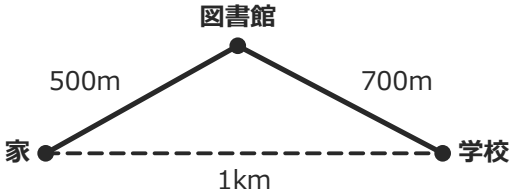

＿＿＿ km ＿＿＿ m

5　やじるしが さす 目もりは、
何m何cmですか。

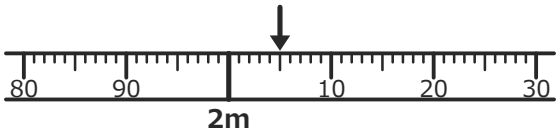

＿＿＿ m ＿＿＿ cm

6　家から 学校までの
道のりは、きょりより 何m 長い？

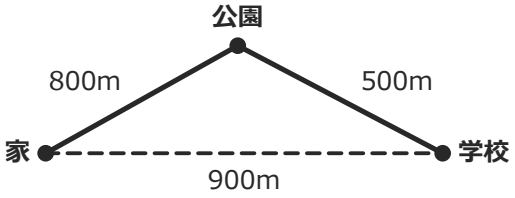

＿＿＿ m

7　やじるしが さす 目もりは、
何m何cmですか。

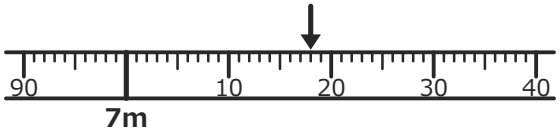

＿＿＿ m ＿＿＿ cm

8　家から 駅までの
道のりは、何km何mですか。

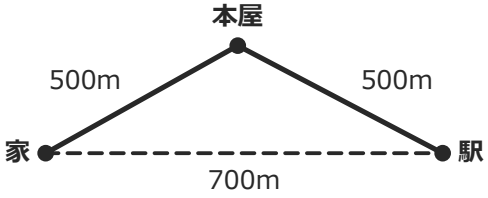

＿＿＿ km ＿＿＿ m

いちごドリル プリント

つづきの無料プリント
「小3の長さ」のプリント一覧がひらきます

小3 長さ とっくんドリル②-2

まきじゃくの目もりと、道のりときょり　全8問

なまえ ＿＿＿＿＿＿＿＿

ひづけ ＿＿＿＿＿＿＿＿

下線には数だけ書く（たんいは書いてある）。まきじゃくは、やじるしがさす目もりを読む

1　やじるしが さす 目もりは、
何m何cmですか。

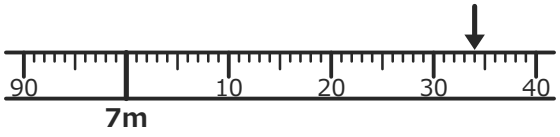

＿＿＿ m ＿＿＿ cm

2　学校から 図書館までの
きょりは、何km何mですか。

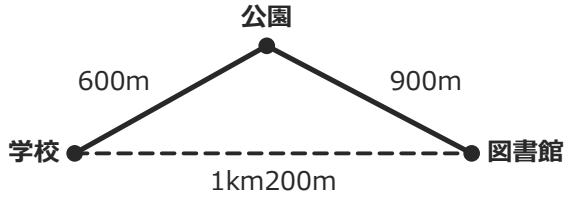

＿＿＿ km ＿＿＿＿ m

3　やじるしが さす 目もりは、
何m何cmですか。

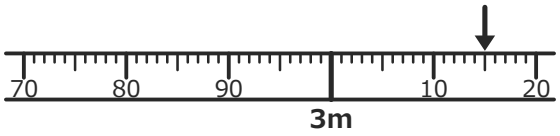

＿＿＿ m ＿＿＿ cm

4　家から 病院までの
道のりは、きょりより 何m 長い？

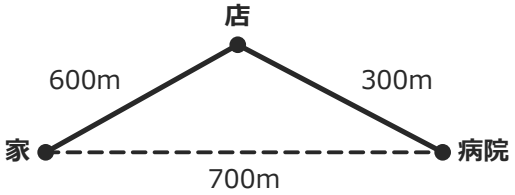

＿＿＿＿ m

5　やじるしが さす 目もりは、
何cmですか。

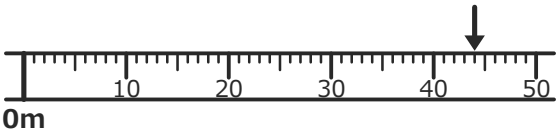

＿＿＿＿ cm

6　駅から 学校までの
道のりは、何km何mですか。

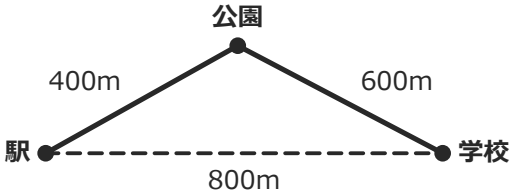

＿＿＿ km ＿＿＿＿ m

7　やじるしが さす 目もりは、
何m何cmですか。

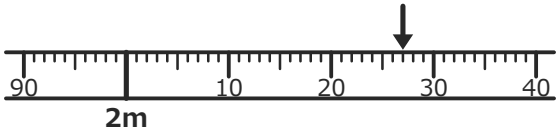

＿＿＿ m ＿＿＿ cm

8　家から 公園までの
きょりは、何mですか。

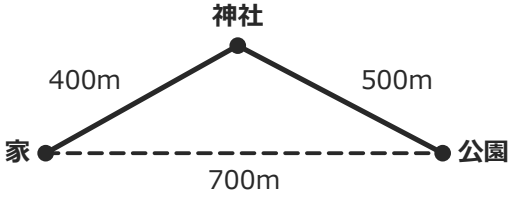

＿＿＿＿ m

いちごドリル プリント

つづきの無料プリント
「小3の長さ」のプリント一覧がひらきます

小3 長さ とっくんドリル②-3

まきじゃくの目もりと、道のりときょり　全8問

なまえ ＿＿＿＿＿＿＿＿

ひづけ ＿＿＿＿＿＿＿＿

下線には数だけ書く（たんいは書いてある）。まきじゃくは、やじるしがさす目もりを読む

1　やじるしが さす 目もりは、
何m何cmですか。

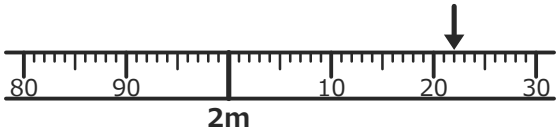

＿＿＿ m ＿＿＿ cm

2　学校から 家までの
道のりは、きょりより 何m 長い？

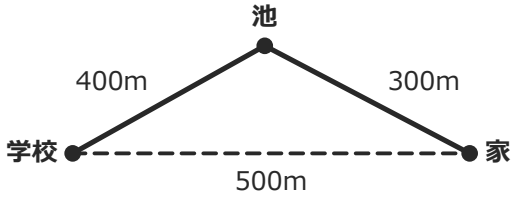

＿＿＿＿＿ m

3　やじるしが さす 目もりは、
何m何cmですか。

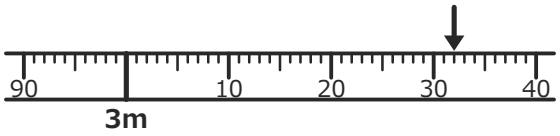

＿＿＿ m ＿＿＿ cm

4　家から 駅までの
道のりは、何km何mですか。

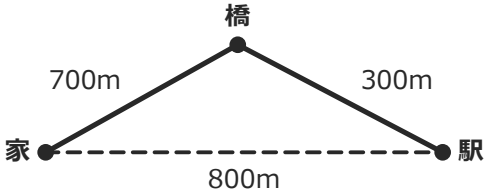

＿＿＿ km ＿＿＿＿＿ m

5　やじるしが さす 目もりは、
何m何cmですか。

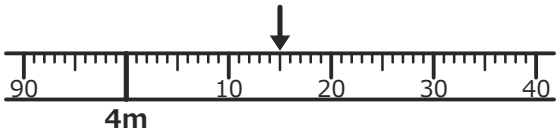

＿＿＿ m ＿＿＿ cm

6　公園から 家までの
きょりは、何mですか。

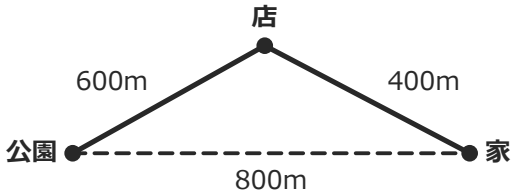

＿＿＿＿＿ m

7　やじるしが さす 目もりは、
何cmですか。

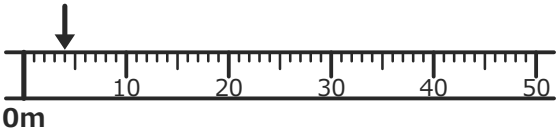

＿＿＿＿＿ cm

8　家から 学校までの
道のりは、きょりより 何m 長い？

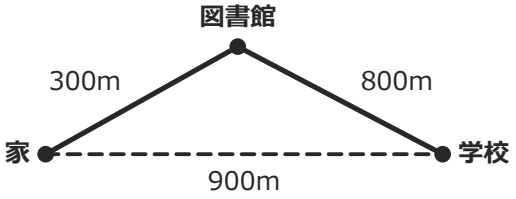

＿＿＿＿＿ m

いちごドリル プリント

つづきの無料プリント
「小3の長さ」のプリント一覧がひらきます

小3 長さ とっくんドリル②-4

まきじゃくの目もりと、道のりときょり　全8問

なまえ ＿＿＿＿＿＿＿＿

ひづけ ＿＿＿＿＿＿＿＿

下線には数だけ書く（たんいは書いてある）。まきじゃくは、やじるしがさす目もりを読む

1　やじるしが さす 目もりは、
何cmですか。

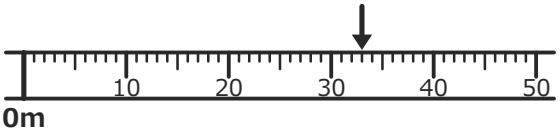

＿＿＿＿ cm

2　家から 学校までの
道のりは、何km何mですか。

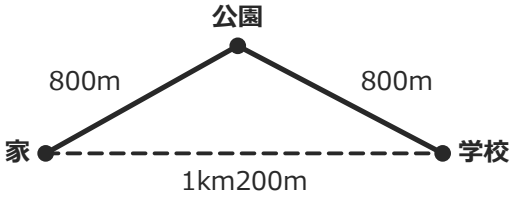

＿＿＿＿ km ＿＿＿＿ m

3　やじるしが さす 目もりは、
何m何cmですか。

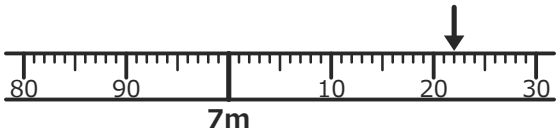

＿＿＿＿ m ＿＿＿＿ cm

4　家から 駅までの
きょりは、何mですか。

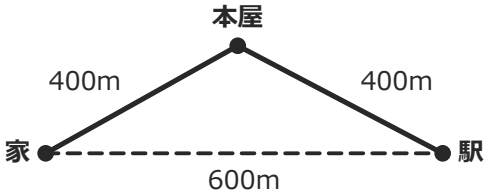

＿＿＿＿ m

5　やじるしが さす 目もりは、
何m何cmですか。

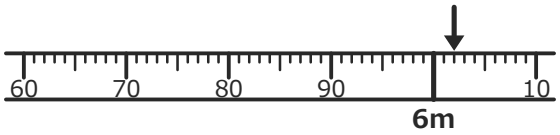

＿＿＿＿ m ＿＿＿＿ cm

6　学校から 図書館までの
道のりは、きょりより 何m 長い？

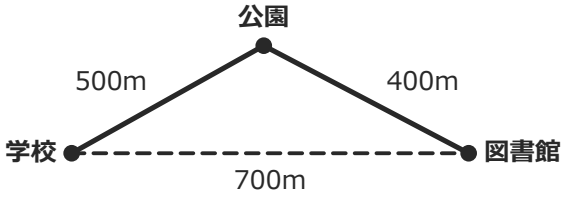

＿＿＿＿ m

7　やじるしが さす 目もりは、
何m何cmですか。

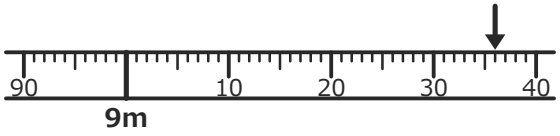

＿＿＿＿ m ＿＿＿＿ cm

8　家から 病院までの
道のりは、何mですか。

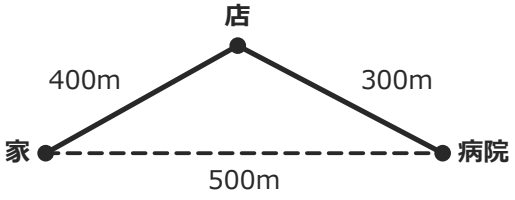

＿＿＿＿ m

いちごドリル プリント

つづきの無料プリント
「小3の長さ」のプリント一覧がひらきます

小3 長さ とっくんドリル②-5

まきじゃくの目もりと、道のりときょり　全8問

なまえ ＿＿＿＿＿＿＿＿

ひづけ ＿＿＿＿＿＿＿＿

下線には数だけ書く（たんいは書いてある）。まきじゃくは、やじるしがさす目もりを読む

1　やじるしが さす 目もりは、
何m何cmですか。

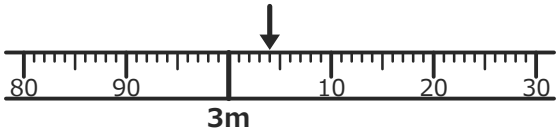

＿＿＿ m ＿＿＿ cm

2　駅から 学校までの
きょりは、何mですか。

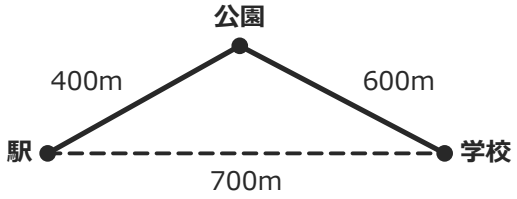

＿＿＿＿＿ m

3　やじるしが さす 目もりは、
何cmですか。

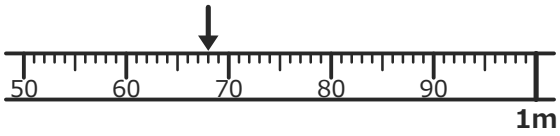

＿＿＿＿＿ cm

4　家から 公園までの
道のりは、きょりより 何m 長い？

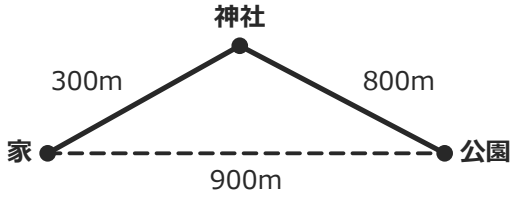

＿＿＿＿＿ m

5　やじるしが さす 目もりは、
何m何cmですか。

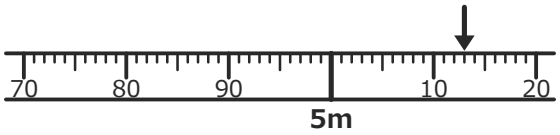

＿＿＿ m ＿＿＿ cm

6　学校から 家までの
道のりは、何km何mですか。

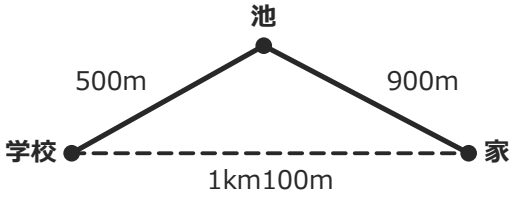

＿＿＿ km ＿＿＿＿＿ m

7　やじるしが さす 目もりは、
何m何cmですか。

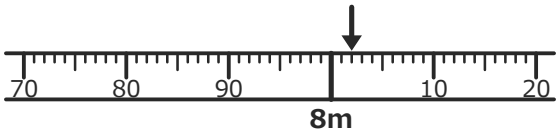

＿＿＿ m ＿＿＿ cm

8　家から 駅までの
きょりは、何mですか。

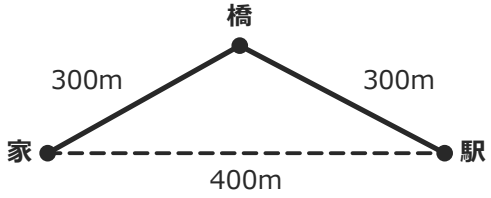

＿＿＿＿＿ m

いちごドリル プリント

つづきの無料プリント
「小3の長さ」のプリント一覧がひらきます

小3 長さ とっくんドリル③-1

長さのたし算とひき算　全12問

なまえ ＿＿＿＿＿＿＿＿

ひづけ ＿＿＿＿＿＿＿＿

下線には数だけ書く（たんいは書いてある）。kmの前の下線とmの前の下線に分けて書く

1　1km750m + 500m =

＿＿＿ km ＿＿＿＿＿ m

2　5km − 250m =

＿＿＿ km ＿＿＿＿＿ m

3　2km600m + 2km550m =

＿＿＿ km ＿＿＿＿＿ m

4　4km − 200m =

＿＿＿ km ＿＿＿＿＿ m

5　4km850m + 550m =

＿＿＿ km ＿＿＿＿＿ m

6　4km250m − 1km950m =

＿＿＿ km ＿＿＿＿＿ m

7　900m + 3km250m =

＿＿＿ km ＿＿＿＿＿ m

8　6km350m − 650m =

＿＿＿ km ＿＿＿＿＿ m

9　3km850m + 3km600m =

＿＿＿ km ＿＿＿＿＿ m

10　6km200m − 1km650m =

＿＿＿ km ＿＿＿＿＿ m

11　3km400m + 950m =

＿＿＿ km ＿＿＿＿＿ m

12　2km250m − 700m =

＿＿＿ km ＿＿＿＿＿ m

いちごドリル プリント

つづきの無料プリント
「小3の長さ」のプリント一覧がひらきます

小3 長さ とっくんドリル③-2

長さのたし算とひき算　全12問

なまえ ＿＿＿＿＿＿＿＿

ひづけ ＿＿＿＿＿＿＿＿

下線には数だけ書く（たんいは書いてある）。kmの前の下線とmの前の下線に分けて書く

1　3km450m + 800m =

＿＿＿ km ＿＿＿＿＿ m

2　9km50m − 100m =

＿＿＿ km ＿＿＿＿＿ m

3　1km350m + 3km750m =

＿＿＿ km ＿＿＿＿＿ m

4　8km − 500m =

＿＿＿ km ＿＿＿＿＿ m

5　1km450m + 800m =

＿＿＿ km ＿＿＿＿＿ m

6　6km100m − 2km950m =

＿＿＿ km ＿＿＿＿＿ m

7　700m + 4km450m =

＿＿＿ km ＿＿＿＿＿ m

8　6km150m − 850m =

＿＿＿ km ＿＿＿＿＿ m

9　2km350m + 3km750m =

＿＿＿ km ＿＿＿＿＿ m

10　6km300m − 1km950m =

＿＿＿ km ＿＿＿＿＿ m

11　4km850m + 500m =

＿＿＿ km ＿＿＿＿＿ m

12　3km300m − 700m =

＿＿＿ km ＿＿＿＿＿ m

いちごドリル プリント

つづきの無料プリント
「小3の長さ」のプリント一覧がひらきます

小3 長さ とっくんドリル③-3

長さのたし算とひき算　全12問

なまえ ＿＿＿＿＿＿＿＿

ひづけ ＿＿＿＿＿＿＿＿

下線には数だけ書く（たんいは書いてある）。kmの前の下線とmの前の下線に分けて書く

1　4km800m + 650m =

＿＿＿ km ＿＿＿＿＿ m

2　2km200m − 800m =

＿＿＿ km ＿＿＿＿＿ m

3　750m + 3km450m =

＿＿＿ km ＿＿＿＿＿ m

4　3km − 200m =

＿＿＿ km ＿＿＿＿＿ m

5　4km800m + 900m =

＿＿＿ km ＿＿＿＿＿ m

6　5km100m − 1km350m =

＿＿＿ km ＿＿＿＿＿ m

7　800m + 1km850m =

＿＿＿ km ＿＿＿＿＿ m

8　9km200m − 950m =

＿＿＿ km ＿＿＿＿＿ m

9　950m + 4km550m =

＿＿＿ km ＿＿＿＿＿ m

10　9km600m − 5km800m =

＿＿＿ km ＿＿＿＿＿ m

11　3km450m + 650m =

＿＿＿ km ＿＿＿＿＿ m

12　8km − 100m =

＿＿＿ km ＿＿＿＿＿ m

いちごドリル プリント

つづきの無料プリント
「小3の長さ」のプリント一覧がひらきます

小3 長さ とっくんドリル③-4

長さのたし算とひき算　全12問

なまえ ＿＿＿＿＿＿＿＿

ひづけ ＿＿＿＿＿＿＿＿

下線には数だけ書く（たんいは書いてある）。kmの前の下線とmの前の下線に分けて書く

1　3km900m + 500m =

＿＿＿ km ＿＿＿＿＿ m

2　4km150m − 550m =

＿＿＿ km ＿＿＿＿＿ m

3　3km550m + 4km900m =

＿＿＿ km ＿＿＿＿＿ m

4　7km − 950m =

＿＿＿ km ＿＿＿＿＿ m

5　4km450m + 800m =

＿＿＿ km ＿＿＿＿＿ m

6　9km150m − 3km350m =

＿＿＿ km ＿＿＿＿＿ m

7　900m + 2km750m =

＿＿＿ km ＿＿＿＿＿ m

8　6km450m − 700m =

＿＿＿ km ＿＿＿＿＿ m

9　3km950m + 2km350m =

＿＿＿ km ＿＿＿＿＿ m

10　9km300m − 2km800m =

＿＿＿ km ＿＿＿＿＿ m

11　2km250m + 800m =

＿＿＿ km ＿＿＿＿＿ m

12　3km600m − 800m =

＿＿＿ km ＿＿＿＿＿ m

いちごドリル プリント

つづきの無料プリント
「小3の長さ」のプリント一覧がひらきます

小3 長さ とっくんドリル③-5

長さのたし算とひき算　全12問

なまえ ＿＿＿＿＿＿＿＿

ひづけ ＿＿＿＿＿＿＿＿

下線には数だけ書く（たんいは書いてある）。kmの前の下線とmの前の下線に分けて書く

1　2km350m + 950m =

＿＿＿ km ＿＿＿＿＿ m

2　4km100m − 350m =

＿＿＿ km ＿＿＿＿＿ m

3　2km650m + 1km850m =

＿＿＿ km ＿＿＿＿＿ m

4　2km − 800m =

＿＿＿ km ＿＿＿＿＿ m

5　1km650m + 500m =

＿＿＿ km ＿＿＿＿＿ m

6　8km250m − 3km400m =

＿＿＿ km ＿＿＿＿＿ m

7　700m + 4km400m =

＿＿＿ km ＿＿＿＿＿ m

8　2km50m − 450m =

＿＿＿ km ＿＿＿＿＿ m

9　2km700m + 1km550m =

＿＿＿ km ＿＿＿＿＿ m

10　8km500m − 2km650m =

＿＿＿ km ＿＿＿＿＿ m

11　1km700m + 950m =

＿＿＿ km ＿＿＿＿＿ m

12　6km700m − 950m =

＿＿＿ km ＿＿＿＿＿ m

いちごドリル プリント

つづきの無料プリント
「小3の長さ」のプリント一覧がひらきます

小3 長さ そうごうテスト（その2）

全12問　100点

なまえ ＿＿＿＿＿＿＿＿

ひづけ ＿＿＿＿＿＿　/100

下線には数だけ書く（たんいは書いてある）。「たんいは どれかな？」の問題は、たんいを○でかこむ

8点

1 家から 学校までの
道のりは、何km何mですか。

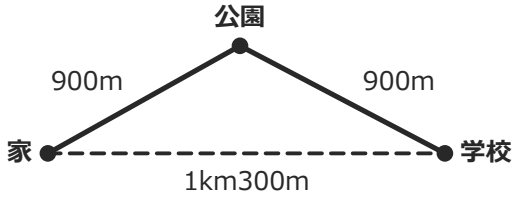

＿＿＿ km ＿＿＿＿ m

8点

2 やじるしが さす 目もりは、
何m何cmですか。

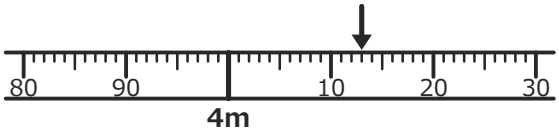

＿＿＿ m ＿＿＿ cm

8点

3 3km850m + 2km450m =

＿＿＿ km ＿＿＿＿ m

8点

4 7km90mは、
何mですか。

＿＿＿＿ m

8点

5 7km400m − 4km700m =

＿＿＿ km ＿＿＿＿ m

8点

6 水とうの 高さは 25（　）。
たんいは どれかな？

km　　cm　　m

8点

7 やじるしが さす 目もりは、
何m何cmですか。

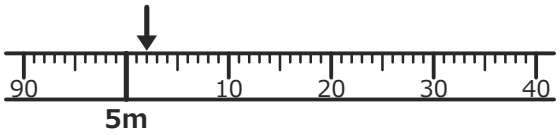

＿＿＿ m ＿＿＿ cm

8点

8 家から 駅までの
きょりは、何mですか。

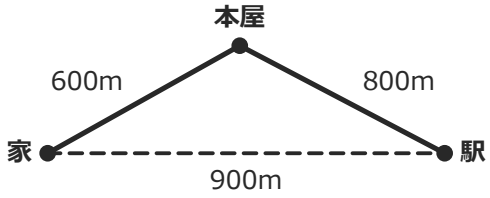

＿＿＿＿ m

9点

9 9km550m − 850m =

＿＿＿ km ＿＿＿＿ m

9点

10 3km450m + 900m =

＿＿＿ km ＿＿＿＿ m

9点

11 プールの たての 長さは
25（　）。たんいは どれかな？

m　　km　　cm

9点

12 3025mは、
何km何mですか。

＿＿＿ km ＿＿＿ m

いちごドリル プリント

つづきの無料プリント
「小3の長さ」のプリント一覧がひらきます

小3 長さ そうごうテスト（その3）

全12問　100点

なまえ ＿＿＿＿＿＿＿＿

ひづけ ＿＿＿＿＿＿　/100

下線には数だけ書く（たんいは書いてある）。「たんいは どれかな？」の問題は、たんいを○でかこむ

8点

1 7km350m − 1km600m ＝

＿＿＿ km ＿＿＿＿＿ m

8点

2 9km1mは、
何mですか。

＿＿＿＿＿ m

8点

3 やじるしが さす 目もりは、
何m何cmですか。

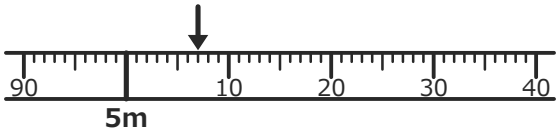

＿＿＿ m ＿＿＿ cm

8点

4 学校から 図書館までの
道のりは、何km何mですか。

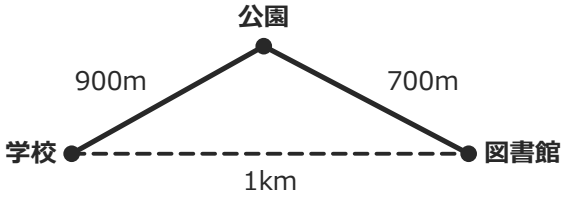

＿＿＿ km ＿＿＿＿＿ m

8点

5 新かんせんで 行った 道のりは
250（　）。たんいは どれかな？

m　　**cm**　　**km**

8点

6 3km600m ＋ 3km500m ＝

＿＿＿ km ＿＿＿＿＿ m

8点

7 9km − 700m ＝

＿＿＿ km ＿＿＿＿＿ m

8点

8 スプーンの 長さは 15（　）。
たんいは どれかな？

m　　**km**　　**cm**

9点

9 8004mは、
何km何mですか。

＿＿＿ km ＿＿＿ m

9点

10 3km900m ＋ 700m ＝

＿＿＿ km ＿＿＿＿＿ m

9点

11 やじるしが さす 目もりは、
何m何cmですか。

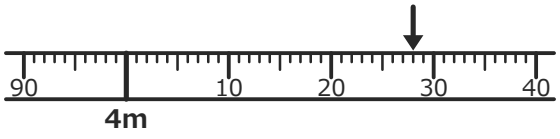

＿＿＿ m ＿＿＿ cm

9点

12 家から 病院までの
きょりは、何mですか。

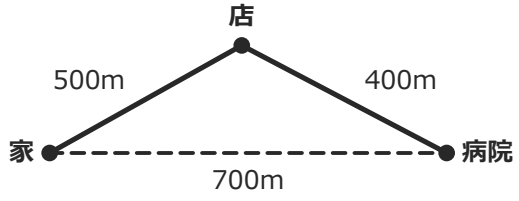

＿＿＿＿＿ m

いちごドリル プリント

つづきの無料プリント
「小3の長さ」のプリント一覧がひらきます

小3 長さ そうごうテスト（その4）

全12問　100点

なまえ ＿＿＿＿＿＿＿＿

ひづけ ＿＿＿＿＿＿　/100

下線には数だけ書く（たんいは書いてある）。「たんいは どれかな？」の問題は、たんいを○でかこむ

8点

1 やじるしが さす 目もりは、
何m何cmですか。

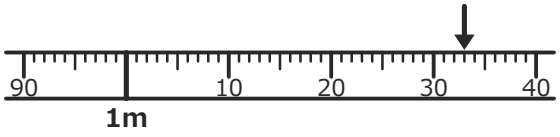

＿＿＿ m ＿＿＿ cm

8点

2 駅から 学校までの
道のりは、何km何mですか。

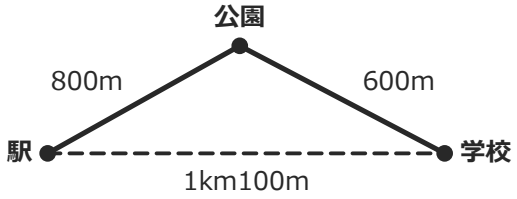

＿＿＿ km ＿＿＿＿ m

8点

3 校しゃの 高さは 15（　）。
たんいは どれかな？

cm　　m　　km

8点

4 6km700m − 3km800m ＝

＿＿＿ km ＿＿＿＿ m

8点

5 6km54mは、
何mですか。

＿＿＿＿ m

8点

6 2km950m ＋ 1km250m ＝

＿＿＿ km ＿＿＿＿ m

8点

7 となりの 町までの 道のりは
10（　）。たんいは どれかな？

km　　cm　　m

8点

8 5km400m − 550m ＝

＿＿＿ km ＿＿＿＿ m

9点

9 2km900m ＋ 850m ＝

＿＿＿ km ＿＿＿＿ m

9点

10 5086mは、
何km何mですか。

＿＿＿ km ＿＿＿ m

9点

11 家から 公園までの
きょりは、何mですか。

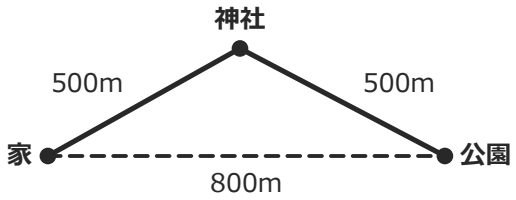

＿＿＿＿ m

9点

12 やじるしが さす 目もりは、
何m何cmですか。

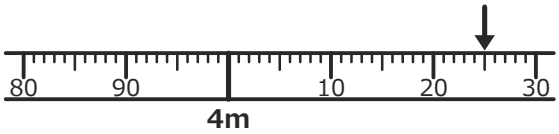

＿＿＿ m ＿＿＿ cm

いちごドリル プリント

つづきの無料プリント
「小3の長さ」のプリント一覧がひらきます

小3 長さ そうごうテスト（その5）

全12問　100点

なまえ ＿＿＿＿＿＿＿＿

ひづけ ＿＿＿＿＿＿　/100

下線には数だけ書く（たんいは書いてある）。「たんいは どれかな？」の問題は、たんいを○でかこむ

8点

1 学校から 家までの
道のりは、何km何mですか。

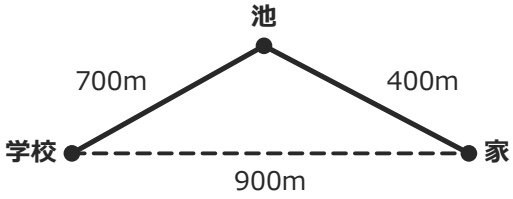

＿＿＿ km ＿＿＿＿ m

8点

2 やじるしが さす 目もりは、
何m何cmですか。

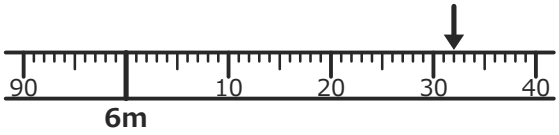

＿＿＿ m ＿＿＿ cm

8点

3 9km50m − 3km300m ＝

＿＿＿ km ＿＿＿＿ m

8点

4 くつの 長さは 20（　）。
たんいは どれかな？

km　　**cm**　　**m**

8点

5 850m ＋ 3km600m ＝

＿＿＿ km ＿＿＿＿ m

8点

6 6km7mは、
何mですか。

＿＿＿＿ m

8点

7 3km650m − 750m ＝

＿＿＿ km ＿＿＿＿ m

8点

8 2km650m ＋ 900m ＝

＿＿＿ km ＿＿＿＿ m

9点

9 やじるしが さす 目もりは、
何m何cmですか。

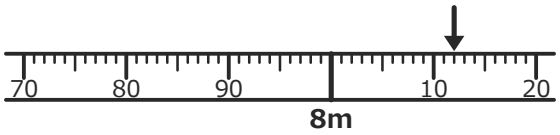

＿＿＿ m ＿＿＿ cm

9点

10 家から 駅までの
きょりは、何km何mですか。

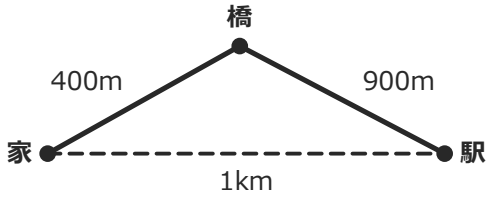

＿＿＿ km ＿＿＿＿ m

9点

11 8001mは、
何km何mですか。

＿＿＿ km ＿＿＿ m

9点

12 大きな 木の 高さは 9（　）。
たんいは どれかな？

m　　**cm**　　**km**

いちごドリル プリント

つづきの無料プリント
「小3の長さ」のプリント一覧がひらきます

小3 長さ そうごうテスト（その1）【こたえ】

なまえ ＿＿＿＿＿＿＿＿

全12問　100点

ひづけ ＿＿＿＿＿＿　/100

つまずき①　kmとmのなおし方

2問とも×→つまずき　1問だけ×→うっかりかも

問1 2050m

2km50mは何m

よくある×：250m

2km＝2000m

2000＋50＝2050m

問8 4km70m

4070mは何km何m

よくある×：4km700m

4000m＝4km

のこり70m

→ 4km70m

つまずき：mのけたを見ずに、0を入れない・入れすぎる

まちがえたら→「練習プリント①」→「とっくんドリル①」

問1の考え方：1km＝1000m

2000m＋50m＝2050m

つまずき②　まきじゃくの目もりの読み方

2問とも×→つまずき　1問だけ×→うっかりかも

問3 1m14cm

まきじゃくの目もり

よくある×：14cm

1目もり1cm

1mと14cm

→ 1m14cm

問10 3m23cm

まきじゃくの目もり

よくある×：23cm

1目もり1cm

3mと23cm

→ 3m23cm

つまずき：1mをこえたあとの数字を、そのままcmと読み、mを入れない

まちがえたら→「練習プリント②」→「とっくんドリル②」

問3の考え方：1目もりは1cm

1mの目もりから14目もりで1m14cm

つまずき③　道のりときょりのちがい

2問とも×→つまずき　1問だけ×→うっかりかも

問4 1km400m

家から学校までの道のり

よくある×：1km100m

道にそった長さ

600＋800＝1400m

→ 1km400m

問9 900m

家から駅までのきょり

よくある×：1km200m

まっすぐはかった長さ

→ 900m

つまずき：道にそってはかった長さ（道のり）と、まっすぐはかった長さ（きょり）を取りちがえる

まちがえたら→「練習プリント③」→「とっくんドリル②」

問4の考え方：道のりは道にそった長さ

600m＋800m＝1400m＝1km400m

つまずき④　長さのたし算のくり上がり

2問とも×→つまずき　1問だけ×→うっかりかも

問2 2km300m

1km600m＋700m

よくある×：1km1300m

600＋700＝1300m

＝1km300m

→ 2km300m

問12 4km200m

2km450m＋1km750m

よくある×：3km1200m

450＋750＝1200m

＝1km200m

→ 4km200m

つまずき：mが1000をこえても、1kmにくり上げない

まちがえたら→「練習プリント④」→「とっくんドリル③」

問2の考え方：600m＋700m＝1km300m

1＋1＝2km

つまずき⑤　長さのたんいえらび

2問とも×→つまずき　1問だけ×→うっかりかも

問6 cm

えんぴつの 長さは17（　）

よくある×：m

えんぴつは

17cmくらい

問7 km

1時間 歩いた

道のりは4（　）

よくある×：m

1時間で

4kmくらい

つまずき：長さの見当をつけずに、たんいをえらぶ

まちがえたら→「練習プリント⑤」→「とっくんドリル①」

問6の考え方：えんぴつは、cmで表す

つまずき⑥　長さのひき算のくり下がり

2問とも×→つまずき　1問だけ×→うっかりかも

問5 1km600m

3km200m−1km600m

よくある×：2km400m

3km200m＝2km1200m

1200−600＝600m

→ 1km600m

問11 4km500m

5km100m−600m

よくある×：5km500m

5km100m＝4km1100m

1100−600＝500m

→ 4km500m

つまずき：mがひけないとき、大きい方から小さい方をひく

まちがえたら→「練習プリント⑥」→「とっくんドリル③」

問5の考え方：1kmを1000mにする

1200m−600m＝600m

2km−1km＝1km

小3 長さ とっくんドリル①-1【こたえ】

kmとmのなおし方と、長さのたんいえらび　全12問

なまえ ＿＿＿＿＿＿＿＿

ひづけ ＿＿＿＿＿＿＿＿

×があったら「とっくんドリル①-2」へ、ぜんぶ○なら、まだやっていない「そうごうテスト（その2～5）」へ

1 1kmは、
何mですか。

1000 m

→ よくある×：100m

考え方：1km＝1000m

2 7000mは、
何kmですか。

7 km

→ よくある×：70km

考え方：1000m＝1km、7000m＝7km

3 1km80mは、
何mですか。

1080 m

→ よくある×：180m

考え方：1km＝1000m、1000＋80＝1080m

4 5020mは、
何km何mですか。

5 km 20 m

→ よくある×：5km200m

考え方：5000m＝5km、のこり20m

5 8km950mは、
何mですか。

8950 m

→ よくある×：80950m

考え方：8km＝8000m、8000＋950＝8950m

6 6967mは、
何km何mですか。

6 km 967 m

→ よくある×：69km67m

考え方：6000m＝6km、のこり967m

7 3km4mは、
何mですか。

3004 m

→ よくある×：34m

考え方：3km＝3000m、3000＋4＝3004m

8 7003mは、
何km何mですか。

7 km 3 m

→ よくある×：7km30m

考え方：7000m＝7km、のこり3m

9 車で 1時間に 走る 道のりは
50（　）。たんいは どれかな？

m　　**cm**　　**km**

→ よくある×：m

考え方：50kmくらいの長さ

10 あり1ぴきの 大きさは 4（　）。
たんいは どれかな？

cm　　**km**　　**m**　　**mm**

→ よくある×：cm

考え方：4mmくらいの長さ

11 けしゴムの 長さは 5（　）。
たんいは どれかな？

km　　**m**　　**cm**

→ よくある×：m

考え方：5cmくらいの長さ

12 電柱の 高さは 10（　）。
たんいは どれかな？

cm　　**m**　　**km**

→ よくある×：cm

考え方：10mくらいの長さ

小3 長さ とっくんドリル①-2【こたえ】

kmとmのなおし方と、長さのたんいえらび　全12問

なまえ ＿＿＿＿＿＿＿＿

ひづけ ＿＿＿＿＿＿＿＿

×があったら「とっくんドリル①-3」へ、ぜんぶ○なら、まだやっていない「そうごうテスト（その2～5）」へ

1 6kmは、
何mですか。

6000 m

→ よくある×：600m

考え方：1km＝1000m、6km＝6000m

2 2000mは、
何kmですか。

2 km

→ よくある×：20km

考え方：1000m＝1km、2000m＝2km

3 3km498mは、
何mですか。

3498 m

→ よくある×：30498m

考え方：3km＝3000m、3000＋498＝3498m

4 1901mは、
何km何mですか。

1 km 901 m

→ よくある×：19km01m

考え方：1000m＝1km、のこり901m

5 2km45mは、
何mですか。

2045 m

→ よくある×：245m

考え方：2km＝2000m、2000＋45＝2045m

6 9095mは、
何km何mですか。

9 km 95 m

→ よくある×：9km950m

考え方：9000m＝9km、のこり95m

7 4km7mは、
何mですか。

4007 m

→ よくある×：47m

考え方：4km＝4000m、4000＋7＝4007m

8 9005mは、
何km何mですか。

9 km 5 m

→ よくある×：9km50m

考え方：9000m＝9km、のこり5m

9 バスで 行った 道のりは 7（　）。
たんいは どれかな？

km　　cm　　m

→ よくある×：m

考え方：7kmくらいの長さ

10 10円玉の あつさは 1（　）。
たんいは どれかな？

cm　**mm**　m　km

→ よくある×：cm

考え方：1mmくらいの長さ

11 ペットボトルの 高さは 20（　）。
たんいは どれかな？

km　**cm**　m

→ よくある×：m

考え方：20cmくらいの長さ

12 バスの 長さは 12（　）。
たんいは どれかな？

m　cm　km

→ よくある×：cm

考え方：12mくらいの長さ

小3 長さ とっくんドリル①-3【こたえ】

kmとmのなおし方と、長さのたんいえらび　全12問

なまえ ＿＿＿＿＿＿＿＿

ひづけ ＿＿＿＿＿＿＿＿

×があったら「とっくんドリル①-4」へ、ぜんぶ○なら、まだやっていない「そうごうテスト（その2～5）」へ

1 4kmは、
何mですか。

4000 m

→ よくある×：400m

考え方：1km＝1000m、4km＝4000m

2 5000mは、
何kmですか。

5 km

→ よくある×：50km

考え方：1000m＝1km、5000m＝5km

3 4km59mは、
何mですか。

4059 m

→ よくある×：459m

考え方：4km＝4000m、4000＋59＝4059m

4 7058mは、
何km何mですか。

7 km 58 m

→ よくある×：7km580m

考え方：7000m＝7km、のこり58m

5 2km226mは、
何mですか。

2226 m

→ よくある×：20226m

考え方：2km＝2000m、2000＋226＝2226m

6 2700mは、
何km何mですか。

2 km 700 m

→ よくある×：27km00m

考え方：2000m＝2km、のこり700m

7 1km7mは、
何mですか。

1007 m

→ よくある×：17m

考え方：1km＝1000m、1000＋7＝1007m

8 4007mは、
何km何mですか。

4 km 7 m

→ よくある×：4km70m

考え方：4000m＝4km、のこり7m

9 山のぼりで 歩いた 道のりは
5（　）。たんいは どれかな？

cm　　m　　(km)

→ よくある×：m

考え方：5kmくらいの長さ

10 お米1つぶの 長さは 7（　）。
たんいは どれかな？

cm　　m　　(mm)　　km

→ よくある×：cm

考え方：7mmくらいの長さ

11 ふでばこの 長さは 21（　）。
たんいは どれかな？

km　　m　　(cm)

→ よくある×：m

考え方：21cmくらいの長さ

12 電車 1りょうの 長さは
20（　）。たんいは どれかな？

cm　　(m)　　km

→ よくある×：cm

考え方：20mくらいの長さ

小3 長さ とっくんドリル①-4【こたえ】

kmとmのなおし方と、長さのたんいえらび　全12問

なまえ ＿＿＿＿＿＿＿＿

ひづけ ＿＿＿＿＿＿＿＿

×があったら「とっくんドリル①-5」へ、ぜんぶ○なら、まだやっていない「そうごうテスト（その2～5）」へ

1 8kmは、
何mですか。

8000 m

→ よくある×：800m

考え方：1km＝1000m、8km＝8000m

2 1000mは、
何kmですか。

1 km

→ よくある×：10km

考え方：1000m＝1km

3 8km644mは、
何mですか。

8644 m

→ よくある×：80644m

考え方：8km＝8000m、8000＋644＝8644m

4 7254mは、
何km何mですか。

7 km 254 m

→ よくある×：72km54m

考え方：7000m＝7km、のこり254m

5 5km66mは、
何mですか。

5066 m

→ よくある×：566m

考え方：5km＝5000m、5000＋66＝5066m

6 9012mは、
何km何mですか。

9 km 12 m

→ よくある×：9km120m

考え方：9000m＝9km、のこり12m

7 4km2mは、
何mですか。

4002 m

→ よくある×：42m

考え方：4km＝4000m、4000＋2＝4002m

8 1003mは、
何km何mですか。

1 km 3 m

→ よくある×：1km30m

考え方：1000m＝1km、のこり3m

9 自転車で 走った 道のりは
15（　）。たんいは どれかな？

km　　cm　　m

→ よくある×：m

考え方：15kmくらいの長さ

10 えんぴつの しんの ふとさは
2（　）。たんいは どれかな？

mm　km　m　cm

→ よくある×：cm

考え方：2mmくらいの長さ

11 手のひらの 長さは 14（　）。
たんいは どれかな？

m　　**cm**　　km

→ よくある×：m

考え方：14cmくらいの長さ

12 たいいくかんの よこの 長さは
30（　）。たんいは どれかな？

m　　km　　cm

→ よくある×：cm

考え方：30mくらいの長さ

小3 長さ とっくんドリル①-5【こたえ】

kmとmのなおし方と、長さのたんいえらび　全12問

なまえ ＿＿＿＿＿＿＿＿

ひづけ ＿＿＿＿＿＿＿＿

×があったら「①-1」からもう一度、ぜんぶ○なら、まだやっていない「そうごうテスト（その2〜5）」へ

1 7kmは、
何mですか。

7000 m

→ よくある×：700m

考え方：1km＝1000m、7km＝7000m

2 8000mは、
何kmですか。

8 km

→ よくある×：80km

考え方：1000m＝1km、8000m＝8km

3 9km72mは、
何mですか。

9072 m

→ よくある×：972m

考え方：9km＝9000m、9000＋72＝9072m

4 4011mは、
何km何mですか。

4 km 11 m

→ よくある×：4km110m

考え方：4000m＝4km、のこり11m

5 7km988mは、
何mですか。

7988 m

→ よくある×：70988m

考え方：7km＝7000m、7000＋988＝7988m

6 3999mは、
何km何mですか。

3 km 999 m

→ よくある×：39km99m

考え方：3000m＝3km、のこり999m

7 2km3mは、
何mですか。

2003 m

→ よくある×：23m

考え方：2km＝2000m、2000＋3＝2003m

8 3006mは、
何km何mですか。

3 km 6 m

→ よくある×：3km60m

考え方：3000m＝3km、のこり6m

9 となりの 市までの 道のりは
20（　）。たんいは どれかな？

cm　m　**km**

→ よくある×：m

考え方：20kmくらいの長さ

10 1円玉の はばは 20（　）。
たんいは どれかな？

cm　km　**mm**　m

→ よくある×：cm

考え方：20mmくらいの長さ

11 クレヨンの 長さは 8（　）。
たんいは どれかな？

km　m　**cm**

→ よくある×：m

考え方：8cmくらいの長さ

12 ドアの 高さは 2（　）。
たんいは どれかな？

cm　**m**　km

→ よくある×：cm

考え方：2mくらいの長さ

小3 長さ とっくんドリル②-1【こたえ】

まきじゃくの目もりと、道のりときょり　全8問

なまえ ＿＿＿＿＿＿＿＿

ひづけ ＿＿＿＿＿＿＿＿

×があったら「とっくんドリル②-2」へ、ぜんぶ○なら、まだやっていない「そうごうテスト（その2〜5）」へ

1　やじるしが さす 目もりは、何m何cmですか。

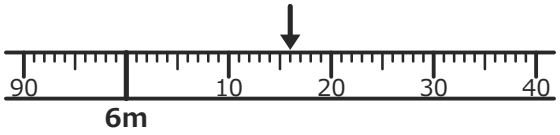

6 m 16 cm

→ よくある×：16cm

考え方：6mから16目もり（1目もり1cm）

2　公園から 家までの道のりは、何km何mですか。

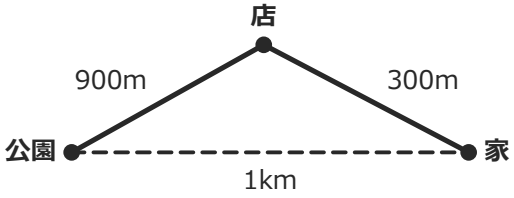

1 km 200 m

→ よくある×：1km

考え方：道にそった長さ：900＋300＝1200m

3　やじるしが さす 目もりは、何cmですか。

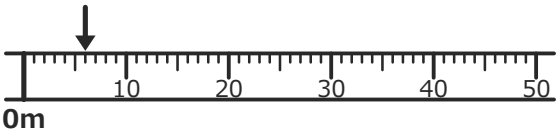

6 cm

→ よくある×：1m6cm

考え方：0から6目もり（1目もり1cm）

4　家から 学校までの きょりは、何km何mですか。

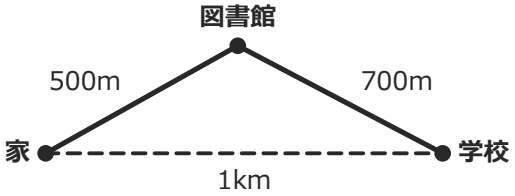

1 km 0 m

→ よくある×：1km200m

考え方：まっすぐはかった長さ（点線）

5　やじるしが さす 目もりは、何m何cmですか。

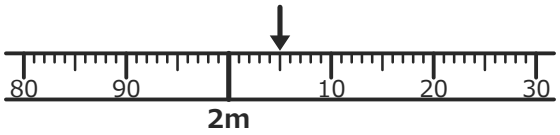

2 m 5 cm

→ よくある×：5cm

考え方：2mから5目もり（1目もり1cm）

6　家から 学校までの道のりは、きょりより 何m 長い？

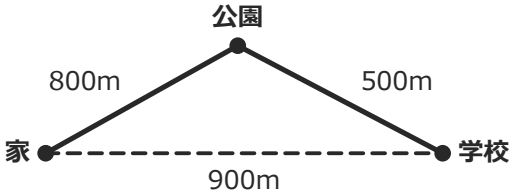

400 m

→ よくある×：1km300m

考え方：800＋500−900＝400m

7　やじるしが さす 目もりは、何m何cmですか。

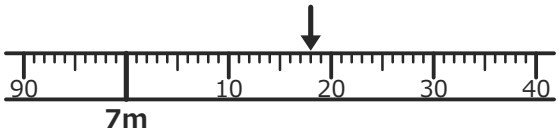

7 m 18 cm

→ よくある×：18cm

考え方：7mから18目もり（1目もり1cm）

8　家から 駅までの道のりは、何km何mですか。

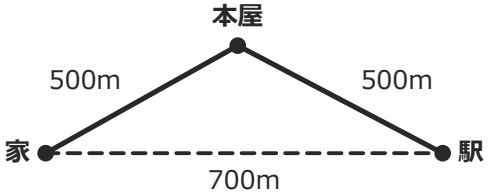

1 km 0 m

→ よくある×：700m

考え方：道にそった長さ：500＋500＝1000m

いちごドリル プリント

小3 長さ とっくんドリル②-2【こたえ】

まきじゃくの目もりと、道のりときょり　全8問

なまえ ＿＿＿＿＿＿＿＿

ひづけ ＿＿＿＿＿＿＿＿

×があったら「とっくんドリル②-3」へ、ぜんぶ○なら、まだやっていない「そうごうテスト（その2〜5）」へ

1　やじるしが さす 目もりは、何m何cmですか。

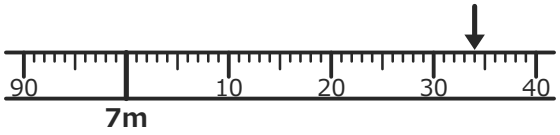

7 m 34 cm

→ よくある×：34cm

考え方：7mから34目もり（1目もり1cm）

2　学校から 図書館までの きょりは、何km何mですか。

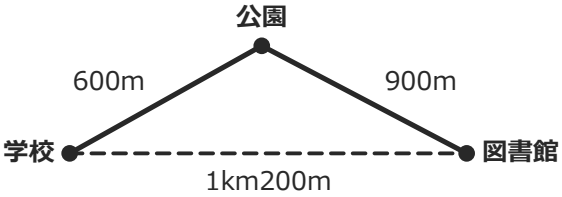

1 km 200 m

→ よくある×：1km500m

考え方：まっすぐはかった長さ（点線）

3　やじるしが さす 目もりは、何m何cmですか。

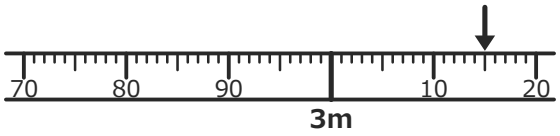

3 m 15 cm

→ よくある×：15cm

考え方：3mから15目もり（1目もり1cm）

4　家から 病院までの 道のりは、きょりより 何m 長い？

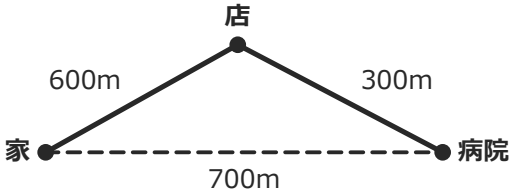

200 m

→ よくある×：900m

考え方：600＋300−700＝200m

5　やじるしが さす 目もりは、何cmですか。

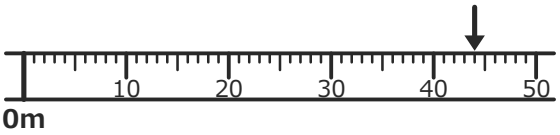

44 cm

→ よくある×：1m44cm

考え方：40から4目もり（1目もり1cm）

6　駅から 学校までの 道のりは、何km何mですか。

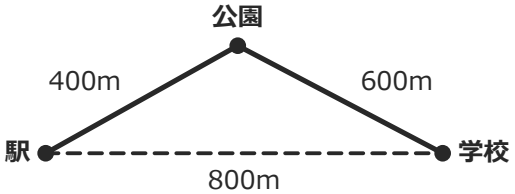

1 km 0 m

→ よくある×：800m

考え方：道にそった長さ：400＋600＝1000m

7　やじるしが さす 目もりは、何m何cmですか。

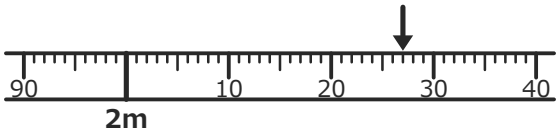

2 m 27 cm

→ よくある×：27cm

考え方：2mから27目もり（1目もり1cm）

8　家から 公園までの きょりは、何mですか。

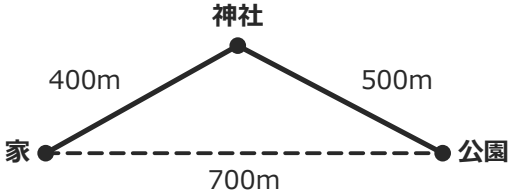

700 m

→ よくある×：900m

考え方：まっすぐはかった長さ（点線）

いちごドリル プリント

小3 長さ とっくんドリル②-3【こたえ】

まきじゃくの目もりと、道のりときょり　全8問

なまえ ＿＿＿＿＿＿＿＿

ひづけ ＿＿＿＿＿＿＿＿

×があったら「とっくんドリル②-4」へ、ぜんぶ○なら、まだやっていない「そうごうテスト（その2〜5）」へ

1　やじるしが さす 目もりは、何m何cmですか。

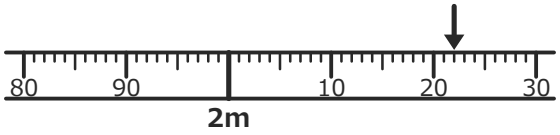

2 m 22 cm

→ よくある×：22cm

考え方：2mから22目もり（1目もり1cm）

2　学校から 家までの道のりは、きょりより 何m 長い？

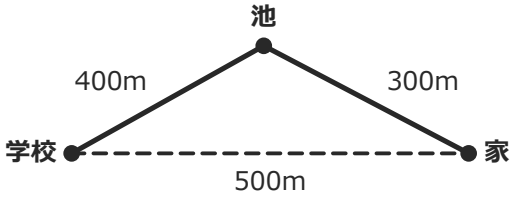

200 m

→ よくある×：700m

考え方：400＋300−500＝200m

3　やじるしが さす 目もりは、何m何cmですか。

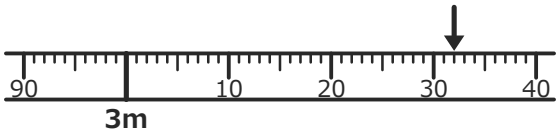

3 m 32 cm

→ よくある×：32cm

考え方：3mから32目もり（1目もり1cm）

4　家から 駅までの道のりは、何km何mですか。

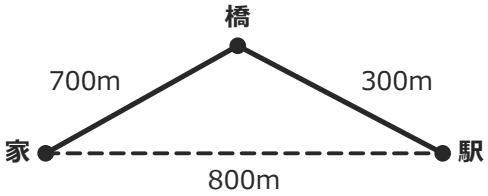

1 km 0 m

→ よくある×：800m

考え方：道にそった長さ：700＋300＝1000m

5　やじるしが さす 目もりは、何m何cmですか。

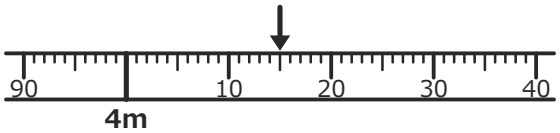

4 m 15 cm

→ よくある×：15cm

考え方：4mから15目もり（1目もり1cm）

6　公園から 家までのきょりは、何mですか。

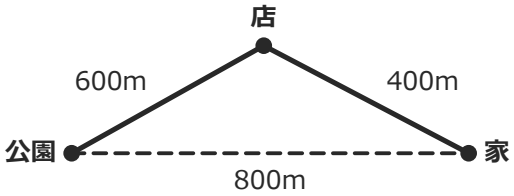

800 m

→ よくある×：1km

考え方：まっすぐはかった長さ（点線）

7　やじるしが さす 目もりは、何cmですか。

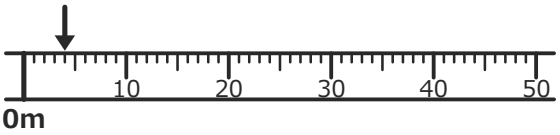

4 cm

→ よくある×：1m4cm

考え方：0から4目もり（1目もり1cm）

8　家から 学校までの道のりは、きょりより 何m 長い？

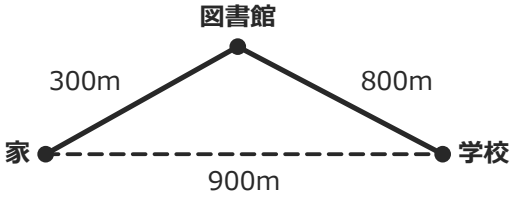

200 m

→ よくある×：1km100m

考え方：300＋800−900＝200m

いちごドリル プリント

小3 長さ とっくんドリル②-4【こたえ】

まきじゃくの目もりと、道のりときょり　全8問

なまえ ＿＿＿＿＿＿＿＿

ひづけ ＿＿＿＿＿＿＿＿

×があったら「とっくんドリル②-5」へ、ぜんぶ○なら、まだやっていない「そうごうテスト（その2〜5）」へ

1　やじるしが さす 目もりは、何cmですか。

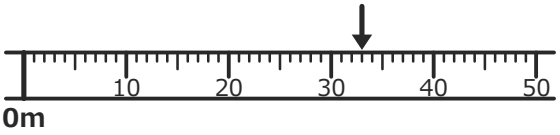

33 cm

→ よくある×：1m33cm

考え方：30から3目もり（1目もり1cm）

2　家から 学校までの道のりは、何km何mですか。

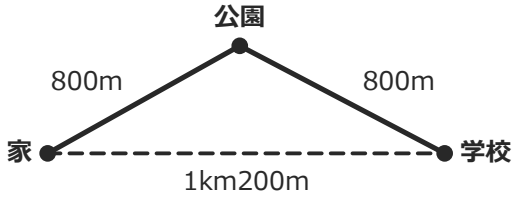

1 km 600 m

→ よくある×：1km200m

考え方：道にそった長さ：800＋800＝1600m

3　やじるしが さす 目もりは、何m何cmですか。

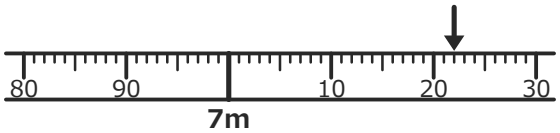

7 m 22 cm

→ よくある×：22cm

考え方：7mから22目もり（1目もり1cm）

4　家から 駅までのきょりは、何mですか。

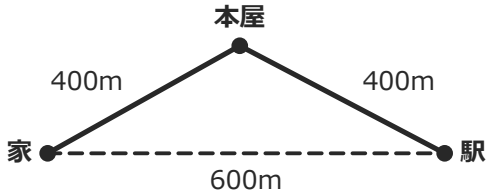

600 m

→ よくある×：800m

考え方：まっすぐはかった長さ（点線）

5　やじるしが さす 目もりは、何m何cmですか。

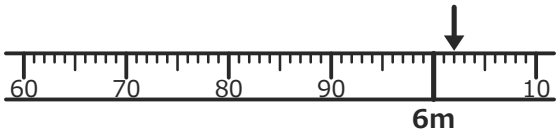

6 m 2 cm

→ よくある×：2cm

考え方：6mから2目もり（1目もり1cm）

6　学校から 図書館までの道のりは、きょりより 何m 長い？

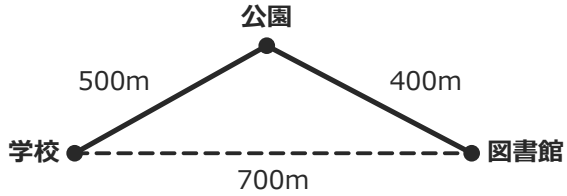

200 m

→ よくある×：900m

考え方：500＋400−700＝200m

7　やじるしが さす 目もりは、何m何cmですか。

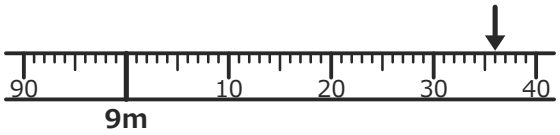

9 m 36 cm

→ よくある×：36cm

考え方：9mから36目もり（1目もり1cm）

8　家から 病院までの道のりは、何mですか。

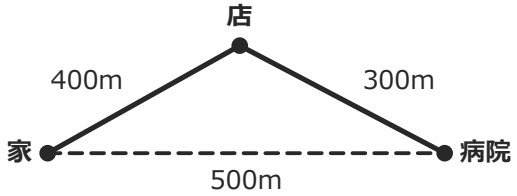

700 m

→ よくある×：500m

考え方：道にそった長さ：400＋300＝700m

いちごドリル プリント

小3 長さ とっくんドリル②-5【こたえ】

まきじゃくの目もりと、道のりときょり　全8問

なまえ ＿＿＿＿＿＿＿＿

ひづけ ＿＿＿＿＿＿＿＿

×があったら「②-1」からもう一度、ぜんぶ○なら、まだやっていない「そうごうテスト（その2〜5）」へ

1　やじるしが さす 目もりは、何m何cmですか。

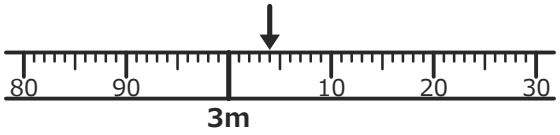

3 m 4 cm

→ よくある×：4cm

考え方：3mから4目もり（1目もり1cm）

2　駅から 学校までの きょりは、何mですか。

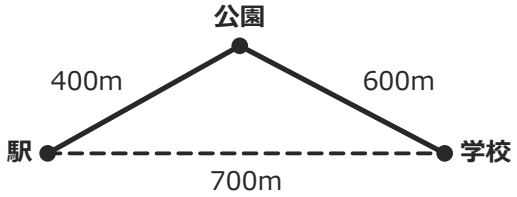

700 m

→ よくある×：1km

考え方：まっすぐはかった長さ（点線）

3　やじるしが さす 目もりは、何cmですか。

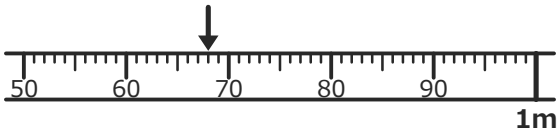

68 cm

→ よくある×：1m68cm

考え方：60から8目もり（1目もり1cm）

4　家から 公園までの 道のりは、きょりより 何m 長い？

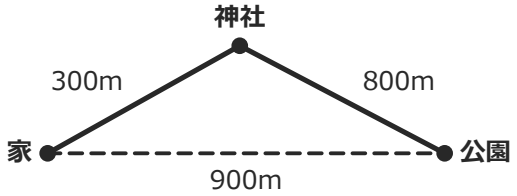

200 m

→ よくある×：1km100m

考え方：300＋800−900＝200m

5　やじるしが さす 目もりは、何m何cmですか。

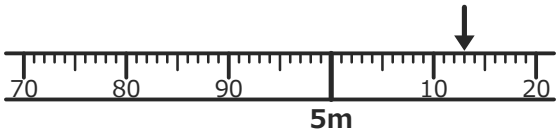

5 m 13 cm

→ よくある×：13cm

考え方：5mから13目もり（1目もり1cm）

6　学校から 家までの 道のりは、何km何mですか。

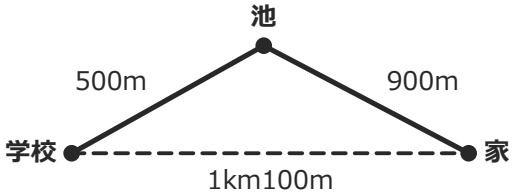

1 km 400 m

→ よくある×：1km100m

考え方：道にそった長さ：500＋900＝1400m

7　やじるしが さす 目もりは、何m何cmですか。

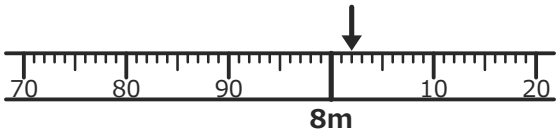

8 m 2 cm

→ よくある×：2cm

考え方：8mから2目もり（1目もり1cm）

8　家から 駅までの きょりは、何mですか。

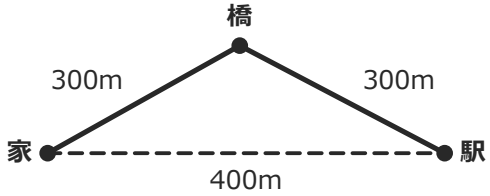

400 m

→ よくある×：600m

考え方：まっすぐはかった長さ（点線）

小3 長さ とっくんドリル③-1【こたえ】

長さのたし算とひき算　全12問

なまえ ＿＿＿＿＿＿＿＿

ひづけ ＿＿＿＿＿＿＿＿

×があったら「とっくんドリル③-2」へ、ぜんぶ○なら、まだやっていない「そうごうテスト（その2〜5）」へ

1　1km750m ＋ 500m ＝

2 km 250 m

→ よくある×：1km1250m

考え方：750＋500＝1250m＝1km250m

km：1＋1＝2km

2　5km − 250m ＝

4 km 750 m

→ よくある×：5km250m

考え方：1km→1000m、1000−250＝750m

km：5−1＝4km

3　2km600m ＋ 2km550m ＝

5 km 150 m

→ よくある×：4km1150m

考え方：600＋550＝1150m＝1km150m

km：2＋2＋1＝5km

4　4km − 200m ＝

3 km 800 m

→ よくある×：4km200m

考え方：1km→1000m、1000−200＝800m

km：4−1＝3km

5　4km850m ＋ 550m ＝

5 km 400 m

→ よくある×：4km1400m

考え方：850＋550＝1400m＝1km400m

km：4＋1＝5km

6　4km250m − 1km950m ＝

2 km 300 m

→ よくある×：3km700m

考え方：1km→1000m、1250−950＝300m

km：4−1−1＝2km

7　900m ＋ 3km250m ＝

4 km 150 m

→ よくある×：3km1150m

考え方：900＋250＝1150m＝1km150m

km：3＋1＝4km

8　6km350m − 650m ＝

5 km 700 m

→ よくある×：6km300m

考え方：1km→1000m、1350−650＝700m

km：6−1＝5km

9　3km850m ＋ 3km600m ＝

7 km 450 m

→ よくある×：6km1450m

考え方：850＋600＝1450m＝1km450m

km：3＋3＋1＝7km

10　6km200m − 1km650m ＝

4 km 550 m

→ よくある×：5km450m

考え方：1km→1000m、1200−650＝550m

km：6−1−1＝4km

11　3km400m ＋ 950m ＝

4 km 350 m

→ よくある×：3km1350m

考え方：400＋950＝1350m＝1km350m

km：3＋1＝4km

12　2km250m − 700m ＝

1 km 550 m

→ よくある×：2km450m

考え方：1km→1000m、1250−700＝550m

km：2−1＝1km

小3 長さ とっくんドリル③-2【こたえ】

長さのたし算とひき算　全12問

なまえ ＿＿＿＿＿＿＿＿

ひづけ ＿＿＿＿＿＿＿＿

×があったら「とっくんドリル③-3」へ、ぜんぶ○なら、まだやっていない「そうごうテスト（その2～5）」へ

1　3km450m ＋ 800m ＝

4 km 250 m

→ よくある×：3km1250m

考え方：450＋800＝1250m＝1km250m

km：3＋1＝4km

2　9km50m － 100m ＝

8 km 950 m

→ よくある×：9km50m

考え方：1km→1000m、1050－100＝950m

km：9－1＝8km

3　1km350m ＋ 3km750m ＝

5 km 100 m

→ よくある×：4km1100m

考え方：350＋750＝1100m＝1km100m

km：1＋3＋1＝5km

4　8km － 500m ＝

7 km 500 m

→ よくある×：8km500m

考え方：1km→1000m、1000－500＝500m

km：8－1＝7km

5　1km450m ＋ 800m ＝

2 km 250 m

→ よくある×：1km1250m

考え方：450＋800＝1250m＝1km250m

km：1＋1＝2km

6　6km100m － 2km950m ＝

3 km 150 m

→ よくある×：4km850m

考え方：1km→1000m、1100－950＝150m

km：6－1－2＝3km

7　700m ＋ 4km450m ＝

5 km 150 m

→ よくある×：4km1150m

考え方：700＋450＝1150m＝1km150m

km：4＋1＝5km

8　6km150m － 850m ＝

5 km 300 m

→ よくある×：6km700m

考え方：1km→1000m、1150－850＝300m

km：6－1＝5km

9　2km350m ＋ 3km750m ＝

6 km 100 m

→ よくある×：5km1100m

考え方：350＋750＝1100m＝1km100m

km：2＋3＋1＝6km

10　6km300m － 1km950m ＝

4 km 350 m

→ よくある×：5km650m

考え方：1km→1000m、1300－950＝350m

km：6－1－1＝4km

11　4km850m ＋ 500m ＝

5 km 350 m

→ よくある×：4km1350m

考え方：850＋500＝1350m＝1km350m

km：4＋1＝5km

12　3km300m － 700m ＝

2 km 600 m

→ よくある×：3km400m

考え方：1km→1000m、1300－700＝600m

km：3－1＝2km

小3 長さ とっくんドリル③-3【こたえ】

長さのたし算とひき算　全12問

なまえ ＿＿＿＿＿＿＿＿

ひづけ ＿＿＿＿＿＿＿＿

×があったら「とっくんドリル③-4」へ、ぜんぶ○なら、まだやっていない「そうごうテスト（その2〜5）」へ

1　4km800m ＋ 650m ＝

5 km 450 m

→ よくある×：4km1450m

考え方：800＋650＝1450m＝1km450m

km：4＋1＝5km

2　2km200m − 800m ＝

1 km 400 m

→ よくある×：2km600m

考え方：1km→1000m、1200−800＝400m

km：2−1＝1km

3　750m ＋ 3km450m ＝

4 km 200 m

→ よくある×：3km1200m

考え方：750＋450＝1200m＝1km200m

km：3＋1＝4km

4　3km − 200m ＝

2 km 800 m

→ よくある×：3km200m

考え方：1km→1000m、1000−200＝800m

km：3−1＝2km

5　4km800m ＋ 900m ＝

5 km 700 m

→ よくある×：4km1700m

考え方：800＋900＝1700m＝1km700m

km：4＋1＝5km

6　5km100m − 1km350m ＝

3 km 750 m

→ よくある×：4km250m

考え方：1km→1000m、1100−350＝750m

km：5−1−1＝3km

7　800m ＋ 1km850m ＝

2 km 650 m

→ よくある×：1km1650m

考え方：800＋850＝1650m＝1km650m

km：1＋1＝2km

8　9km200m − 950m ＝

8 km 250 m

→ よくある×：9km750m

考え方：1km→1000m、1200−950＝250m

km：9−1＝8km

9　950m ＋ 4km550m ＝

5 km 500 m

→ よくある×：4km1500m

考え方：950＋550＝1500m＝1km500m

km：4＋1＝5km

10　9km600m − 5km800m ＝

3 km 800 m

→ よくある×：4km200m

考え方：1km→1000m、1600−800＝800m

km：9−1−5＝3km

11　3km450m ＋ 650m ＝

4 km 100 m

→ よくある×：3km1100m

考え方：450＋650＝1100m＝1km100m

km：3＋1＝4km

12　8km − 100m ＝

7 km 900 m

→ よくある×：8km100m

考え方：1km→1000m、1000−100＝900m

km：8−1＝7km

小3 長さ とっくんドリル③-4【こたえ】

長さのたし算とひき算　全12問

なまえ ＿＿＿＿＿＿＿＿

ひづけ ＿＿＿＿＿＿＿＿

×があったら「とっくんドリル③-5」へ、ぜんぶ○なら、まだやっていない「そうごうテスト（その2〜5）」へ

1　3km900m ＋ 500m ＝

4 km 400 m

→ よくある×：3km1400m

考え方：900＋500＝1400m＝1km400m

km：3＋1＝4km

2　4km150m − 550m ＝

3 km 600 m

→ よくある×：4km400m

考え方：1km→1000m、1150−550＝600m

km：4−1＝3km

3　3km550m ＋ 4km900m ＝

8 km 450 m

→ よくある×：7km1450m

考え方：550＋900＝1450m＝1km450m

km：3＋4＋1＝8km

4　7km − 950m ＝

6 km 50 m

→ よくある×：7km950m

考え方：1km→1000m、1000−950＝50m

km：7−1＝6km

5　4km450m ＋ 800m ＝

5 km 250 m

→ よくある×：4km1250m

考え方：450＋800＝1250m＝1km250m

km：4＋1＝5km

6　9km150m − 3km350m ＝

5 km 800 m

→ よくある×：6km200m

考え方：1km→1000m、1150−350＝800m

km：9−1−3＝5km

7　900m ＋ 2km750m ＝

3 km 650 m

→ よくある×：2km1650m

考え方：900＋750＝1650m＝1km650m

km：2＋1＝3km

8　6km450m − 700m ＝

5 km 750 m

→ よくある×：6km250m

考え方：1km→1000m、1450−700＝750m

km：6−1＝5km

9　3km950m ＋ 2km350m ＝

6 km 300 m

→ よくある×：5km1300m

考え方：950＋350＝1300m＝1km300m

km：3＋2＋1＝6km

10　9km300m − 2km800m ＝

6 km 500 m

→ よくある×：7km500m

考え方：1km→1000m、1300−800＝500m

km：9−1−2＝6km

11　2km250m ＋ 800m ＝

3 km 50 m

→ よくある×：2km1050m

考え方：250＋800＝1050m＝1km50m

km：2＋1＝3km

12　3km600m − 800m ＝

2 km 800 m

→ よくある×：3km200m

考え方：1km→1000m、1600−800＝800m

km：3−1＝2km

小3 長さ とっくんドリル③-5【こたえ】

長さのたし算とひき算　全12問

なまえ ＿＿＿＿＿＿＿＿

ひづけ ＿＿＿＿＿＿＿＿

×があったら「③-1」からもう一度、ぜんぶ○なら、まだやっていない「そうごうテスト（その2〜5）」へ

1 2km350m + 950m =

3 km 300 m

→ よくある×：2km1300m

考え方：350＋950＝1300m＝1km300m

km：2＋1＝3km

2 4km100m − 350m =

3 km 750 m

→ よくある×：4km250m

考え方：1km→1000m、1100−350＝750m

km：4−1＝3km

3 2km650m + 1km850m =

4 km 500 m

→ よくある×：3km1500m

考え方：650＋850＝1500m＝1km500m

km：2＋1＋1＝4km

4 2km − 800m =

1 km 200 m

→ よくある×：2km800m

考え方：1km→1000m、1000−800＝200m

km：2−1＝1km

5 1km650m + 500m =

2 km 150 m

→ よくある×：1km1150m

考え方：650＋500＝1150m＝1km150m

km：1＋1＝2km

6 8km250m − 3km400m =

4 km 850 m

→ よくある×：5km150m

考え方：1km→1000m、1250−400＝850m

km：8−1−3＝4km

7 700m + 4km400m =

5 km 100 m

→ よくある×：4km1100m

考え方：700＋400＝1100m＝1km100m

km：4＋1＝5km

8 2km50m − 450m =

1 km 600 m

→ よくある×：2km400m

考え方：1km→1000m、1050−450＝600m

km：2−1＝1km

9 2km700m + 1km550m =

4 km 250 m

→ よくある×：3km1250m

考え方：700＋550＝1250m＝1km250m

km：2＋1＋1＝4km

10 8km500m − 2km650m =

5 km 850 m

→ よくある×：6km150m

考え方：1km→1000m、1500−650＝850m

km：8−1−2＝5km

11 1km700m + 950m =

2 km 650 m

→ よくある×：1km1650m

考え方：700＋950＝1650m＝1km650m

km：1＋1＝2km

12 6km700m − 950m =

5 km 750 m

→ よくある×：6km250m

考え方：1km→1000m、1700−950＝750m

km：6−1＝5km

小3 長さ そうごうテスト（その2）【こたえ】

なまえ ＿＿＿＿＿＿＿＿

全12問　100点

ひづけ ＿＿＿＿＿＿　/100

つまずき①　kmとmのなおし方

2問とも×→つまずき　1問だけ×→うっかりかも

問4 7090m

7km90mは何m

よくある×：790m

7km＝7000m

7000＋90＝7090m

問12 3km25m

3025mは何km何m

よくある×：3km250m

3000m＝3km

のこり25m

→ 3km25m

つまずき：mのけたを見ずに、0を入れない・入れすぎる

まちがえたら→「練習プリント①」→「とっくんドリル①」

問4の考え方：1km＝1000m

7000m＋90m＝7090m

つまずき②　まきじゃくの目もりの読み方

2問とも×→つまずき　1問だけ×→うっかりかも

問2 4m13cm

まきじゃくの目もり

よくある×：13cm

1目もり1cm

4mと13cm

→ 4m13cm

問7 5m2cm

まきじゃくの目もり

よくある×：2cm

1目もり1cm

5mと2cm

→ 5m2cm

つまずき：1mをこえたあとの数字を、そのままcmと読み、mを入れない

まちがえたら→「練習プリント②」→「とっくんドリル②」

問2の考え方：1目もりは1cm

4mの目もりから13目もりで4m13cm

つまずき③　道のりときょりのちがい

2問とも×→つまずき　1問だけ×→うっかりかも

問1 1km800m

家から学校までの道のり

よくある×：1km300m

道にそった長さ

900＋900＝1800m

→ 1km800m

問8 900m

家から駅までのきょり

よくある×：1km400m

まっすぐはかった長さ

→ 900m

つまずき：道にそってはかった長さ（道のり）と、まっすぐはかった長さ（きょり）を取りちがえる

まちがえたら→「練習プリント③」→「とっくんドリル②」

問1の考え方：道のりは道にそった長さ

900m＋900m＝1800m＝1km800m

つまずき④　長さのたし算のくり上がり

2問とも×→つまずき　1問だけ×→うっかりかも

問3 6km300m

3km850m＋2km450m

よくある×：5km1300m

850＋450＝1300m

＝1km300m

→ 6km300m

問10 4km350m

3km450m＋900m

よくある×：3km1350m

450＋900＝1350m

＝1km350m

→ 4km350m

つまずき：mが1000をこえても、1kmにくり上げない

まちがえたら→「練習プリント④」→「とっくんドリル③」

問3の考え方：850m＋450m＝1km300m

3＋2＋1＝6km

つまずき⑤　長さのたんいえらび

2問とも×→つまずき　1問だけ×→うっかりかも

問6 cm

水とうの 高さは25（　）

よくある×：m

25cmくらい

問11 m

プールの たての

長さは25（　）

よくある×：cm

25mくらい

つまずき：長さの見当をつけずに、たんいをえらぶ

まちがえたら→「練習プリント⑤」→「とっくんドリル①」

問6の考え方：手で持てるものは、cmで表す

つまずき⑥　長さのひき算のくり下がり

2問とも×→つまずき　1問だけ×→うっかりかも

問5 2km700m

7km400m−4km700m

よくある×：3km300m

7km400m＝6km1400m

1400−700＝700m

→ 2km700m

問9 8km700m

9km550m−850m

よくある×：9km300m

9km550m＝8km1550m

1550−850＝700m

→ 8km700m

つまずき：mがひけないとき、大きい方から小さい方をひく

まちがえたら→「練習プリント⑥」→「とっくんドリル③」

問5の考え方：1kmを1000mにする

1400m−700m＝700m

6km−4km＝2km

小3 長さ そうごうテスト（その3）【こたえ】

なまえ ＿＿＿＿＿＿＿＿

全12問　100点

ひづけ ＿＿＿＿＿＿　/100

つまずき①　kmとmのなおし方

2問とも×→つまずき　1問だけ×→うっかりかも

問2 9001m

9km1mは何m

よくある×：91m

9km＝9000m

9000＋1＝9001m

問9 8km4m

8004mは何km何m

よくある×：8km40m

8000m＝8km

のこり4m

→ 8km4m

つまずき：mのけたを見ずに、0を入れない・入れすぎる

まちがえたら→「練習プリント①」→「とっくんドリル①」

問2の考え方：1km＝1000m

9000m＋1m＝9001m

つまずき②　まきじゃくの目もりの読み方

2問とも×→つまずき　1問だけ×→うっかりかも

問3 5m7cm

まきじゃくの目もり

よくある×：7cm

1目もり1cm

5mと7cm

→ 5m7cm

問11 4m28cm

まきじゃくの目もり

よくある×：28cm

1目もり1cm

4mと28cm

→ 4m28cm

つまずき：1mをこえたあとの数字を、そのままcmと読み、mを入れない

まちがえたら→「練習プリント②」→「とっくんドリル②」

問3の考え方：1目もりは1cm

5mの目もりから7目もりで5m7cm

つまずき③　道のりときょりのちがい

2問とも×→つまずき　1問だけ×→うっかりかも

問4 1km600m

学校から図書館までの道のり

よくある×：1km

道にそった長さ

900＋700＝1600m

→ 1km600m

問12 700m

家から病院までのきょり

よくある×：900m

まっすぐはかった長さ

→ 700m

つまずき：道にそってはかった長さ（道のり）と、まっすぐはかった長さ（きょり）を取りちがえる

まちがえたら→「練習プリント③」→「とっくんドリル②」

問4の考え方：道のりは道にそった長さ

900m＋700m＝1600m＝1km600m

つまずき④　長さのたし算のくり上がり

2問とも×→つまずき　1問だけ×→うっかりかも

問6 7km100m

3km600m＋3km500m

よくある×：6km1100m

600＋500＝1100m

＝1km100m

→ 7km100m

問10 4km600m

3km900m＋700m

よくある×：3km1600m

900＋700＝1600m

＝1km600m

→ 4km600m

つまずき：mが1000をこえても、1kmにくり上げない

まちがえたら→「練習プリント④」→「とっくんドリル③」

問6の考え方：600m＋500m＝1km100m

3＋3＋1＝7km

つまずき⑤　長さのたんいえらび

2問とも×→つまずき　1問だけ×→うっかりかも

問5 km

新かんせんで 行った

道のりは250（　）

よくある×：m

250kmくらい

問8 cm

スプーンの 長さは15（　）

よくある×：m

15cmくらい

つまずき：長さの見当をつけずに、たんいをえらぶ

まちがえたら→「練習プリント⑤」→「とっくんドリル①」

問5の考え方：遠くまでの道のりは、kmで表す

つまずき⑥　長さのひき算のくり下がり

2問とも×→つまずき　1問だけ×→うっかりかも

問1 5km750m

7km350m−1km600m

よくある×：6km250m

7km350m＝6km1350m

1350−600＝750m

→ 5km750m

問7 8km300m

9km−700m

よくある×：9km700m

9km＝8km1000m

1000−700＝300m

→ 8km300m

つまずき：mがひけないとき、大きい方から小さい方をひく

まちがえたら→「練習プリント⑥」→「とっくんドリル③」

問1の考え方：1kmを1000mにする

1350m−600m＝750m

6km−1km＝5km

小3 長さ そうごうテスト（その4）【こたえ】

なまえ ＿＿＿＿＿＿＿＿

全12問　100点

ひづけ ＿＿＿＿＿＿　/100

つまずき①　kmとmのなおし方

2問とも×→つまずき　1問だけ×→うっかりかも

問5 6054m

6km54mは何m

よくある×：654m

6km＝6000m

6000＋54＝6054m

問10 5km86m

5086mは何km何m

よくある×：5km860m

5000m＝5km

のこり86m

→ 5km86m

つまずき：mのけたを見ずに、0を入れない・入れすぎる

まちがえたら→「練習プリント①」→「とっくんドリル①」

問5の考え方：1km＝1000m

6000m＋54m＝6054m

つまずき②　まきじゃくの目もりの読み方

2問とも×→つまずき　1問だけ×→うっかりかも

問1 1m33cm

まきじゃくの目もり

よくある×：33cm

1目もり1cm

1mと33cm

→ 1m33cm

問12 4m25cm

まきじゃくの目もり

よくある×：25cm

1目もり1cm

4mと25cm

→ 4m25cm

つまずき：1mをこえたあとの数字を、そのままcmと読み、mを入れない

まちがえたら→「練習プリント②」→「とっくんドリル②」

問1の考え方：1目もりは1cm

1mの目もりから33目もりで1m33cm

つまずき③　道のりときょりのちがい

2問とも×→つまずき　1問だけ×→うっかりかも

問2 1km400m

駅から学校までの道のり

よくある×：1km100m

道にそった長さ

800＋600＝1400m

→ 1km400m

問11 800m

家から公園までのきょり

よくある×：1km

まっすぐはかった長さ

→ 800m

つまずき：道にそってはかった長さ（道のり）と、まっすぐはかった長さ（きょり）を取りちがえる

まちがえたら→「練習プリント③」→「とっくんドリル②」

問2の考え方：道のりは道にそった長さ

800m＋600m＝1400m＝1km400m

つまずき④　長さのたし算のくり上がり

2問とも×→つまずき　1問だけ×→うっかりかも

問6 4km200m

2km950m＋1km250m

よくある×：3km1200m

950＋250＝1200m

＝1km200m

→ 4km200m

問9 3km750m

2km900m＋850m

よくある×：2km1750m

900＋850＝1750m

＝1km750m

→ 3km750m

つまずき：mが1000をこえても、1kmにくり上げない

まちがえたら→「練習プリント④」→「とっくんドリル③」

問6の考え方：950m＋250m＝1km200m

2＋1＋1＝4km

つまずき⑤　長さのたんいえらび

2問とも×→つまずき　1問だけ×→うっかりかも

問3 m

校しゃの 高さは15（　）

よくある×：cm

15mくらい

問7 km

となりの 町までの

道のりは10（　）

よくある×：m

10kmくらい

つまずき：長さの見当をつけずに、たんいをえらぶ

まちがえたら→「練習プリント⑤」→「とっくんドリル①」

問3の考え方：体より長いものは、mで表す

つまずき⑥　長さのひき算のくり下がり

2問とも×→つまずき　1問だけ×→うっかりかも

問4 2km900m

6km700m−3km800m

よくある×：3km100m

6km700m＝5km1700m

1700−800＝900m

→ 2km900m

問8 4km850m

5km400m−550m

よくある×：5km150m

5km400m＝4km1400m

1400−550＝850m

→ 4km850m

つまずき：mがひけないとき、大きい方から小さい方をひく

まちがえたら→「練習プリント⑥」→「とっくんドリル③」

問4の考え方：1kmを1000mにする

1700m−800m＝900m

5km−3km＝2km

小3 長さ そうごうテスト（その5）【こたえ】

なまえ ＿＿＿＿＿＿＿＿

全12問　100点

ひづけ ＿＿＿＿＿＿　/100

つまずき①　kmとmのなおし方

2問とも×→つまずき　1問だけ×→うっかりかも

問6 6007m

6km7mは何m

よくある×：67m

6km＝6000m

6000＋7＝6007m

問11 8km1m

8001mは何km何m

よくある×：8km10m

8000m＝8km

のこり1m

→ 8km1m

つまずき：mのけたを見ずに、0を入れない・入れすぎる

まちがえたら→「練習プリント①」→「とっくんドリル①」

問6の考え方：1km＝1000m

6000m＋7m＝6007m

つまずき②　まきじゃくの目もりの読み方

2問とも×→つまずき　1問だけ×→うっかりかも

問2 6m32cm

まきじゃくの目もり

よくある×：32cm

1目もり1cm

6mと32cm

→ 6m32cm

問9 8m12cm

まきじゃくの目もり

よくある×：12cm

1目もり1cm

8mと12cm

→ 8m12cm

つまずき：1mをこえたあとの数字を、そのままcmと読み、mを入れない

まちがえたら→「練習プリント②」→「とっくんドリル②」

問2の考え方：1目もりは1cm

6mの目もりから32目もりで6m32cm

つまずき③　道のりときょりのちがい

2問とも×→つまずき　1問だけ×→うっかりかも

問1 1km100m

学校から家までの道のり

よくある×：900m

道にそった長さ

700＋400＝1100m

→ 1km100m

問10 1km0m

家から駅までのきょり

よくある×：1km300m

まっすぐはかった長さ

→ 1km

つまずき：道にそってはかった長さ（道のり）と、まっすぐはかった長さ（きょり）を取りちがえる

まちがえたら→「練習プリント③」→「とっくんドリル②」

問1の考え方：道のりは道にそった長さ

700m＋400m＝1100m＝1km100m

つまずき④　長さのたし算のくり上がり

2問とも×→つまずき　1問だけ×→うっかりかも

問5 4km450m

850m＋3km600m

よくある×：3km1450m

850＋600＝1450m

＝1km450m

→ 4km450m

問8 3km550m

2km650m＋900m

よくある×：2km1550m

650＋900＝1550m

＝1km550m

→ 3km550m

つまずき：mが1000をこえても、1kmにくり上げない

まちがえたら→「練習プリント④」→「とっくんドリル③」

問5の考え方：850m＋600m＝1km450m

3＋1＝4km

つまずき⑤　長さのたんいえらび

2問とも×→つまずき　1問だけ×→うっかりかも

問4 cm

くつの 長さは20（　）

よくある×：m

20cmくらい

問12 m

大きな 木の 高さは9（　）

よくある×：cm

9mくらい

つまずき：長さの見当をつけずに、たんいをえらぶ

まちがえたら→「練習プリント⑤」→「とっくんドリル①」

問4の考え方：手で持てるものは、cmで表す

つまずき⑥　長さのひき算のくり下がり

2問とも×→つまずき　1問だけ×→うっかりかも

問3 5km750m

9km50m−3km300m

よくある×：6km250m

9km50m＝8km1050m

1050−300＝750m

→ 5km750m

問7 2km900m

3km650m−750m

よくある×：3km100m

3km650m＝2km1650m

1650−750＝900m

→ 2km900m

つまずき：mがひけないとき、大きい方から小さい方をひく

まちがえたら→「練習プリント⑥」→「とっくんドリル③」

問3の考え方：1kmを1000mにする

1050m−300m＝750m

8km−3km＝5km