小3 長さ そうごうテスト（その1）

全12問　100点

なまえ ＿＿＿＿＿＿＿＿

ひづけ ＿＿＿＿＿＿　/100

下線には数だけ書く（たんいは書いてある）。「たんいは どれかな？」の問題は、たんいを○でかこむ

8点

1 2km50mは、
何mですか。

＿＿＿＿＿ m

8点

2 1km600m ＋ 700m ＝

＿＿＿＿ km ＿＿＿＿＿ m

8点

3 やじるしが さす 目もりは、
何m何cmですか。

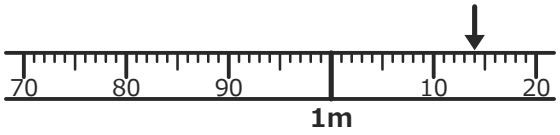

＿＿＿＿ m ＿＿＿＿ cm

8点

4 家から 学校までの
道のりは、何km何mですか。

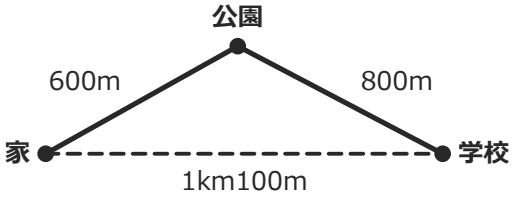

＿＿＿＿ km ＿＿＿＿＿ m

8点

5 3km200m − 1km600m ＝

＿＿＿＿ km ＿＿＿＿＿ m

8点

6 えんぴつの 長さは 17（　）。
たんいは どれかな？

m　　**cm**　　**km**

8点

7 1時間 歩いた 道のりは 4（　）。
たんいは どれかな？

cm　　**m**　　**km**

8点

8 4070mは、
何km何mですか。

＿＿＿＿ km ＿＿＿＿ m

9点

9 家から 駅までの
きょりは、何mですか。

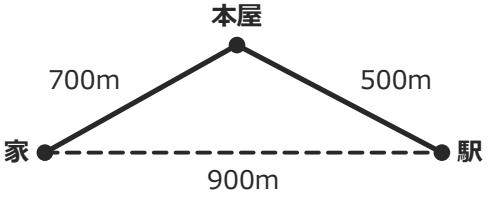

＿＿＿＿＿ m

9点

10 やじるしが さす 目もりは、
何m何cmですか。

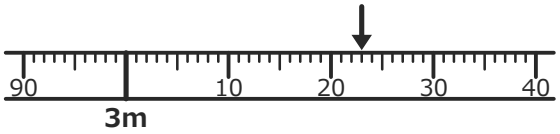

＿＿＿＿ m ＿＿＿＿ cm

9点

11 5km100m − 600m ＝

＿＿＿＿ km ＿＿＿＿＿ m

9点

12 2km450m ＋ 1km750m ＝

＿＿＿＿ km ＿＿＿＿＿ m

いちごドリル プリント

つづきの無料プリント
「小3の長さ」のプリント一覧がひらきます

小3 長さ とっくんドリル①-1

kmとmのなおし方と、長さのたんいえらび　全12問

なまえ ＿＿＿＿＿＿＿＿

ひづけ ＿＿＿＿＿＿＿＿

下線には数だけ（たんいは書いてある）。kmかmかを見る。「たんいは どれかな？」は1つを○でかこむ

1 1kmは、
何mですか。

＿＿＿＿ m

2 7000mは、
何kmですか。

＿＿＿＿ km

3 1km80mは、
何mですか。

＿＿＿＿ m

4 5020mは、
何km何mですか。

＿＿＿ km ＿＿＿ m

5 8km950mは、
何mですか。

＿＿＿＿ m

6 6967mは、
何km何mですか。

＿＿＿ km ＿＿＿ m

7 3km4mは、
何mですか。

＿＿＿＿ m

8 7003mは、
何km何mですか。

＿＿＿ km ＿＿＿ m

9 車で 1時間に 走る 道のりは
50（　）。たんいは どれかな？

m　　cm　　km

10 あり1ぴきの 大きさは 4（　）。
たんいは どれかな？

cm　　km　　m　　mm

11 けしゴムの 長さは 5（　）。
たんいは どれかな？

km　　m　　cm

12 電柱の 高さは 10（　）。
たんいは どれかな？

cm　　m　　km

いちごドリル プリント

つづきの無料プリント
「小3の長さ」のプリント一覧がひらきます

小3 長さ とっくんドリル①-2

kmとmのなおし方と、長さのたんいえらび　全12問

なまえ ＿＿＿＿＿＿＿＿

ひづけ ＿＿＿＿＿＿＿＿

下線には数だけ（たんいは書いてある）。kmかmかを見る。「たんいは どれかな？」は1つを○でかこむ

1 6kmは、
何mですか。

＿＿＿＿ m

2 2000mは、
何kmですか。

＿＿＿＿ km

3 3km498mは、
何mですか。

＿＿＿＿ m

4 1901mは、
何km何mですか。

＿＿＿ km ＿＿＿ m

5 2km45mは、
何mですか。

＿＿＿＿ m

6 9095mは、
何km何mですか。

＿＿＿ km ＿＿＿ m

7 4km7mは、
何mですか。

＿＿＿＿ m

8 9005mは、
何km何mですか。

＿＿＿ km ＿＿＿ m

9 バスで 行った 道のりは 7（　）。
たんいは どれかな？

km　　cm　　m

10 10円玉の あつさは 1（　）。
たんいは どれかな？

cm　　mm　　m　　km

11 ペットボトルの 高さは 20（　）。
たんいは どれかな？

km　　cm　　m

12 バスの 長さは 12（　）。
たんいは どれかな？

m　　cm　　km

いちごドリル プリント

つづきの無料プリント
「小3の長さ」のプリント一覧がひらきます

小3 長さ とっくんドリル①-3

kmとmのなおし方と、長さのたんいえらび　全12問

なまえ ＿＿＿＿＿＿＿＿

ひづけ ＿＿＿＿＿＿＿＿

下線には数だけ（たんいは書いてある）。kmかmかを見る。「たんいは どれかな？」は1つを○でかこむ

1 4kmは、
何mですか。

＿＿＿＿ m

2 5000mは、
何kmですか。

＿＿＿＿ km

3 4km59mは、
何mですか。

＿＿＿＿ m

4 7058mは、
何km何mですか。

＿＿＿ km ＿＿＿ m

5 2km226mは、
何mですか。

＿＿＿＿ m

6 2700mは、
何km何mですか。

＿＿＿ km ＿＿＿ m

7 1km7mは、
何mですか。

＿＿＿＿ m

8 4007mは、
何km何mですか。

＿＿＿ km ＿＿＿ m

9 山のぼりで 歩いた 道のりは
5（　）。たんいは どれかな？

cm　　m　　km

10 お米1つぶの 長さは 7（　）。
たんいは どれかな？

cm　　m　　mm　　km

11 ふでばこの 長さは 21（　）。
たんいは どれかな？

km　　m　　cm

12 電車 1りょうの 長さは
20（　）。たんいは どれかな？

cm　　m　　km

いちごドリル プリント

つづきの無料プリント
「小3の長さ」のプリント一覧がひらきます

小3 長さ とっくんドリル①-4

kmとmのなおし方と、長さのたんいえらび　全12問

なまえ ＿＿＿＿＿＿＿＿

ひづけ ＿＿＿＿＿＿＿＿

下線には数だけ（たんいは書いてある）。kmかmかを見る。「たんいは どれかな？」は1つを○でかこむ

1 8kmは、
何mですか。

＿＿＿＿ m

2 1000mは、
何kmですか。

＿＿＿＿ km

3 8km644mは、
何mですか。

＿＿＿＿ m

4 7254mは、
何km何mですか。

＿＿＿ km ＿＿＿ m

5 5km66mは、
何mですか。

＿＿＿＿ m

6 9012mは、
何km何mですか。

＿＿＿ km ＿＿＿ m

7 4km2mは、
何mですか。

＿＿＿＿ m

8 1003mは、
何km何mですか。

＿＿＿ km ＿＿＿ m

9 自転車で 走った 道のりは
15（　）。たんいは どれかな？

km　　cm　　m

10 えんぴつの しんの ふとさは
2（　）。たんいは どれかな？

mm　km　　m　　cm

11 手のひらの 長さは 14（　）。
たんいは どれかな？

m　　cm　　km

12 たいいくかんの よこの 長さは
30（　）。たんいは どれかな？

m　　km　　cm

いちごドリル プリント

つづきの無料プリント
「小3の長さ」のプリント一覧がひらきます

小3 長さ とっくんドリル①-5

kmとmのなおし方と、長さのたんいえらび　全12問

なまえ ＿＿＿＿＿＿＿＿

ひづけ ＿＿＿＿＿＿＿＿

下線には数だけ（たんいは書いてある）。kmかmかを見る。「たんいは どれかな？」は1つを○でかこむ

1 7kmは、
何mですか。

＿＿＿＿ m

2 8000mは、
何kmですか。

＿＿＿＿ km

3 9km72mは、
何mですか。

＿＿＿＿ m

4 4011mは、
何km何mですか。

＿＿＿ km ＿＿＿ m

5 7km988mは、
何mですか。

＿＿＿＿ m

6 3999mは、
何km何mですか。

＿＿＿ km ＿＿＿ m

7 2km3mは、
何mですか。

＿＿＿＿ m

8 3006mは、
何km何mですか。

＿＿＿ km ＿＿＿ m

9 となりの 市までの 道のりは
20（　）。たんいは どれかな？

cm　　m　　km

10 1円玉の はばは 20（　）。
たんいは どれかな？

cm　　km　　mm　　m

11 クレヨンの 長さは 8（　）。
たんいは どれかな？

km　　m　　cm

12 ドアの 高さは 2（　）。
たんいは どれかな？

cm　　m　　km

いちごドリル プリント

つづきの無料プリント
「小3の長さ」のプリント一覧がひらきます

小3 長さ とっくんドリル②-1

まきじゃくの目もりと、道のりときょり　全8問

なまえ ＿＿＿＿＿＿＿＿

ひづけ ＿＿＿＿＿＿＿＿

下線には数だけ書く（たんいは書いてある）。まきじゃくは、やじるしがさす目もりを読む

1　やじるしが さす 目もりは、
何m何cmですか。

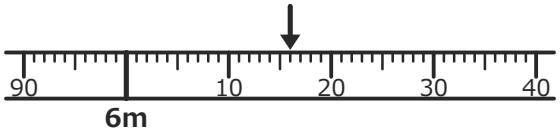

＿＿＿ m ＿＿＿ cm

2　公園から 家までの
道のりは、何km何mですか。

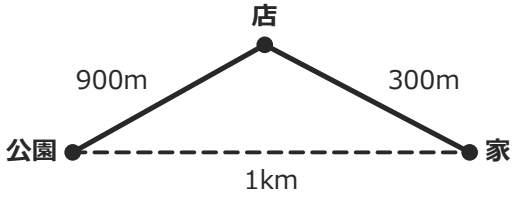

＿＿＿ km ＿＿＿ m

3　やじるしが さす 目もりは、
何cmですか。

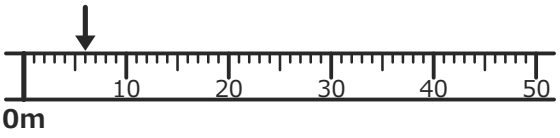

＿＿＿ cm

4　家から 学校までの
きょりは、何km何mですか。

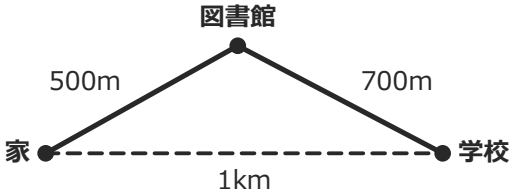

＿＿＿ km ＿＿＿ m

5　やじるしが さす 目もりは、
何m何cmですか。

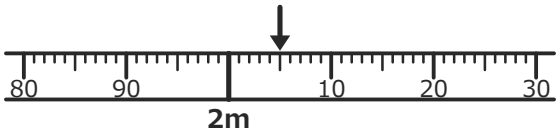

＿＿＿ m ＿＿＿ cm

6　家から 学校までの
道のりは、きょりより 何m 長い？

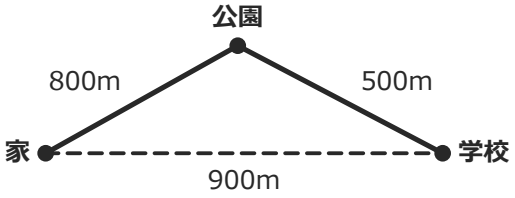

＿＿＿ m

7　やじるしが さす 目もりは、
何m何cmですか。

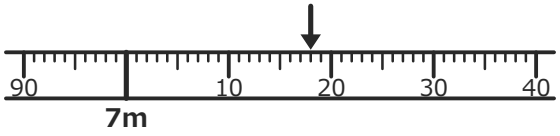

＿＿＿ m ＿＿＿ cm

8　家から 駅までの
道のりは、何km何mですか。

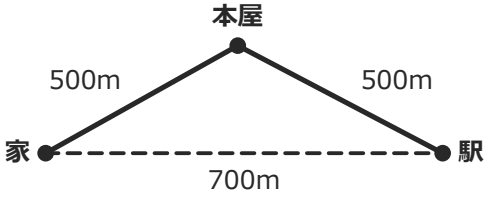

＿＿＿ km ＿＿＿ m

いちごドリル プリント

つづきの無料プリント
「小3の長さ」のプリント一覧がひらきます

小3 長さ とっくんドリル②-2

まきじゃくの目もりと、道のりときょり　全8問

なまえ ＿＿＿＿＿＿＿＿

ひづけ ＿＿＿＿＿＿＿＿

下線には数だけ書く（たんいは書いてある）。まきじゃくは、やじるしがさす目もりを読む

1　やじるしが さす 目もりは、
何m何cmですか。

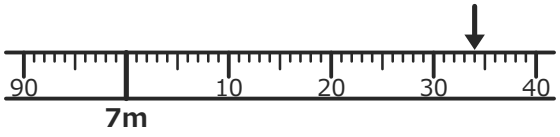

＿＿＿ m ＿＿＿ cm

2　学校から 図書館までの
きょりは、何km何mですか。

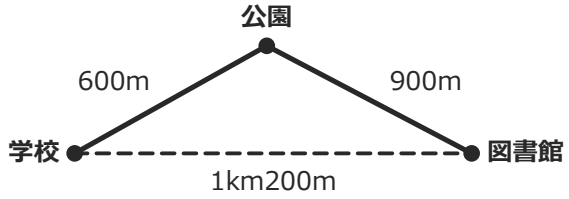

＿＿＿ km ＿＿＿＿ m

3　やじるしが さす 目もりは、
何m何cmですか。

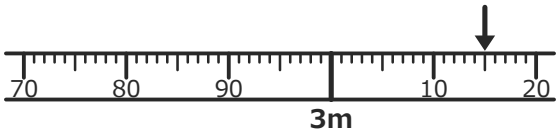

＿＿＿ m ＿＿＿ cm

4　家から 病院までの
道のりは、きょりより 何m 長い？

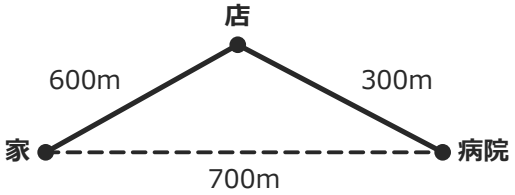

＿＿＿＿ m

5　やじるしが さす 目もりは、
何cmですか。

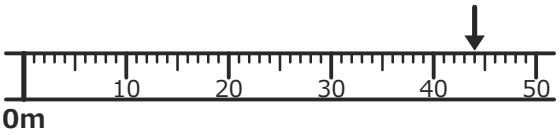

＿＿＿＿ cm

6　駅から 学校までの
道のりは、何km何mですか。

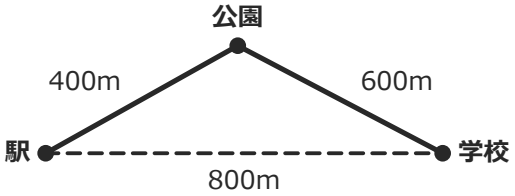

＿＿＿ km ＿＿＿＿ m

7　やじるしが さす 目もりは、
何m何cmですか。

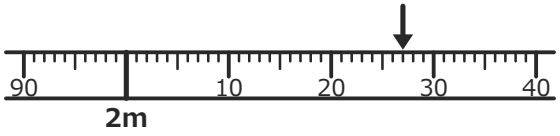

＿＿＿ m ＿＿＿ cm

8　家から 公園までの
きょりは、何mですか。

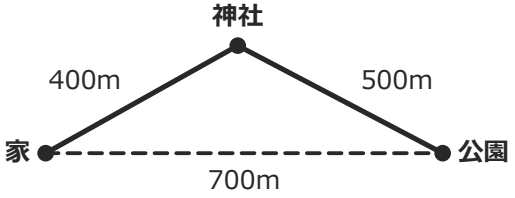

＿＿＿＿ m

いちごドリル プリント

つづきの無料プリント
「小3の長さ」のプリント一覧がひらきます

小3 長さ とっくんドリル②-3

まきじゃくの目もりと、道のりときょり　全8問

なまえ ＿＿＿＿＿＿＿＿

ひづけ ＿＿＿＿＿＿＿＿

下線には数だけ書く（たんいは書いてある）。まきじゃくは、やじるしがさす目もりを読む

1　やじるしが さす 目もりは、
何m何cmですか。

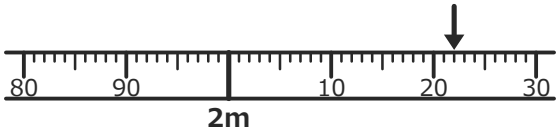

＿＿＿ m ＿＿＿ cm

2　学校から 家までの
道のりは、きょりより 何m 長い？

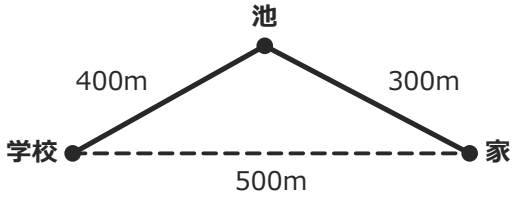

＿＿＿＿＿ m

3　やじるしが さす 目もりは、
何m何cmですか。

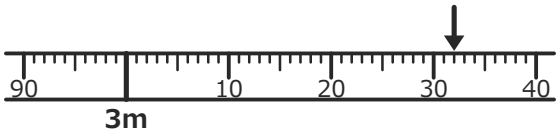

＿＿＿ m ＿＿＿ cm

4　家から 駅までの
道のりは、何km何mですか。

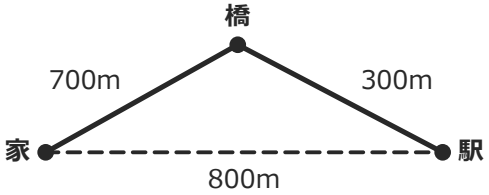

＿＿＿ km ＿＿＿＿＿ m

5　やじるしが さす 目もりは、
何m何cmですか。

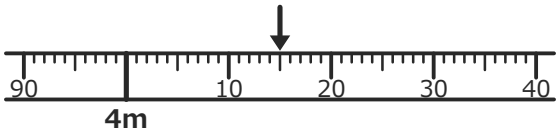

＿＿＿ m ＿＿＿ cm

6　公園から 家までの
きょりは、何mですか。

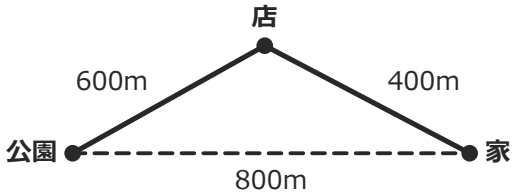

＿＿＿＿＿ m

7　やじるしが さす 目もりは、
何cmですか。

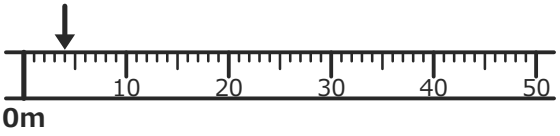

＿＿＿＿＿ cm

8　家から 学校までの
道のりは、きょりより 何m 長い？

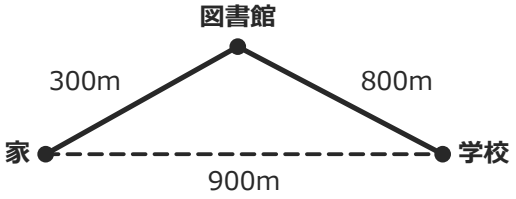

＿＿＿＿＿ m

いちごドリル プリント

つづきの無料プリント
「小3の長さ」のプリント一覧がひらきます

小3 長さ とっくんドリル②-4

まきじゃくの目もりと、道のりときょり　全8問

なまえ ＿＿＿＿＿＿＿＿

ひづけ ＿＿＿＿＿＿＿＿

下線には数だけ書く（たんいは書いてある）。まきじゃくは、やじるしがさす目もりを読む

1　やじるしが さす 目もりは、
何cmですか。

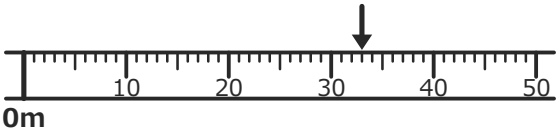

＿＿＿＿ cm

2　家から 学校までの
道のりは、何km何mですか。

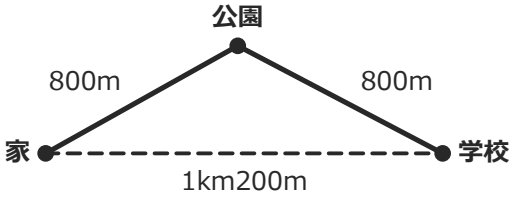

＿＿＿＿ km ＿＿＿＿ m

3　やじるしが さす 目もりは、
何m何cmですか。

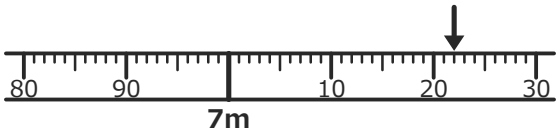

＿＿＿＿ m ＿＿＿＿ cm

4　家から 駅までの
きょりは、何mですか。

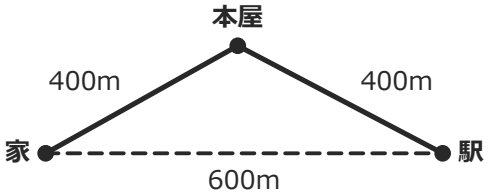

＿＿＿＿ m

5　やじるしが さす 目もりは、
何m何cmですか。

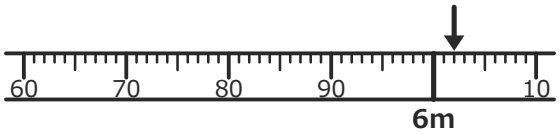

＿＿＿＿ m ＿＿＿＿ cm

6　学校から 図書館までの
道のりは、きょりより 何m 長い？

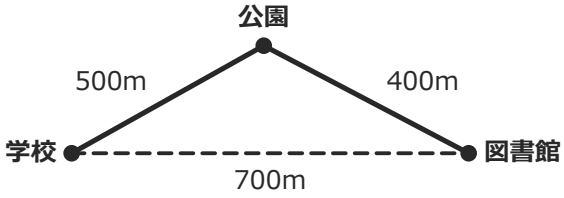

＿＿＿＿ m

7　やじるしが さす 目もりは、
何m何cmですか。

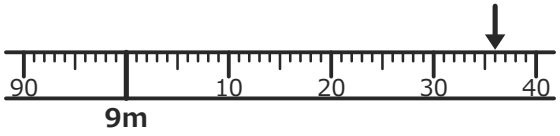

＿＿＿＿ m ＿＿＿＿ cm

8　家から 病院までの
道のりは、何mですか。

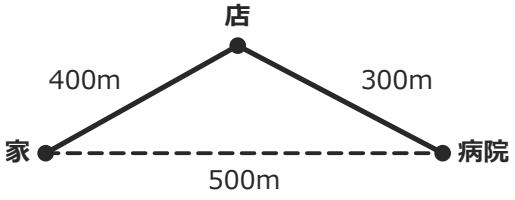

＿＿＿＿ m

いちごドリル プリント

つづきの無料プリント
「小3の長さ」のプリント一覧がひらきます

小3 長さ とっくんドリル②-5

まきじゃくの目もりと、道のりときょり　全8問

なまえ ＿＿＿＿＿＿＿＿

ひづけ ＿＿＿＿＿＿＿＿

下線には数だけ書く（たんいは書いてある）。まきじゃくは、やじるしがさす目もりを読む

1　やじるしが さす 目もりは、
何m何cmですか。

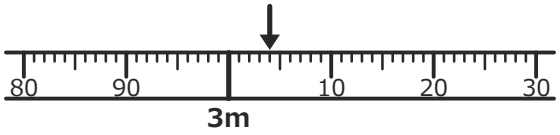

＿＿＿ m ＿＿＿ cm

2　駅から 学校までの
きょりは、何mですか。

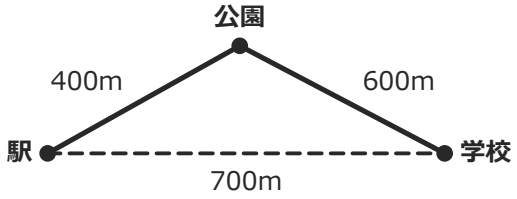

＿＿＿＿＿ m

3　やじるしが さす 目もりは、
何cmですか。

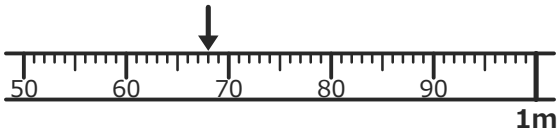

＿＿＿＿＿ cm

4　家から 公園までの
道のりは、きょりより 何m 長い？

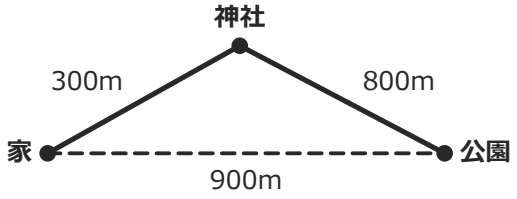

＿＿＿＿＿ m

5　やじるしが さす 目もりは、
何m何cmですか。

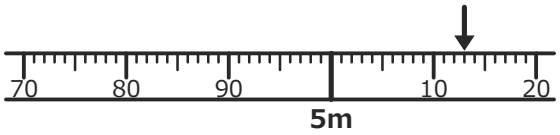

＿＿＿ m ＿＿＿ cm

6　学校から 家までの
道のりは、何km何mですか。

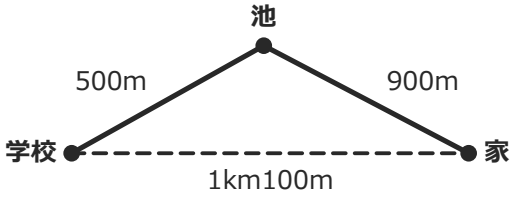

＿＿＿ km ＿＿＿＿＿ m

7　やじるしが さす 目もりは、
何m何cmですか。

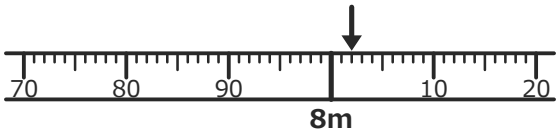

＿＿＿ m ＿＿＿ cm

8　家から 駅までの
きょりは、何mですか。

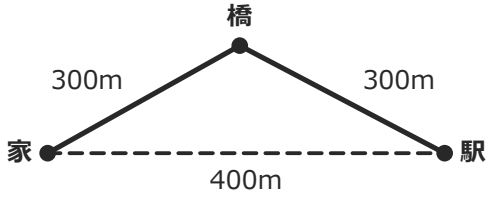

＿＿＿＿＿ m

いちごドリル プリント

つづきの無料プリント
「小3の長さ」のプリント一覧がひらきます

小3 長さ とっくんドリル③-1

長さのたし算とひき算　全12問

なまえ ＿＿＿＿＿＿＿＿

ひづけ ＿＿＿＿＿＿＿＿

下線には数だけ書く（たんいは書いてある）。kmの前の下線とmの前の下線に分けて書く

1　1km750m + 500m =

＿＿＿ km ＿＿＿＿＿ m

2　5km − 250m =

＿＿＿ km ＿＿＿＿＿ m

3　2km600m + 2km550m =

＿＿＿ km ＿＿＿＿＿ m

4　4km − 200m =

＿＿＿ km ＿＿＿＿＿ m

5　4km850m + 550m =

＿＿＿ km ＿＿＿＿＿ m

6　4km250m − 1km950m =

＿＿＿ km ＿＿＿＿＿ m

7　900m + 3km250m =

＿＿＿ km ＿＿＿＿＿ m

8　6km350m − 650m =

＿＿＿ km ＿＿＿＿＿ m

9　3km850m + 3km600m =

＿＿＿ km ＿＿＿＿＿ m

10　6km200m − 1km650m =

＿＿＿ km ＿＿＿＿＿ m

11　3km400m + 950m =

＿＿＿ km ＿＿＿＿＿ m

12　2km250m − 700m =

＿＿＿ km ＿＿＿＿＿ m

いちごドリル プリント

つづきの無料プリント
「小3の長さ」のプリント一覧がひらきます

小3 長さ とっくんドリル③-2

長さのたし算とひき算　全12問

なまえ ＿＿＿＿＿＿＿＿

ひづけ ＿＿＿＿＿＿＿＿

下線には数だけ書く（たんいは書いてある）。kmの前の下線とmの前の下線に分けて書く

1　3km450m + 800m =

＿＿＿ km ＿＿＿＿＿ m

2　9km50m − 100m =

＿＿＿ km ＿＿＿＿＿ m

3　1km350m + 3km750m =

＿＿＿ km ＿＿＿＿＿ m

4　8km − 500m =

＿＿＿ km ＿＿＿＿＿ m

5　1km450m + 800m =

＿＿＿ km ＿＿＿＿＿ m

6　6km100m − 2km950m =

＿＿＿ km ＿＿＿＿＿ m

7　700m + 4km450m =

＿＿＿ km ＿＿＿＿＿ m

8　6km150m − 850m =

＿＿＿ km ＿＿＿＿＿ m

9　2km350m + 3km750m =

＿＿＿ km ＿＿＿＿＿ m

10　6km300m − 1km950m =

＿＿＿ km ＿＿＿＿＿ m

11　4km850m + 500m =

＿＿＿ km ＿＿＿＿＿ m

12　3km300m − 700m =

＿＿＿ km ＿＿＿＿＿ m

いちごドリル プリント

つづきの無料プリント
「小3の長さ」のプリント一覧がひらきます

小3 長さ とっくんドリル③-3

長さのたし算とひき算　全12問

なまえ ＿＿＿＿＿＿＿＿

ひづけ ＿＿＿＿＿＿＿＿

下線には数だけ書く（たんいは書いてある）。kmの前の下線とmの前の下線に分けて書く

1　4km800m + 650m =

＿＿＿ km ＿＿＿＿＿ m

2　2km200m − 800m =

＿＿＿ km ＿＿＿＿＿ m

3　750m + 3km450m =

＿＿＿ km ＿＿＿＿＿ m

4　3km − 200m =

＿＿＿ km ＿＿＿＿＿ m

5　4km800m + 900m =

＿＿＿ km ＿＿＿＿＿ m

6　5km100m − 1km350m =

＿＿＿ km ＿＿＿＿＿ m

7　800m + 1km850m =

＿＿＿ km ＿＿＿＿＿ m

8　9km200m − 950m =

＿＿＿ km ＿＿＿＿＿ m

9　950m + 4km550m =

＿＿＿ km ＿＿＿＿＿ m

10　9km600m − 5km800m =

＿＿＿ km ＿＿＿＿＿ m

11　3km450m + 650m =

＿＿＿ km ＿＿＿＿＿ m

12　8km − 100m =

＿＿＿ km ＿＿＿＿＿ m

いちごドリル プリント

つづきの無料プリント
「小3の長さ」のプリント一覧がひらきます

小3 長さ とっくんドリル③-4

長さのたし算とひき算　全12問

なまえ ＿＿＿＿＿＿＿＿

ひづけ ＿＿＿＿＿＿＿＿

下線には数だけ書く（たんいは書いてある）。kmの前の下線とmの前の下線に分けて書く

1　3km900m + 500m =

＿＿＿ km ＿＿＿＿＿ m

2　4km150m − 550m =

＿＿＿ km ＿＿＿＿＿ m

3　3km550m + 4km900m =

＿＿＿ km ＿＿＿＿＿ m

4　7km − 950m =

＿＿＿ km ＿＿＿＿＿ m

5　4km450m + 800m =

＿＿＿ km ＿＿＿＿＿ m

6　9km150m − 3km350m =

＿＿＿ km ＿＿＿＿＿ m

7　900m + 2km750m =

＿＿＿ km ＿＿＿＿＿ m

8　6km450m − 700m =

＿＿＿ km ＿＿＿＿＿ m

9　3km950m + 2km350m =

＿＿＿ km ＿＿＿＿＿ m

10　9km300m − 2km800m =

＿＿＿ km ＿＿＿＿＿ m

11　2km250m + 800m =

＿＿＿ km ＿＿＿＿＿ m

12　3km600m − 800m =

＿＿＿ km ＿＿＿＿＿ m

いちごドリル プリント

つづきの無料プリント
「小3の長さ」のプリント一覧がひらきます

小3 長さ とっくんドリル③-5

長さのたし算とひき算　全12問

なまえ ＿＿＿＿＿＿＿＿

ひづけ ＿＿＿＿＿＿＿＿

下線には数だけ書く（たんいは書いてある）。kmの前の下線とmの前の下線に分けて書く

1　2km350m + 950m =

＿＿＿ km ＿＿＿＿＿ m

2　4km100m − 350m =

＿＿＿ km ＿＿＿＿＿ m

3　2km650m + 1km850m =

＿＿＿ km ＿＿＿＿＿ m

4　2km − 800m =

＿＿＿ km ＿＿＿＿＿ m

5　1km650m + 500m =

＿＿＿ km ＿＿＿＿＿ m

6　8km250m − 3km400m =

＿＿＿ km ＿＿＿＿＿ m

7　700m + 4km400m =

＿＿＿ km ＿＿＿＿＿ m

8　2km50m − 450m =

＿＿＿ km ＿＿＿＿＿ m

9　2km700m + 1km550m =

＿＿＿ km ＿＿＿＿＿ m

10　8km500m − 2km650m =

＿＿＿ km ＿＿＿＿＿ m

11　1km700m + 950m =

＿＿＿ km ＿＿＿＿＿ m

12　6km700m − 950m =

＿＿＿ km ＿＿＿＿＿ m

いちごドリル プリント

つづきの無料プリント
「小3の長さ」のプリント一覧がひらきます

小3 長さ そうごうテスト（その2）

全12問　100点

なまえ ＿＿＿＿＿＿＿＿

ひづけ ＿＿＿＿＿＿　/100

下線には数だけ書く（たんいは書いてある）。「たんいは どれかな？」の問題は、たんいを○でかこむ

8点

1 家から 学校までの
道のりは、何km何mですか。

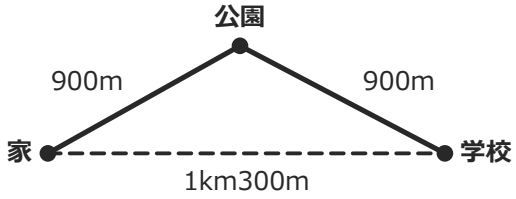

＿＿＿ km ＿＿＿＿ m

8点

2 やじるしが さす 目もりは、
何m何cmですか。

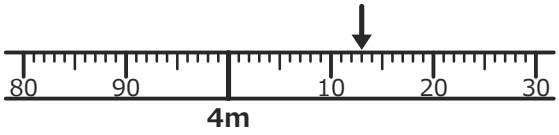

＿＿＿ m ＿＿＿ cm

8点

3 3km850m + 2km450m =

＿＿＿ km ＿＿＿＿ m

8点

4 7km90mは、
何mですか。

＿＿＿＿ m

8点

5 7km400m − 4km700m =

＿＿＿ km ＿＿＿＿ m

8点

6 水とうの 高さは 25（　）。
たんいは どれかな？

km　　cm　　m

8点

7 やじるしが さす 目もりは、
何m何cmですか。

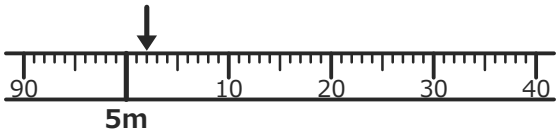

＿＿＿ m ＿＿＿ cm

8点

8 家から 駅までの
きょりは、何mですか。

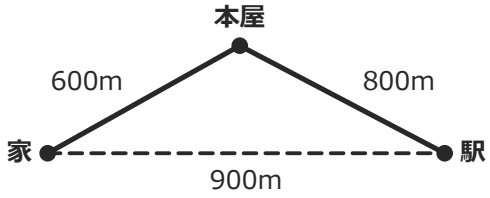

＿＿＿＿ m

9点

9 9km550m − 850m =

＿＿＿ km ＿＿＿＿ m

9点

10 3km450m + 900m =

＿＿＿ km ＿＿＿＿ m

9点

11 プールの たての 長さは
25（　）。たんいは どれかな？

m　　km　　cm

9点

12 3025mは、
何km何mですか。

＿＿＿ km ＿＿＿ m

いちごドリル プリント

つづきの無料プリント
「小3の長さ」のプリント一覧がひらきます

小3 長さ そうごうテスト（その3）

全12問　100点

なまえ ＿＿＿＿＿＿＿＿

ひづけ ＿＿＿＿＿＿　/100

下線には数だけ書く（たんいは書いてある）。「たんいは どれかな？」の問題は、たんいを○でかこむ

8点

1 7km350m − 1km600m ＝

＿＿＿ km ＿＿＿＿＿ m

8点

2 9km1mは、
何mですか。

＿＿＿＿＿ m

8点

3 やじるしが さす 目もりは、
何m何cmですか。

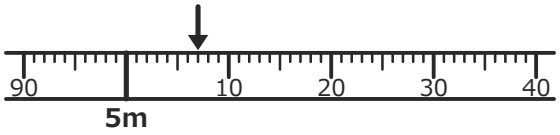

＿＿＿ m ＿＿＿ cm

8点

4 学校から 図書館までの
道のりは、何km何mですか。

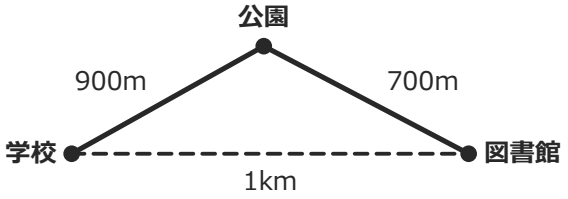

＿＿＿ km ＿＿＿＿＿ m

8点

5 新かんせんで 行った 道のりは
250（　）。たんいは どれかな？

m　　**cm**　　**km**

8点

6 3km600m ＋ 3km500m ＝

＿＿＿ km ＿＿＿＿＿ m

8点

7 9km − 700m ＝

＿＿＿ km ＿＿＿＿＿ m

8点

8 スプーンの 長さは 15（　）。
たんいは どれかな？

m　　**km**　　**cm**

9点

9 8004mは、
何km何mですか。

＿＿＿ km ＿＿＿ m

9点

10 3km900m ＋ 700m ＝

＿＿＿ km ＿＿＿＿＿ m

9点

11 やじるしが さす 目もりは、
何m何cmですか。

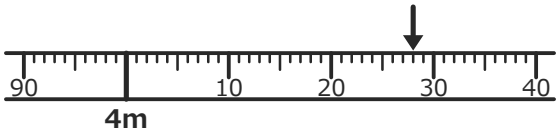

＿＿＿ m ＿＿＿ cm

9点

12 家から 病院までの
きょりは、何mですか。

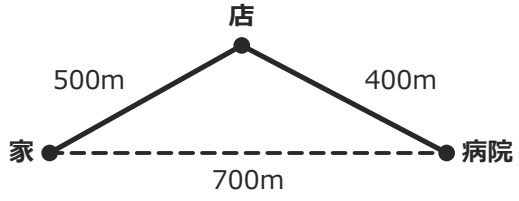

＿＿＿＿＿ m

いちごドリル プリント

つづきの無料プリント
「小3の長さ」のプリント一覧がひらきます

小3 長さ そうごうテスト（その4）

全12問　100点

なまえ ＿＿＿＿＿＿＿＿

ひづけ ＿＿＿＿＿＿　/100

下線には数だけ書く（たんいは書いてある）。「たんいは どれかな？」の問題は、たんいを○でかこむ

8点

1 やじるしが さす 目もりは、
何m何cmですか。

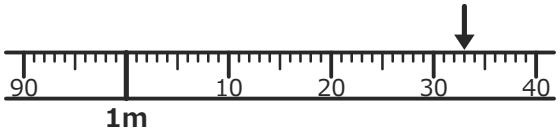

＿＿＿ m ＿＿＿ cm

8点

2 駅から 学校までの
道のりは、何km何mですか。

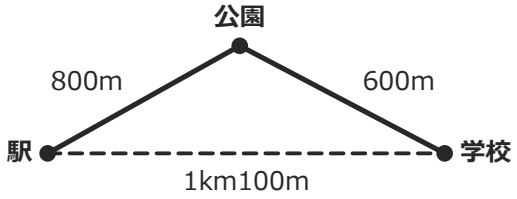

＿＿＿ km ＿＿＿＿ m

8点

3 校しゃの 高さは 15（　）。
たんいは どれかな？

cm　　m　　km

8点

4 6km700m − 3km800m ＝

＿＿＿ km ＿＿＿＿ m

8点

5 6km54mは、
何mですか。

＿＿＿＿ m

8点

6 2km950m ＋ 1km250m ＝

＿＿＿ km ＿＿＿＿ m

8点

7 となりの 町までの 道のりは
10（　）。たんいは どれかな？

km　　cm　　m

8点

8 5km400m − 550m ＝

＿＿＿ km ＿＿＿＿ m

9点

9 2km900m ＋ 850m ＝

＿＿＿ km ＿＿＿＿ m

9点

10 5086mは、
何km何mですか。

＿＿＿ km ＿＿＿ m

9点

11 家から 公園までの
きょりは、何mですか。

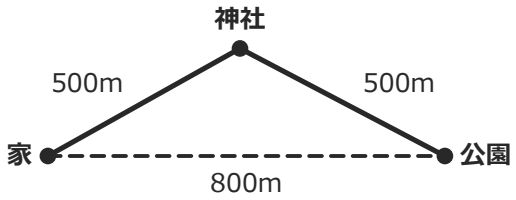

＿＿＿＿ m

9点

12 やじるしが さす 目もりは、
何m何cmですか。

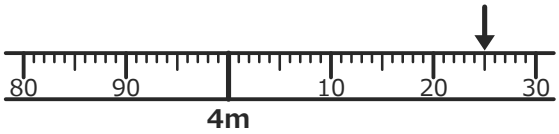

＿＿＿ m ＿＿＿ cm

いちごドリル プリント

つづきの無料プリント
「小3の長さ」のプリント一覧がひらきます

小3 長さ そうごうテスト（その5）

全12問　100点

なまえ ＿＿＿＿＿＿＿＿

ひづけ ＿＿＿＿＿＿　/100

下線には数だけ書く（たんいは書いてある）。「たんいは どれかな？」の問題は、たんいを○でかこむ

8点

1 学校から 家までの
道のりは、何km何mですか。

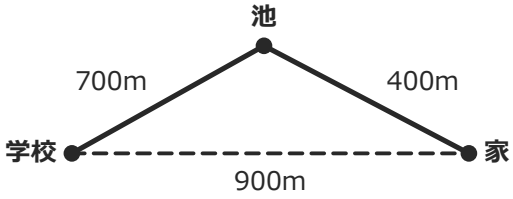

＿＿＿ km ＿＿＿＿ m

8点

2 やじるしが さす 目もりは、
何m何cmですか。

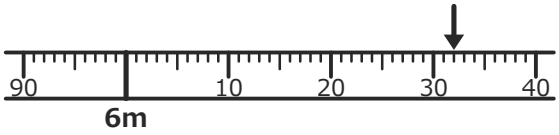

＿＿＿ m ＿＿＿ cm

8点

3 9km50m − 3km300m ＝

＿＿＿ km ＿＿＿＿ m

8点

4 くつの 長さは 20（　）。
たんいは どれかな？

km　　**cm**　　**m**

8点

5 850m ＋ 3km600m ＝

＿＿＿ km ＿＿＿＿ m

8点

6 6km7mは、
何mですか。

＿＿＿＿ m

8点

7 3km650m − 750m ＝

＿＿＿ km ＿＿＿＿ m

8点

8 2km650m ＋ 900m ＝

＿＿＿ km ＿＿＿＿ m

9点

9 やじるしが さす 目もりは、
何m何cmですか。

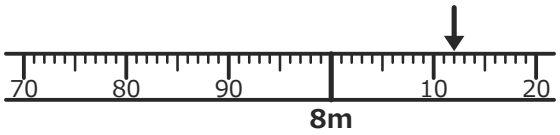

＿＿＿ m ＿＿＿ cm

9点

10 家から 駅までの
きょりは、何km何mですか。

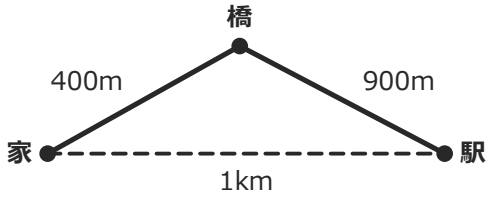

＿＿＿ km ＿＿＿＿ m

9点

11 8001mは、
何km何mですか。

＿＿＿ km ＿＿＿ m

9点

12 大きな 木の 高さは 9（　）。
たんいは どれかな？

m　　**cm**　　**km**

いちごドリル プリント

つづきの無料プリント
「小3の長さ」のプリント一覧がひらきます