小3 長さ そうごうテスト（その5）

全12問　100点

なまえ ＿＿＿＿＿＿＿＿

ひづけ ＿＿＿＿＿＿　/100

下線には数だけ書く（たんいは書いてある）。「たんいは どれかな？」の問題は、たんいを○でかこむ

8点

1 学校から 家までの
道のりは、何km何mですか。

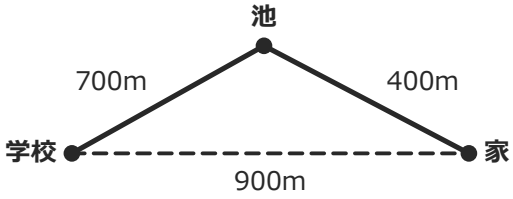

＿＿＿ km ＿＿＿＿ m

8点

2 やじるしが さす 目もりは、
何m何cmですか。

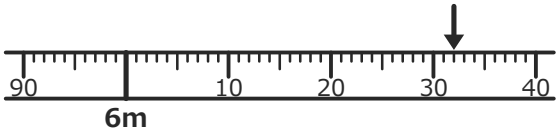

＿＿＿ m ＿＿＿ cm

8点

3 9km50m − 3km300m ＝

＿＿＿ km ＿＿＿＿ m

8点

4 くつの 長さは 20（　）。
たんいは どれかな？

km　　**cm**　　**m**

8点

5 850m ＋ 3km600m ＝

＿＿＿ km ＿＿＿＿ m

8点

6 6km7mは、
何mですか。

＿＿＿＿ m

8点

7 3km650m − 750m ＝

＿＿＿ km ＿＿＿＿ m

8点

8 2km650m ＋ 900m ＝

＿＿＿ km ＿＿＿＿ m

9点

9 やじるしが さす 目もりは、
何m何cmですか。

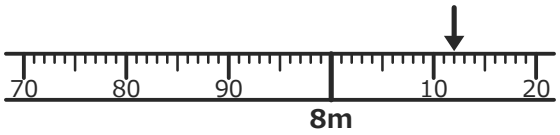

＿＿＿ m ＿＿＿ cm

9点

10 家から 駅までの
きょりは、何km何mですか。

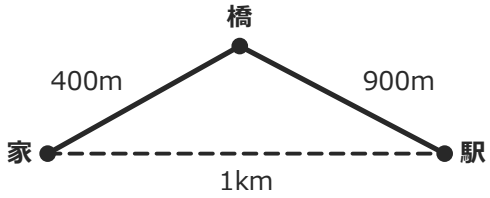

＿＿＿ km ＿＿＿＿ m

9点

11 8001mは、
何km何mですか。

＿＿＿ km ＿＿＿ m

9点

12 大きな 木の 高さは 9（　）。
たんいは どれかな？

m　　**cm**　　**km**

いちごドリル プリント

つづきの無料プリント
「小3の長さ」のプリント一覧がひらきます

小3 長さ そうごうテスト（その5）【こたえ】

なまえ ＿＿＿＿＿＿＿＿

全12問　100点

ひづけ ＿＿＿＿＿＿　/100

つまずき①　kmとmのなおし方

2問とも×→つまずき　1問だけ×→うっかりかも

問6 6007m

6km7mは何m

よくある×：67m

6km＝6000m

6000＋7＝6007m

問11 8km1m

8001mは何km何m

よくある×：8km10m

8000m＝8km

のこり1m

→ 8km1m

つまずき：mのけたを見ずに、0を入れない・入れすぎる

まちがえたら→「練習プリント①」→「とっくんドリル①」

問6の考え方：1km＝1000m

6000m＋7m＝6007m

つまずき②　まきじゃくの目もりの読み方

2問とも×→つまずき　1問だけ×→うっかりかも

問2 6m32cm

まきじゃくの目もり

よくある×：32cm

1目もり1cm

6mと32cm

→ 6m32cm

問9 8m12cm

まきじゃくの目もり

よくある×：12cm

1目もり1cm

8mと12cm

→ 8m12cm

つまずき：1mをこえたあとの数字を、そのままcmと読み、mを入れない

まちがえたら→「練習プリント②」→「とっくんドリル②」

問2の考え方：1目もりは1cm

6mの目もりから32目もりで6m32cm

つまずき③　道のりときょりのちがい

2問とも×→つまずき　1問だけ×→うっかりかも

問1 1km100m

学校から家までの道のり

よくある×：900m

道にそった長さ

700＋400＝1100m

→ 1km100m

問10 1km0m

家から駅までのきょり

よくある×：1km300m

まっすぐはかった長さ

→ 1km

つまずき：道にそってはかった長さ（道のり）と、まっすぐはかった長さ（きょり）を取りちがえる

まちがえたら→「練習プリント③」→「とっくんドリル②」

問1の考え方：道のりは道にそった長さ

700m＋400m＝1100m＝1km100m

つまずき④　長さのたし算のくり上がり

2問とも×→つまずき　1問だけ×→うっかりかも

問5 4km450m

850m＋3km600m

よくある×：3km1450m

850＋600＝1450m

＝1km450m

→ 4km450m

問8 3km550m

2km650m＋900m

よくある×：2km1550m

650＋900＝1550m

＝1km550m

→ 3km550m

つまずき：mが1000をこえても、1kmにくり上げない

まちがえたら→「練習プリント④」→「とっくんドリル③」

問5の考え方：850m＋600m＝1km450m

3＋1＝4km

つまずき⑤　長さのたんいえらび

2問とも×→つまずき　1問だけ×→うっかりかも

問4 cm

くつの 長さは20（　）

よくある×：m

20cmくらい

問12 m

大きな 木の 高さは9（　）

よくある×：cm

9mくらい

つまずき：長さの見当をつけずに、たんいをえらぶ

まちがえたら→「練習プリント⑤」→「とっくんドリル①」

問4の考え方：手で持てるものは、cmで表す

つまずき⑥　長さのひき算のくり下がり

2問とも×→つまずき　1問だけ×→うっかりかも

問3 5km750m

9km50m−3km300m

よくある×：6km250m

9km50m＝8km1050m

1050−300＝750m

→ 5km750m

問7 2km900m

3km650m−750m

よくある×：3km100m

3km650m＝2km1650m

1650−750＝900m

→ 2km900m

つまずき：mがひけないとき、大きい方から小さい方をひく

まちがえたら→「練習プリント⑥」→「とっくんドリル③」

問3の考え方：1kmを1000mにする

1050m−300m＝750m

8km−3km＝5km