小3 長さ そうごうテスト（その5）

全12問　100点

なまえ ＿＿＿＿＿＿＿＿

ひづけ ＿＿＿＿＿＿　/100

下線には数だけ書く（たんいは書いてある）。「たんいは どれかな？」の問題は、たんいを○でかこむ

8点

1 学校から 家までの
道のりは、何km何mですか。

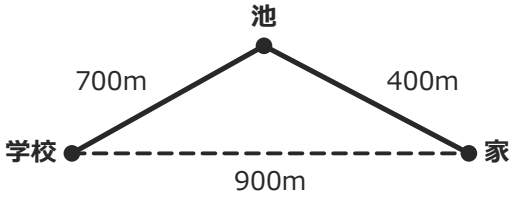

＿＿＿ km ＿＿＿＿ m

8点

2 やじるしが さす 目もりは、
何m何cmですか。

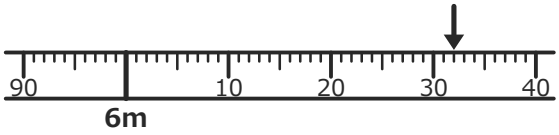

＿＿＿ m ＿＿＿ cm

8点

3 9km50m − 3km300m ＝

＿＿＿ km ＿＿＿＿ m

8点

4 くつの 長さは 20（　）。
たんいは どれかな？

km　　**cm**　　**m**

8点

5 850m ＋ 3km600m ＝

＿＿＿ km ＿＿＿＿ m

8点

6 6km7mは、
何mですか。

＿＿＿＿ m

8点

7 3km650m − 750m ＝

＿＿＿ km ＿＿＿＿ m

8点

8 2km650m ＋ 900m ＝

＿＿＿ km ＿＿＿＿ m

9点

9 やじるしが さす 目もりは、
何m何cmですか。

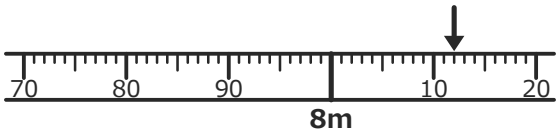

＿＿＿ m ＿＿＿ cm

9点

10 家から 駅までの
きょりは、何km何mですか。

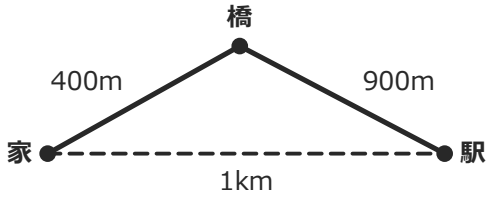

＿＿＿ km ＿＿＿＿ m

9点

11 8001mは、
何km何mですか。

＿＿＿ km ＿＿＿ m

9点

12 大きな 木の 高さは 9（　）。
たんいは どれかな？

m　　**cm**　　**km**

いちごドリル プリント

つづきの無料プリント
「小3の長さ」のプリント一覧がひらきます