小3 長さ そうごうテスト（その4）

全12問　100点

なまえ ＿＿＿＿＿＿＿＿

ひづけ ＿＿＿＿＿＿　/100

下線には数だけ書く（たんいは書いてある）。「たんいは どれかな？」の問題は、たんいを○でかこむ

8点

1 やじるしが さす 目もりは、
何m何cmですか。

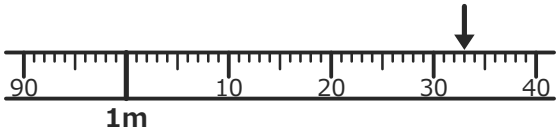

＿＿＿ m ＿＿＿ cm

8点

2 駅から 学校までの
道のりは、何km何mですか。

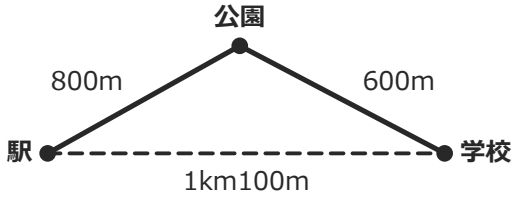

＿＿＿ km ＿＿＿＿ m

8点

3 校しゃの 高さは 15（　）。
たんいは どれかな？

cm　　m　　km

8点

4 6km700m − 3km800m ＝

＿＿＿ km ＿＿＿＿ m

8点

5 6km54mは、
何mですか。

＿＿＿＿ m

8点

6 2km950m ＋ 1km250m ＝

＿＿＿ km ＿＿＿＿ m

8点

7 となりの 町までの 道のりは
10（　）。たんいは どれかな？

km　　cm　　m

8点

8 5km400m − 550m ＝

＿＿＿ km ＿＿＿＿ m

9点

9 2km900m ＋ 850m ＝

＿＿＿ km ＿＿＿＿ m

9点

10 5086mは、
何km何mですか。

＿＿＿ km ＿＿＿ m

9点

11 家から 公園までの
きょりは、何mですか。

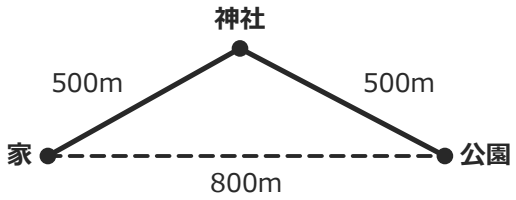

＿＿＿＿ m

9点

12 やじるしが さす 目もりは、
何m何cmですか。

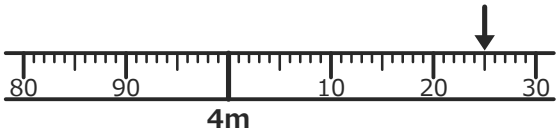

＿＿＿ m ＿＿＿ cm

いちごドリル プリント

つづきの無料プリント
「小3の長さ」のプリント一覧がひらきます