小3 長さ そうごうテスト（その3）

全12問　100点

なまえ ＿＿＿＿＿＿＿＿

ひづけ ＿＿＿＿＿＿　/100

下線には数だけ書く（たんいは書いてある）。「たんいは どれかな？」の問題は、たんいを○でかこむ

8点

1 7km350m − 1km600m ＝

＿＿＿ km ＿＿＿＿＿ m

8点

2 9km1mは、
何mですか。

＿＿＿＿＿ m

8点

3 やじるしが さす 目もりは、
何m何cmですか。

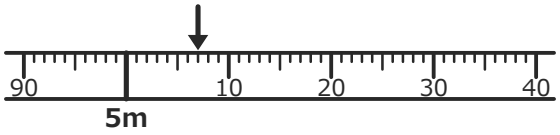

＿＿＿ m ＿＿＿ cm

8点

4 学校から 図書館までの
道のりは、何km何mですか。

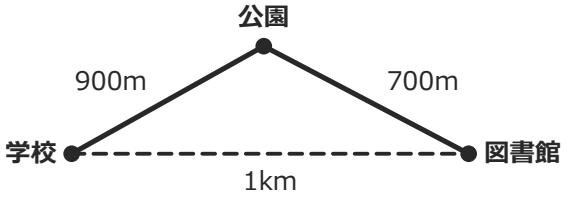

＿＿＿ km ＿＿＿＿＿ m

8点

5 新かんせんで 行った 道のりは
250（　）。たんいは どれかな？

m　　**cm**　　**km**

8点

6 3km600m ＋ 3km500m ＝

＿＿＿ km ＿＿＿＿＿ m

8点

7 9km − 700m ＝

＿＿＿ km ＿＿＿＿＿ m

8点

8 スプーンの 長さは 15（　）。
たんいは どれかな？

m　　**km**　　**cm**

9点

9 8004mは、
何km何mですか。

＿＿＿ km ＿＿＿ m

9点

10 3km900m ＋ 700m ＝

＿＿＿ km ＿＿＿＿＿ m

9点

11 やじるしが さす 目もりは、
何m何cmですか。

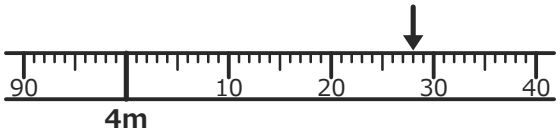

＿＿＿ m ＿＿＿ cm

9点

12 家から 病院までの
きょりは、何mですか。

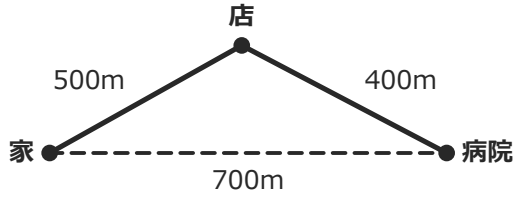

＿＿＿＿＿ m

いちごドリル プリント

つづきの無料プリント
「小3の長さ」のプリント一覧がひらきます

小3 長さ そうごうテスト（その3）【こたえ】

なまえ ＿＿＿＿＿＿＿＿

全12問　100点

ひづけ ＿＿＿＿＿＿　/100

つまずき①　kmとmのなおし方

2問とも×→つまずき　1問だけ×→うっかりかも

問2 9001m

9km1mは何m

よくある×：91m

9km＝9000m

9000＋1＝9001m

問9 8km4m

8004mは何km何m

よくある×：8km40m

8000m＝8km

のこり4m

→ 8km4m

つまずき：mのけたを見ずに、0を入れない・入れすぎる

まちがえたら→「練習プリント①」→「とっくんドリル①」

問2の考え方：1km＝1000m

9000m＋1m＝9001m

つまずき②　まきじゃくの目もりの読み方

2問とも×→つまずき　1問だけ×→うっかりかも

問3 5m7cm

まきじゃくの目もり

よくある×：7cm

1目もり1cm

5mと7cm

→ 5m7cm

問11 4m28cm

まきじゃくの目もり

よくある×：28cm

1目もり1cm

4mと28cm

→ 4m28cm

つまずき：1mをこえたあとの数字を、そのままcmと読み、mを入れない

まちがえたら→「練習プリント②」→「とっくんドリル②」

問3の考え方：1目もりは1cm

5mの目もりから7目もりで5m7cm

つまずき③　道のりときょりのちがい

2問とも×→つまずき　1問だけ×→うっかりかも

問4 1km600m

学校から図書館までの道のり

よくある×：1km

道にそった長さ

900＋700＝1600m

→ 1km600m

問12 700m

家から病院までのきょり

よくある×：900m

まっすぐはかった長さ

→ 700m

つまずき：道にそってはかった長さ（道のり）と、まっすぐはかった長さ（きょり）を取りちがえる

まちがえたら→「練習プリント③」→「とっくんドリル②」

問4の考え方：道のりは道にそった長さ

900m＋700m＝1600m＝1km600m

つまずき④　長さのたし算のくり上がり

2問とも×→つまずき　1問だけ×→うっかりかも

問6 7km100m

3km600m＋3km500m

よくある×：6km1100m

600＋500＝1100m

＝1km100m

→ 7km100m

問10 4km600m

3km900m＋700m

よくある×：3km1600m

900＋700＝1600m

＝1km600m

→ 4km600m

つまずき：mが1000をこえても、1kmにくり上げない

まちがえたら→「練習プリント④」→「とっくんドリル③」

問6の考え方：600m＋500m＝1km100m

3＋3＋1＝7km

つまずき⑤　長さのたんいえらび

2問とも×→つまずき　1問だけ×→うっかりかも

問5 km

新かんせんで 行った

道のりは250（　）

よくある×：m

250kmくらい

問8 cm

スプーンの 長さは15（　）

よくある×：m

15cmくらい

つまずき：長さの見当をつけずに、たんいをえらぶ

まちがえたら→「練習プリント⑤」→「とっくんドリル①」

問5の考え方：遠くまでの道のりは、kmで表す

つまずき⑥　長さのひき算のくり下がり

2問とも×→つまずき　1問だけ×→うっかりかも

問1 5km750m

7km350m−1km600m

よくある×：6km250m

7km350m＝6km1350m

1350−600＝750m

→ 5km750m

問7 8km300m

9km−700m

よくある×：9km700m

9km＝8km1000m

1000−700＝300m

→ 8km300m

つまずき：mがひけないとき、大きい方から小さい方をひく

まちがえたら→「練習プリント⑥」→「とっくんドリル③」

問1の考え方：1kmを1000mにする

1350m−600m＝750m

6km−1km＝5km