小3 長さ そうごうテスト（その3）

全12問　100点

なまえ ＿＿＿＿＿＿＿＿

ひづけ ＿＿＿＿＿＿　/100

下線には数だけ書く（たんいは書いてある）。「たんいは どれかな？」の問題は、たんいを○でかこむ

8点

1 7km350m − 1km600m ＝

＿＿＿ km ＿＿＿＿＿ m

8点

2 9km1mは、
何mですか。

＿＿＿＿＿ m

8点

3 やじるしが さす 目もりは、
何m何cmですか。

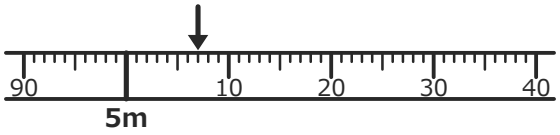

＿＿＿ m ＿＿＿ cm

8点

4 学校から 図書館までの
道のりは、何km何mですか。

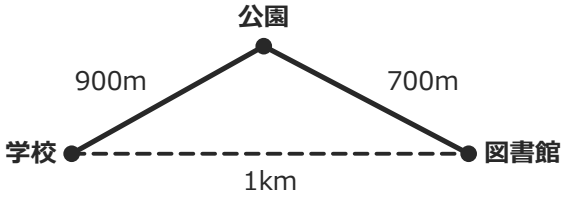

＿＿＿ km ＿＿＿＿＿ m

8点

5 新かんせんで 行った 道のりは
250（　）。たんいは どれかな？

m　　**cm**　　**km**

8点

6 3km600m ＋ 3km500m ＝

＿＿＿ km ＿＿＿＿＿ m

8点

7 9km − 700m ＝

＿＿＿ km ＿＿＿＿＿ m

8点

8 スプーンの 長さは 15（　）。
たんいは どれかな？

m　　**km**　　**cm**

9点

9 8004mは、
何km何mですか。

＿＿＿ km ＿＿＿ m

9点

10 3km900m ＋ 700m ＝

＿＿＿ km ＿＿＿＿＿ m

9点

11 やじるしが さす 目もりは、
何m何cmですか。

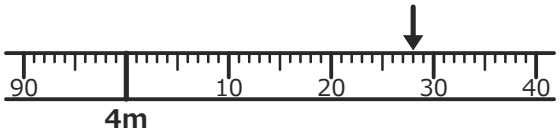

＿＿＿ m ＿＿＿ cm

9点

12 家から 病院までの
きょりは、何mですか。

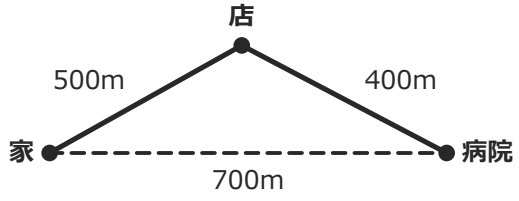

＿＿＿＿＿ m

いちごドリル プリント

つづきの無料プリント
「小3の長さ」のプリント一覧がひらきます