小3 長さ そうごうテスト（その2）

全12問　100点

なまえ ＿＿＿＿＿＿＿＿

ひづけ ＿＿＿＿＿＿　/100

下線には数だけ書く（たんいは書いてある）。「たんいは どれかな？」の問題は、たんいを○でかこむ

8点

1 家から 学校までの
道のりは、何km何mですか。

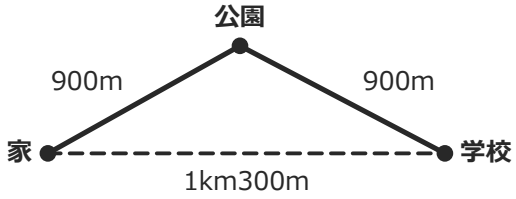

＿＿＿ km ＿＿＿＿ m

8点

2 やじるしが さす 目もりは、
何m何cmですか。

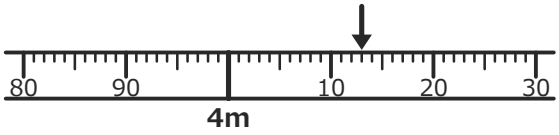

＿＿＿ m ＿＿＿ cm

8点

3 3km850m + 2km450m =

＿＿＿ km ＿＿＿＿ m

8点

4 7km90mは、
何mですか。

＿＿＿＿ m

8点

5 7km400m − 4km700m =

＿＿＿ km ＿＿＿＿ m

8点

6 水とうの 高さは 25（　）。
たんいは どれかな？

km　　cm　　m

8点

7 やじるしが さす 目もりは、
何m何cmですか。

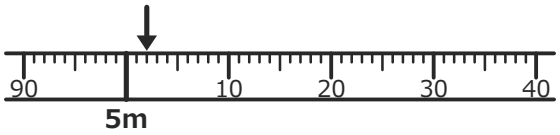

＿＿＿ m ＿＿＿ cm

8点

8 家から 駅までの
きょりは、何mですか。

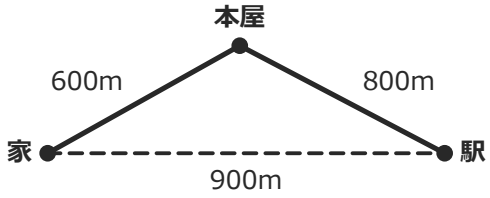

＿＿＿＿ m

9点

9 9km550m − 850m =

＿＿＿ km ＿＿＿＿ m

9点

10 3km450m + 900m =

＿＿＿ km ＿＿＿＿ m

9点

11 プールの たての 長さは
25（　）。たんいは どれかな？

m　　km　　cm

9点

12 3025mは、
何km何mですか。

＿＿＿ km ＿＿＿ m

いちごドリル プリント

つづきの無料プリント
「小3の長さ」のプリント一覧がひらきます

小3 長さ そうごうテスト（その2）【こたえ】

なまえ ＿＿＿＿＿＿＿＿

全12問　100点

ひづけ ＿＿＿＿＿＿　/100

つまずき①　kmとmのなおし方

2問とも×→つまずき　1問だけ×→うっかりかも

問4 7090m

7km90mは何m

よくある×：790m

7km＝7000m

7000＋90＝7090m

問12 3km25m

3025mは何km何m

よくある×：3km250m

3000m＝3km

のこり25m

→ 3km25m

つまずき：mのけたを見ずに、0を入れない・入れすぎる

まちがえたら→「練習プリント①」→「とっくんドリル①」

問4の考え方：1km＝1000m

7000m＋90m＝7090m

つまずき②　まきじゃくの目もりの読み方

2問とも×→つまずき　1問だけ×→うっかりかも

問2 4m13cm

まきじゃくの目もり

よくある×：13cm

1目もり1cm

4mと13cm

→ 4m13cm

問7 5m2cm

まきじゃくの目もり

よくある×：2cm

1目もり1cm

5mと2cm

→ 5m2cm

つまずき：1mをこえたあとの数字を、そのままcmと読み、mを入れない

まちがえたら→「練習プリント②」→「とっくんドリル②」

問2の考え方：1目もりは1cm

4mの目もりから13目もりで4m13cm

つまずき③　道のりときょりのちがい

2問とも×→つまずき　1問だけ×→うっかりかも

問1 1km800m

家から学校までの道のり

よくある×：1km300m

道にそった長さ

900＋900＝1800m

→ 1km800m

問8 900m

家から駅までのきょり

よくある×：1km400m

まっすぐはかった長さ

→ 900m

つまずき：道にそってはかった長さ（道のり）と、まっすぐはかった長さ（きょり）を取りちがえる

まちがえたら→「練習プリント③」→「とっくんドリル②」

問1の考え方：道のりは道にそった長さ

900m＋900m＝1800m＝1km800m

つまずき④　長さのたし算のくり上がり

2問とも×→つまずき　1問だけ×→うっかりかも

問3 6km300m

3km850m＋2km450m

よくある×：5km1300m

850＋450＝1300m

＝1km300m

→ 6km300m

問10 4km350m

3km450m＋900m

よくある×：3km1350m

450＋900＝1350m

＝1km350m

→ 4km350m

つまずき：mが1000をこえても、1kmにくり上げない

まちがえたら→「練習プリント④」→「とっくんドリル③」

問3の考え方：850m＋450m＝1km300m

3＋2＋1＝6km

つまずき⑤　長さのたんいえらび

2問とも×→つまずき　1問だけ×→うっかりかも

問6 cm

水とうの 高さは25（　）

よくある×：m

25cmくらい

問11 m

プールの たての

長さは25（　）

よくある×：cm

25mくらい

つまずき：長さの見当をつけずに、たんいをえらぶ

まちがえたら→「練習プリント⑤」→「とっくんドリル①」

問6の考え方：手で持てるものは、cmで表す

つまずき⑥　長さのひき算のくり下がり

2問とも×→つまずき　1問だけ×→うっかりかも

問5 2km700m

7km400m−4km700m

よくある×：3km300m

7km400m＝6km1400m

1400−700＝700m

→ 2km700m

問9 8km700m

9km550m−850m

よくある×：9km300m

9km550m＝8km1550m

1550−850＝700m

→ 8km700m

つまずき：mがひけないとき、大きい方から小さい方をひく

まちがえたら→「練習プリント⑥」→「とっくんドリル③」

問5の考え方：1kmを1000mにする

1400m−700m＝700m

6km−4km＝2km