小3 長さ そうごうテスト（その2）

全12問　100点

なまえ ＿＿＿＿＿＿＿＿

ひづけ ＿＿＿＿＿＿　/100

下線には数だけ書く（たんいは書いてある）。「たんいは どれかな？」の問題は、たんいを○でかこむ

8点

1 家から 学校までの
道のりは、何km何mですか。

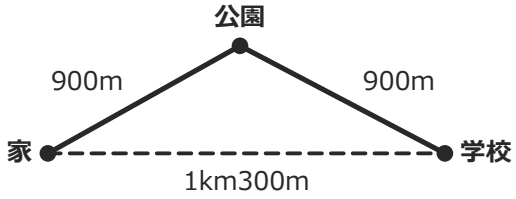

＿＿＿ km ＿＿＿＿ m

8点

2 やじるしが さす 目もりは、
何m何cmですか。

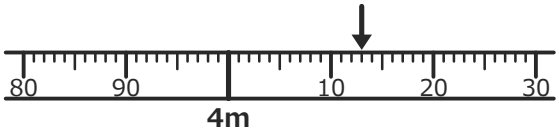

＿＿＿ m ＿＿＿ cm

8点

3 3km850m + 2km450m =

＿＿＿ km ＿＿＿＿ m

8点

4 7km90mは、
何mですか。

＿＿＿＿ m

8点

5 7km400m − 4km700m =

＿＿＿ km ＿＿＿＿ m

8点

6 水とうの 高さは 25（　）。
たんいは どれかな？

km　　cm　　m

8点

7 やじるしが さす 目もりは、
何m何cmですか。

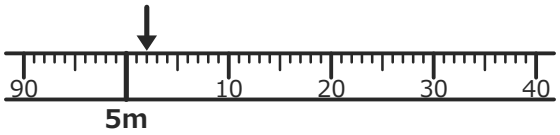

＿＿＿ m ＿＿＿ cm

8点

8 家から 駅までの
きょりは、何mですか。

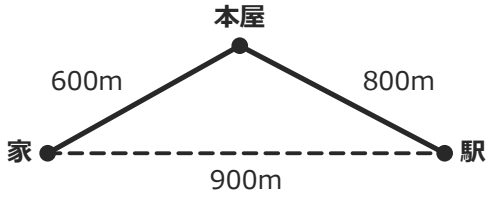

＿＿＿＿ m

9点

9 9km550m − 850m =

＿＿＿ km ＿＿＿＿ m

9点

10 3km450m + 900m =

＿＿＿ km ＿＿＿＿ m

9点

11 プールの たての 長さは
25（　）。たんいは どれかな？

m　　km　　cm

9点

12 3025mは、
何km何mですか。

＿＿＿ km ＿＿＿ m

いちごドリル プリント

つづきの無料プリント
「小3の長さ」のプリント一覧がひらきます